Section 1 - PART A

No. of Questions: 60

1) Three of the four following words belong to the same group or class in a certain manner. Find the odd one out. / निम्नलिखित चार शब्दों में से तीन एक निश्चित तरीके से एक ही समूह या वर्ग से संबंधित हैं। विषम का ज्ञात करें।

A) Keypad / छोटा कुंजीपटल

B) Screen / स्क्रीन

C) Battery / बैटरी

D) Program / क्रमादेश

---

2) If CFDG is coded as SOHH, then find the code for EHJO. / यदि CFDG को SOHH के रूप में कूट बद्ध किया जाता है तो, EHJO के लिए कूट ज्ञात करें।

A) UOPO

B) UNIW

C) UIWP

D) UQNP

---

3) A,B,C,D,E and F are the six members of the family. There are two married couples in the family. Each of them like different ice-cream flavours viz Vanilla, Mango, Butterscotch, Strawberry, Blackcurrant and Chocolate. A's wife likes Vanilla. E's daughter-in-law likes Mango. F's daughter likes Strawberry and his son likes Chocolate. If the youngest boy in the family is B, then the youngest girl doesn't seem to be D. The eldest person in the family likes Butterscotch, then who is C? /

A, B, C, D, E और F एक परिवार के छः सदस्य हैं। परिवार में दो विवाहित जोड़े हैं। उनमें से हर एक को अलग अलग आइसक्रीम के स्वाद पसंद हैं नामशः वैनिला, मैंगो, बटरस्कॉच, स्ट्रॉबेरी, ब्लैक करन्ट और चॉकलेट। A की पत्नी को वैनिला पसंद है। E की बहू को मैंगो पसंद है। F की बेटी को स्ट्रॉबेरी पसंद है और बेटे को चॉकलेट पसंद है। अगर परिवार में सबसे कम उम्र का लड़का B है तो, सबसे कम उम्र की लड़की D नहीं हो सकती है। परिवार में उम्र में सबसे बड़े व्यक्ति को बटरस्कॉच पसंद है, तो C कौन है?

A) Son of A / A का बेटा

B) Granddaughter of E / E की पोती

C) Brother of B / B का भाई

D) Sister of D / D की बहन

4) There are three words given here. The first two words are related in a certain manner. Select the proper word among the given four alternatives which bears the same relationship with the third word as in the manner first and second words are related.

Vitamin-A : Colour Blindness :: Vitamin -D : ?

/

यहाँ पर तीन शब्द दिए गए हैं। पहले दो शब्द एक निश्चित शैली से संबंधित हैं। दिए गए चार विकल्पों में से उस सही शब्द का चयन करें, जो तीसरे शब्द से वैसा ही संबंध रखता हो, जैसा कि पहले और दूसरे शब्द संबंध रखते हों।

विटामिन-A : वर्णान्धता :: विटामिन -D : ?

A) Pellagra / पेलाग्रा

B) Scurvy / स्कर्वी

C) Rickets / सूखा रोग

D) Anaemia / रक्ताल्पता

---

5) There are three words given here. The first two words are related in a certain manner. Select the proper word among the given four alternatives which bears the same relationship with the third word as in the manner first and second words are related.

Ductility : Wire :: Malleability : ?

/

यहाँ तीन शब्द दिए गए हैं। पहले दो शब्द एक निश्चित तरीके से संबंधित हैं। दिए गए चार विकल्पों में से उस उचित शब्द का चयन करें जो तीसरे शब्द के साथ उसी प्रकार से संबंधित हो जिस तरीके से पहला और दूसरा शब्द संबंधित हैं।

तन्यता : तार :: सुनिर्माणनीयता : ?

A) Sheets / शीट

B) Aerosols / ऐरोसॉल

C) Gel / जेल

D) Powder / पाउडर

6) If "HISTOGRAM" is written as "JLXAZTITJ", then "CLUSTER" is written as: / यदि "HISTOGRAM" को "JLXAZTITJ" के रूप में लिखा जाता है, तो "CLUSTER" को कैसे लिखा जाएगा?

A) EOZZRYA

B) EOZZYRI

C) EOZZARY

D) EOZYRAZ

Following are the eligibility criteria for recruiting a Trekking guide by a company in Manali. The applicant should: (i) be a citizen of India. (ii) have knowledge of the terrain of the region. (iii) have work permit to work in India. (iv) have no criminal record. (v) have a valid first aid certificate. (vi) be less than 30 years of age. In the case of a candidate who satisfies all the conditions: (a) If NOT (i), but is a citizen of Bhutan or Nepal, then he will be referred to the Executive Director of the company. (b) If NOT (iii), but has a Valid Passport issued by the country to which he/she may belong, then he will be referred to the Chief Executive Officer of the company. (c) If NOT (vi), but has an experience as a Trekking Guide of 2 years, then he will be referred to the Vice-President of the company. In each of the questions below information of a candidate is given. He/she may be eligible under one or more of the criteria. You have to take one of the following four decisions based on the information provided and the conditions given above.	मनाली में एक कंपनी द्वारा ट्रेकिंग गाइड की भर्ती के लिए पात्रता मापदंड निम्नलिखित हैं। आवेदक को: (i) भारत का नागरिक होना चाहिए। (ii) क्षेत्र के भू-भाग का ज्ञान होना चाहिए। (iii) भारत में काम करने के लिए वर्क परमिट होना चाहिए। (iv) कोई आपराधिक रिकॉर्ड नहीं होना चाहिए। (v) एक वैध प्राथमिक चिकित्सा प्रमाण पत्र धारक होना चाहिए। (vi) 30 साल से कम उम्र का होना चाहिए। अगर एक उम्मीदवार सभी शर्तों को पूरा करता है: (a) सिवाय (i) के, लेकिन भूटान या नेपाल का नागरिक है तो, उसे कंपनी के कार्यपालक निदेशक के पास भेजा जाएगा। (b) सिवाय (iii) के, लेकिन उसके पास उसके संबंधित देश द्वारा जारी किया गया एक वैध पासपोर्ट है तो, उसे कंपनी के मुख्य कार्यपालन अधिकारी के पास भेजा जाएगा। (c) सिवाय (vi) के, लेकिन एक ट्रेकिंग गाइड के रूप में 2 साल का अनुभव है तो, उसे कंपनी के उपाध्यक्ष के पास भेजा जाएगा। नीचे दिए गए प्रत्येक प्रश्न में एक उम्मीदवार की जानकारी दी गई है। वह मापदंडों में से एक या एक से अधिक के तहत पात्र हो सकता/सकती है।

	आपको उपलब्ध कराई गई जानकारी व उपरोक्त शर्तों के आधार पर निम्नांकित चार फैसलों में से एक लेना होगा।

7) Candidate Information : Donald Jackson is a 20 year old boy from Argentina. He has no criminal record and a valid passport. He is on a study tour to India. He should be: / उम्मीदवार की जानकारी: डोनॉल्ड जैक्सन अर्जेंटीना से एक 20 साल का लड़का है। उसका कोई आपराधिक रिकॉर्ड और एक वैध पासपोर्ट नहीं है। वह भारत में एक अध्ययन भ्रमण पर है। उसे

A) Selected / चयन करना चाहिए

B) Rejected / चयन नहीं करना चाहिए

C) be referred to the Vice - President / उपाध्यक्ष के पास भेजना चाहिए

D) referred to the Chief Executive Officer / मुख्य कार्यपालन अधिकारी के पास भेजना चाहिए

---

8) The sum of interior angles of a regular polygon is 1800 deg. The number of sides of the polygon is / नियत बहुभुज के अभ्यांतर कोणों का योग 1800 डिग्री है। बहुभुज की भुजाओं की संख्या कितनी है?

A) 12

B) 18

C) 10

D) 16

---

9) Sana is shorter than Gopi. Govind is shorter than Nisha, Gopi is Shorter than Govind. Sana is taller than Rama. If all of them stand in ascending order of their heights, then what is the position of Gopi?

/

सना, गोपी की तुलना में कद में छोटी है। गोविंद, निशा की तुलना में कद में छोटा है, गोपी, गोविंद की तुलना में कद में छोटा है। सना, रामा की तुलना में लम्बी है। अगर सभी अपने उंचाई के आरोही क्रम में खड़े होते हैं तो, गोपी का पोज़िशन क्या है?

A) Last / आखिरी

B) Second last / आखिर से दूसरा

C) First / प्रथम

D) In the middle / बीच में

10) Three of the four following words belong to the same group or class in a certain manner. Find the odd one out. / निम्नलिखित चार शब्दों में से तीन एक निश्चित तरीके से एक ही समूह या वर्ग से संबंधित हैं। विषम का ज्ञात करें।

A) Dollar / डॉलर

B) Ringgit / रिंगित

C) Coins / सिक्के

D) Lira / लीरा

11) "TRIUMPH" is written as "QUJTNOI". How is "CONQUEST" written? / "TRIUMPH" को "QUJTNOI" के रूप में लिखा जाता है। "CONQUEST" को कैसे लिखा जाएगा?

A) DNOPVDTS

B) DNPOVDTS

C) DNOVPDTS

D) DNOPDVTS

12) Among the given group of 4 images, which set of images can be classified as a group? / दिए गए 4 चित्रों में से, चित्रों के किस समुच्चय को एक समूह में वर्गीकृत किया जा सकता है?

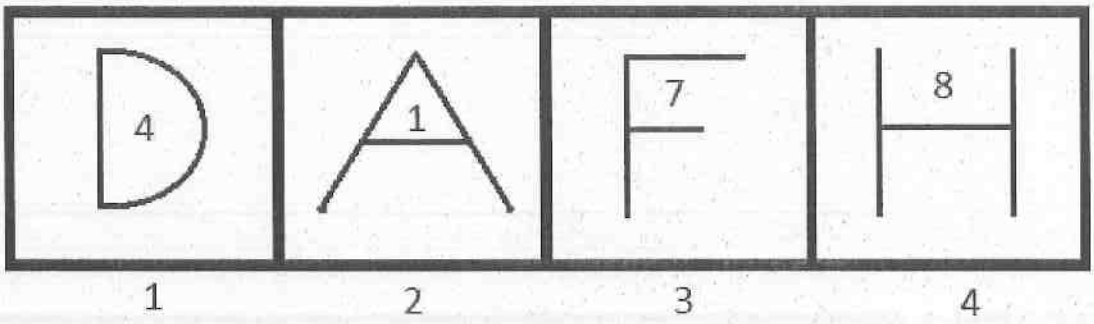

A) (1, 2, 3)

B) (1, 2, 4)

C) (2, 3, 4)

D) (1, 3, 4)

13) A dice is taken. Numbers from 1 to 6 are written on its faces. The faces with numbers 1 and 4 are adjacent to each other. Number 6 is on the face opposite to the face with number 3. Number 2 is not on the face opposite to face with number 4. Based on this information, answer the questions that follow.

Which of the number/numbers would be adjacent to the number 3?

/

एक पांसा लिया जाता है। 1 से 6 तक की संख्या उसके फलक पर लिखे जाते हैं। संख्या 1 और 4 के फलक एक दूसरे के सन्निकट हैं। संख्या 3 वाला फलक संख्या 6 वाले फलक के विपरीत है। संख्या 2, संख्या 4 वाले फलक के विपरीत फलक में नहीं है। इस जानकारी के आधार पर, नीचे दिए गए प्रश्नों के उत्तर दें।

इन संख्याओं में से कौन सी संख्या/संख्याएँ 3 के सन्निकट हो सकती है/हैं?

A) 4 only / केवल 4

B) 6 only / केवल 6

C) Both 1 and 4 / दोनों 1 और 4

D) 1 only / केवल 1

---

14) Among the given four options, three are related in a way. Select the option that is odd one out. / दिए गए चार विकल्पों में, तीन एक निश्चित तरीके से संबंधित हैं। उस विकल्प का चयन करें जो उनमें भिन्न है।

A) Shares / शेयर्स

B) Files / फ़ाइलें

C) Debentures / डिबेंचर

D) Mutual Funds / म्युचुअल फंड

---

15) Below are given three different views of a dice on which alphabets from A to F are written on its faces. Which alphabet would be on the bottom face when viewed from leftmost view? / नीचे एक पासे के तीन अलग अलग दृश्य (व्यू) दिए गए हैं जिसके हर तरफ A से F लिखा गया है। बाएं व्यू से देखने पर तलीय पक्ष पर कौन सा वर्ण होना चाहिए?

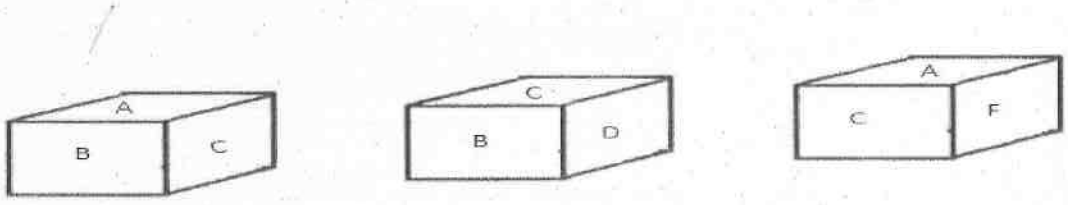

A) F

B) B

C) D

D) E

16) Find the next term in the sequence: A2C, D5F, G8I,_____./ क्रम में अगला वर्ण ज्ञात करें: A2C, D5F, G8I, _____.

A) I10K

B) J11L

C) J10L

D) I11L

17) Find the missing number in the series given below. / नीचे दिए गए श्रृंखला में अनुपस्थित संख्या ज्ञात करें।
32, 23, 14, 5, -4, ?

A) -13

B) -11

C) -10

D) -12

18) Fill the missing number in the sequence given below. / नीचे दिए गए अनुक्रम में अनुपस्थित संख्या भरें।
2, 3, 4/3, 9/2, 8/9, ?

A) 9/8

B) 27/4

C) 8/9

D) 4/9

19) In a circle, two different diameters are drawn. In how many parts will the circle get divided? / एक वृत में, दो अलग व्यास खींचे गए . वृत कितने भागों में विभाजित होगा?

A) 1

B) 2

C) 4

D) 8

20) P is 30% of Q and Q is 20% of R. Then, which of the following is true? / P, Q का 30% है तथा Q, R का 20% है। तो निम्नांकित में से कौन सही है?

A) R is five times Q / R, Q का पांच गुना है

B) P and R are equal / P तथा R समान है

C) P is ten times Q / P, Q का दस गुना है

D) P is half of R / P, R का आधा है

---

21) Suraj has Rs.1050 in the denominations of five-rupee notes, ten-rupee notes and twenty-rupee notes. There are equal number of notes of each denomination. How many notes does he have totally ? / सूरज के पास रु 1050 में पांच रु. के नोट, दस रु. के नोट और बीस रु. के नोट हैं। हरेक मूल्य के नोटों की संख्या समान है। उसके पास नोटों की कुल कितनी संख्या है?

A) 105

B) 30

C) 35

D) 90

---

22) On the top of an International Airport, flags of various countries furl. The Japanese flag is placed 6th from the left and 56th from the right. Find the total number of flags. / एक अंतरराष्ट्रीय हवाई अड्डे के शीर्ष पर विभिन्न देशों के झंडे फर्ल करते हैं। जापानी झंडा बाईं ओर से 6वाँ है और दाईं ओर से 56वाँ है। झंडे की कुल संख्या ज्ञात करें।

A) 59

B) 66

C) 63

D) 61

---

23) Sana is shorter than Gopi. Govind is shorter than Nisha, Gopi is Shorter than Govind. Sana is taller than Rama. Who among them is next to the shortest one? / सना, गोपी की तुलना में कद में छोटी है। गोविंद, निशा की तुलना में कद में छोटा है, गोपी, गोविंद की तुलना में कद में छोटा है। सना, रामा की तुलना में लम्बी है। उनमें से कौन कद में सबसे छोटे व्यक्ति के बाद में आता है?

A) Govind / गोविंद

B) Gopi / गोपी

C) Sana / सना

D) Rama / रामा

Following are the conditions for selection of translator in various departments of the government in India. The candidate must:	निम्नलिखित भारत सरकार के विभिन्न विभागों में अनुवादक के चयन के लिए शर्तें हैं। उम्मीदवार को:
(i) be a graduate in any discipline with atleast 65% marks.	(i) कम से कम 65% अंकों के साथ किसी भी विषय में ग्रेजुएट होना चाहिए।
(ii) have the ability to read, write and speak Hindi and English besides the regional language of the state to which he/she belongs.	(ii) अपने राज्य के क्षेत्रीय भाषा के अलावा हिंदी और अंग्रेजी पढ़ने, लिखने और बोलने की क्षमता होनी चाहिए।
(iii) be less than 30 years of age.	(iii) 30 वर्ष से कम आयु होना चाहिए।
(iv) must have Indian Passport.	(iv) भारतीय पासपोर्ट होना आवश्यक है।
In the case of a candidate who satisfies all the conditions:	अगर एक उम्मीदवार सभी शर्तों को पूरा करता है:
(A) EXCEPT (i) above, but has a post graduation degree, then his/her case may be referred to State Employment Officer.	(A) सिवाय उपरोक्त (i) के, लेकिन एक पोस्ट-ग्रेजुएशन की डिग्री है तो, उसके मामले को राज्य रोजगार अधिकारी को भेजा जाए।
(B) EXCEPT (iii) above, but has experience of 3 years after post-graduation, then the case may be referred to Personal assistant, State Employment Officer.	(B) सिवाय उपरोक्त (iii) के, लेकिन पोस्ट-ग्रेजुएशन के बाद 3 साल का अनुभव है तो, मामले को निजी सहायक, राज्य रोजगार अधिकारी को भेजा जाए।
Based on the above information and criteria given in each of the following questions, you have to take decision. These cases are given to you as on 1st September, 2016.	उपरोक्त जानकारी और नीचे दिए गए प्रत्येक प्रश्न में दिए गए मापदंडों के आधार पर आपको निर्णय लेना होगा। ए सभी मामले आपको सितंबर 1, 2016 की तारीख को दिए गए हैं।

24) Miss Rosy, who is 23 years old, belongs to Mizoram and secured 56% marks in her graduation. She doesn't have PG. She knows to read, write and speak Hindi, English and Mizo. She has an Indian Passport. She must be :
/

कुमारी रोसी जिसकी आयु 23 वर्ष है, मिजोरम की रहने वाली है और उसने अपने ग्रेजुएशन में 56% अंक हासिल किए हैं। उसके पास PG नहीं है। वह हिन्दी, अंग्रेजी और मिज़ो पढ़ना, लिखना और बोलना जानती है। उसके पास भारतीय पासपोर्ट है। उसे

A) referred to Personal Assistant, State Employment Officer / निजी सहायक, राज्य रोजगार अधिकारी के पास भेजा जाना चाहिए
B) selected / चुना जाना चाहिए
C) referred to State Employment Officer. / राज्य रोजगार अधिकारी के पास भेजा जाना चाहिए
D) rejected / नहीं चुना जाना चाहिए

25) There are three words given here. The first two words are related in a certain manner. Select the proper word among the given four alternatives which bears the same relationship with the third word as in the manner first and second words are related.

Narendra Modi : Prime Minister :: Francois Hollande : _____

/

यहाँ तीन शब्द दिए गए हैं। पहले दो शब्द एक निश्चित तरीके से संबंधित हैं। दिए गए चार विकल्पों में से उस उचित शब्द का चयन करें जो तीसरे शब्द के साथ उसी प्रकार से संबंधित हो जिस तरीके से पहला और दूसरा शब्द संबंधित हैं।

नरेंद्र मोदी : प्रधानमंत्री :: फ्रेंकोइस हौलेंदे : _____

A) Vice President / उपराष्ट्रपति

B) Foreign Secretary / विदेश सचिव

C) Prime Minister / प्रधानमंत्री

D) President / राष्ट्रपति

---

26) A,B,C,D,E and F are the six members of the family. There are two married couples in the family. Each of them like different ice-cream flavours viz Vanilla, Mango, Butterscotch, Strawberry, Blackcurrant and Chocolate. A's wife likes Vanilla. E's daughter-in-law likes Mango. F's daughter likes Strawberry and his son likes Chocolate. If the youngest boy in the family is B, then the youngest girl doesn't seem to be D. The eldest person in the family likes Butterscotch. If all of them are arranged according (ascending order) to their ages, then who will be the first male in the list ?

/

A, B, C, D, E और F एक परिवार के छः सदस्य हैं। परिवार में दो विवाहित जोड़े हैं। उनमें से हर एक को अलग अलग आइसक्रीम के स्वाद पसंद हैं नामशः वैनिला, मैंगो, बटरस्कॉच, स्ट्रॉबेरी, ब्लैक करन्ट और चॉकलेट। A की पत्नी को वैनिला पसंद है। E की बहू को मैंगो पसंद है। F की बेटी को स्ट्रॉबेरी पसंद है और बेटे को चॉकलेट पसंद है। अगर परिवार में सबसे कम उम्र का लड़का B है तो, सबसे कम उम्र की लड़की D नहीं हो सकती है। परिवार में उम्र में सबसे बड़े व्यक्ति को बटरस्कॉच पसंद है। अगर उन सभी को उनकी उम्र के हिसाब से क्रमित (आरोही क्रम) किया जाए तो, सूची में पहला पुरुष कौन होगा?

A) The one who likes Blackcurrant / वो जो ब्लैक करन्ट पसंद करता है

B) B

C) The one who likes Butterscotch / वो जो बटरस्कॉच पसंद करता है

D) A

27) There are three words given here. The first two words are related in a certain manner. Select the proper word among the given four alternatives which bears the same relationship with the third word as in the manner first and second words are related.

Saffron : Strength and Courage :: Green : _____

/

यहाँ तीन शब्द दिए गए हैं। पहले दो शब्द एक निश्चित तरीके से संबंधित हैं। दिए गए चार विकल्पों में से उस उचित शब्द का चयन करें जो तीसरे शब्द के साथ उसी प्रकार से संबंधित हो जिस तरीके से पहला और दूसरा शब्द संबंधित हैं।

केसर : शक्ति और साहस :: हरा : _____

A) Fertility and auspiciousness of the land / भूमि का उपजाऊपन और शुभ

B) Truth / सत्य

C) Peace / शांति

D) Democracy / जनतंत्र

---

28) A figure is given on the left with a pattern. Observe and find which of the three images on the right looks similar to the right half of this pattern? / बाईं ओर एक पैटर्न के साथ एक चित्र दी गई है। ध्यानपूर्वक देखिए और बताइए कि दाईं ओर की तीन चित्रों में से कौन इस पैटर्न के दाएँ अर्ध हिस्से के समान दिखाई पड़ती है?

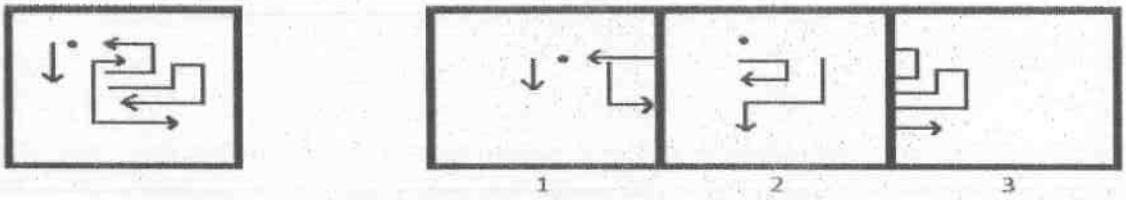

A) 2

B) Both 1 and 2 / 1 और 2 दोनों

C) 1

D) 3

---

29) A tree grows by 1/10th of its height. If it stands 100 cm high at present, then after 3 years it will be (approximately) / एक पेड़ अपनी लम्बाई का 1/10 वाँ भाग बढ़ता है। यदि इसकी ऊँचाई इस समय 100 सेमी है, तो 3 वर्ष के बाद यह कितना ऊँचा हो जाएगा (लगभग)?

A) 121 cm / 121 सेमी

B) 110 cm / 110 सेमी

C) 142 cm / 142 सेमी

D) 133 cm / 133 सेमी

30) The paper sheet given below is cut along the dotted line. How many edges will the resultant paper sheet in the middle have? / नीचे दी गई पेपर शीट को बिंदीदार रेखा के साथ फोल्ड किया गया है। परिणामी पेपर शीट में कितने किनारे होंगे?

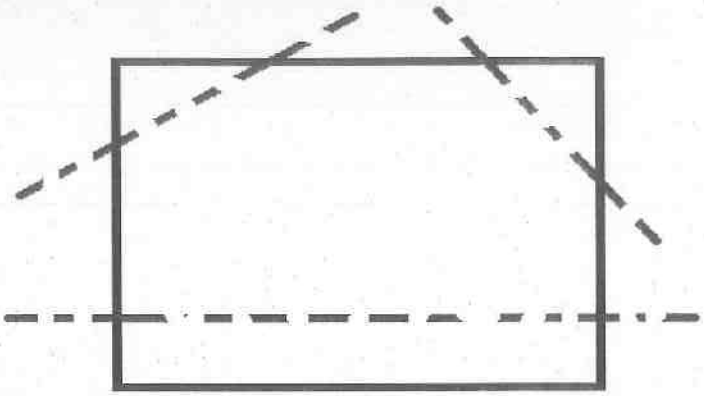

A) 6

B) 7

C) 5

D) 8

31) An image is made from multiple geometric figures (marked with numbers). In the image, some regions are formed. In each of these regions, as many dots are to be placed as the number of geometric figures that has this as a part. In total, how many dots will be placed in the image?

/

एक चित्र को कई ज्यामितीय आकृतियों से बनाया गया है (संख्याओं से चिह्नित)। चित्र में, कुछ क्षेत्रों को बनाया गया है। इस प्रत्येक क्षेत्र में, उतने ही बिंदु स्थापित करने हैं, जितनी ज्यामितीय आकृतियों की संख्या, जो इसका हिस्सा है। कुल मिलाकर, चित्र में कितने बिंदु स्थापित करने होंगे?

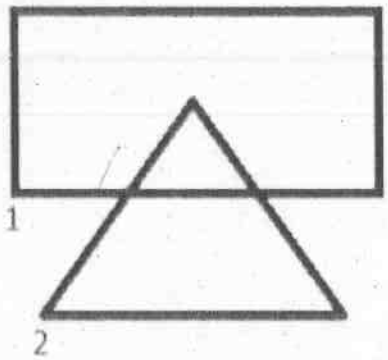

A) 10

B) 6

C) 4

D) 8

Following are the conditions for selection of an accounts officer in an organization. The candidate must : (i) be a graduate in Commerce with atleast 65% marks. (ii) have knowledge of Computers. (iii) be less than 30 years of age. (iv) must have scored more than 70% in Common Entrance Test (CET). In the case of a candidate who satisfies all the conditions : (A) Except (i) above, but has post qualification work experience of 3 years or more, his/her case may be referred to General Manager. (B) Except (iii) above, but has scored atleast 80% in CET, his/her case may be referred to Vice-President. Based on the above criteria and the information given below, you have to take decision.	संगठन में खाता अधिकारी के चयन के लिए निम्न शर्तें हैं। उम्मीदवार (i) कम से कम 65% अंकों के साथ वाणिज्य में स्नातक होना चाहिए। (ii) कंप्यूटर का ज्ञान होना चाहिए। (iii) 30 वर्ष से कम आयु का होना चाहिए। (iv) कॉमन एंट्रेंस टेस्ट (CET) में 70% से अधिक अंक प्राप्त होने चाहिए। इन सभी शर्तों को पूरा करने वाले उम्मीदवार के मामले में: (A) उपरोक्त में से (i) को छोड़कर, उम्मीदवार के पास अर्हता के बाद 3 या अधिक वर्षों का कार्य अनुभव है, उसके मामले को महाप्रबंधक को भेजा जा सकता है। (B) उपरोक्त में से (iii) को छोड़कर, CET में कम से कम 80% अंक प्राप्त हुए हैं, उसके मामले को उपराष्ट्रपति को भेजा जा सकता है। उपरोक्त मानदंडों और नीचे दी गई जानकारी के आधार पर आपको निर्णय लेना है।

32) These cases are given to you as on 1st June, 2016. Anup Shukla was born on 20-02-1987. He has secured 65% marks in graduation and has good proficiency in Computers. He has scored 75% in CET. He must be
/
यह मामले 1 जून 2016 की स्थिति के अनुसार आपको दिए गए हैं: अनूप शुक्ला का जन्म 20-02-1987 को हुआ था। उसने स्नातक में 65% अंक प्राप्त किए हैं और उसे कंप्यूटर में अच्छी प्रवीणता हासिल है। उसने CET में 75% अंक प्राप्त किए हैं। तो उसको:

A) rejected / अस्वीकृत करना चाहिए
B) referred to the Vice-President / उपराष्ट्रपति के पास भेजना चाहिए
C) selected / चयनित करना चाहिए
D) referred to the General Manager / महाप्रबंधक के पास भेजना चाहिए

33) Which of the given option will NOT share the same property as the elements of the given set: (256, 128, 512, 2048, 8192)?
/ प्रदत्त विकल्पों में से कौन सा एक दिए गए सेट: (256, 128, 512, 2048, 8192) के तत्वों जैसी प्रकृति को साझा नहीं करेगा?

A) 4096
B) 16
C) 192
D) 64

34) If the average of 5 consecutive odd numbers is 25, the difference between the largest and the smallest is / यदि 5 क्रमिक विषम संख्याओं का औसत 25 है, तो सबसे बड़ी और सबसे छोटी संख्या के बीच का अंतर क्या है?

A) 12

B) 5

C) 8

D) 10

Following are the eligibility criteria for recruiting a Trekking guide by a company in Manali. The applicant should: (i) be a citizen of India. (ii) have knowledge of the terrain of the region. (iii) have work permit to work in India. (iv) have no criminal record. (v) have a valid first aid certificate. (vi) be less than 30 years of age. In the case of a candidate who satisfies all the conditions: (a) If NOT (i), but is a citizen of Bhutan or Nepal, then he will be referred to the Executive Director of the company. (b) If NOT (iii), but has a Valid Passport issued by the country to which he/she may belong, then he will be referred to the Chief Executive Officer of the company. (c) If NOT (vi), but has an experience as a Trekking Guide of 2 years, then he will be referred to the Vice-President of the company. In each of the questions below information of a candidate is given. He/she may be eligible under one or more of the criteria. You have to take one of the following four decisions based on the information provided and the conditions given above.	मनाली में एक कंपनी द्वारा ट्रेकिंग गाइड की भर्ती के लिए पात्रता मापदंड निम्नलिखित हैं। आवेदक को: (i) भारत का नागरिक होना चाहिए। (ii) क्षेत्र के भू-भाग का ज्ञान होना चाहिए। (iii) भारत में काम करने के लिए वर्क परमिट होना चाहिए। (iv) कोई आपराधिक रिकॉर्ड नहीं होना चाहिए। (v) एक वैध प्राथमिक चिकित्सा प्रमाण पत्र धारक होना चाहिए। (vi) 30 साल से कम उम्र का होना चाहिए। अगर एक उम्मीदवार सभी शर्तों को पूरा करता है: (a) सिवाय (i) के, लेकिन भूटान या नेपाल का नागरिक है तो, उसे कंपनी के कार्यपालक निदेशक के पास भेजा जाएगा। (b) सिवाय (iii) के, लेकिन उसके पास उसके संबंधित देश द्वारा जारी किया गया एक वैध पासपोर्ट है तो, उसे कंपनी के मुख्य कार्यपालन अधिकारी के पास भेजा जाएगा। (c) सिवाय (vi) के, लेकिन एक ट्रेकिंग गाइड के रूप में 2 साल का अनुभव है तो, उसे कंपनी के उपाध्यक्ष के पास भेजा जाएगा। नीचे दिए गए प्रत्येक प्रश्न में एक उम्मीदवार की जानकारी दी गई है। वह मापदंडों में से एक या एक से अधिक के तहत पात्र हो सकता/सकती है। आपको उपलब्ध कराई गई जानकारी व उपरोक्त शर्तों के आधार पर निम्नांकित चार फैसलों में से एक लेना होगा।

35) Candidate Information : Salman Pathan is a 39 year old man from Shimla. He has a valid first aid certificate and a work permit to work in India. He has no criminal record and has worked for a trekking firm for 5 years. He is well acquainted with the hilly terrain of Himalayan region. He should be:

/

उम्मीदवार की जानकारी: सलमान पठान शिमला से एक 39 वर्षीय व्यक्ति है। उसके पास वैध प्राथमिक चिकित्सा प्रमाण पत्र और भारत में काम करने के लिए वर्क परमिट है। उसका कोई आपराधिक रिकार्ड नहीं है और उसने 5 साल के लिए एक ट्रेकिंग फर्म के लिए काम किया है। वह हिमालय क्षेत्र के पहाड़ी भू-भाग से अच्छी तरह से परिचित है। उसे

A) Rejected / चयन नहीं करना चाहिए

B) Selected / चयन करना चाहिए

C) be referred to the Vice - President / उपाध्यक्ष के पास भेजना चाहिए

D) be referred to the Chief Executive Officer / मुख्य कार्यपालन अधिकारी के पास भेजना चाहिए

---

36) Among the given four options, three are related in a way. Select the option that is odd one out. / दिए गए चार विकल्पों में, तीन एक निश्चित तरीके से संबंधित हैं। उस विकल्प का चयन करें जो उनमें भिन्न है।

A) XYS289

B) FGH678

C) BGA271

D) CFE365

---

37) Find the missing number in the series given below. / नीचे दिए गए श्रृंखला में अनुपस्थित संख्या ज्ञात करें।

625, 624, 599, -26, ?

A) -15650

B) -15660

C) -15645

D) -15651

---

38) What number should come next in the series given below? / नीचे दिए गए श्रृंखला में अगली संख्या कौनसी आनी चाहिए?

5, 22, 17, 10, 29, -2, 41, ?

A) -15

B) -14

C) -13

D) -16

39) Average temperature for Thursday, Friday and Saturday is 40°C and for Friday, Saturday and Sunday it is 42°C. What is the temperature on Sunday, if temperature on Thursday is 32°C? / गुरुवार, शुक्रवार और शनिवार का औसत तापमान 40°C है और शुक्रवार, शनिवार और रविवार के लिए औसत तापमान 42°C है। यदि गुरुवार को तापमान 32°C था, तो रविवार को तापमान, क्या है?

A) 38°C

B) 34°C

C) 40°C

D) 32°C

40) The paper sheet given below is folded along the given dotted line(s) in the sequence as mentioned. First fold is made along the dotted line 1, then along the dotted line 2 and so on. How many edges would the shape in the resultant paper sheet have, after the folds?

/

नीचे दिए गए पेपर शीट को उल्लिखित अनुक्रम में दिए गए बिन्दुओं की रेखा(ओं) के समानांतर मोड़ा जाता है। पहला मोड़ बिन्दुओं की रेखा 1 के समानांतर किया जाता है, फिर बिन्दुओं की रेखा 2 के समानांतर और इत्यादि। मोड़ के बाद परिणामी पेपर शीट में कितने किनारे होंगे?

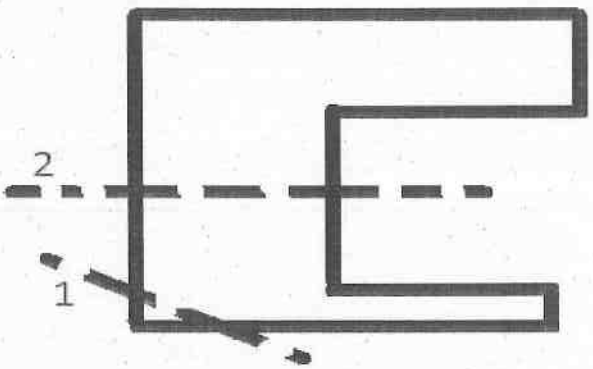

A) 6

B) 5

C) 8

D) 7

41) On a dice with numbers written from 1 to 6 on its faces, 4 is written adjacent to 1, 2, 3 and 6. What number is written opposite to number 4? / एक पांसे के फलक पर लिखी हुई संख्या 1 से 6 तक, संख्या 4 संख्या 1, 2, 3 और 6 के सन्निकट लिखी गई है। संख्या 4 के विपरीत कौन सी संख्या लिखी गई है?

A) 2

B) 6

C) 5

D) 3

42) Among the given four options, three are related in a way. Select the option that is odd one out. / दिए गए चार विकल्पों में, तीन एक निश्चित तरीके से संबंधित हैं। उस विकल्प का चयन करें जो उनमें भिन्न है।

A) CH24

B) EF30

C) IJ90

D) AT21

43) In a certain code language, GEF is written as 85, then find the code for DAH. / एक निश्चित कूट-भाषा में GEF को 85 के रूप में लिखा जाता है तो, DAH के लिए कूट ज्ञात करें।

A) 76

B) 80

C) 64

D) 58

Following are the eligibility criteria for applying for the post of Software Engineer in a Multinational company. The candidate should: (i) be a graduate in engineering with atleast 75% aggregate marks. (ii) have a passport issued on his name. (iii) have fluency in English and any one out of French, Spanish or German. (iv) should be ready to work anywhere in India or abroad. (v) should have scored more than 65% marks in the selection interview. In the case of a candidate who satisfies all the conditions: (A) If NOT (i) above, but has scored more than 70% in Class XII, then the case may be referred to the Chief Executive Officer (CEO). (B) If NOT (v) above, but has a work experience of atleast 2 years, then the case may be referred to Managing Director.	एक बहुराष्ट्रीय कंपनी में सॉफ्टवेयर इंजीनियर के पद के लिए आवेदन करने के लिए पात्रता मानदंड निम्नलिखित हैं। उम्मीदवार: (i) को कम से कम 75% कुल अंक के साथ इंजीनियरिंग में ग्रेजुएट होना चाहिए। (ii) के नाम पर एक पासपोर्ट जारी किया होना चाहिए। (iii) को अंग्रेजी और इन में से किसी भी एक फ्रेंच, स्पेनिश या जर्मन में वाक्पटु होना चाहिए। (iv) को भारत में कहीं भी या विदेश में काम करने के लिए तैयार होना चाहिए। (v) को सेलेक्शन इंटरव्यू में 65% अंक से अधिक प्राप्त किया होना चाहिए। अगर एक उम्मीदवार सभी शर्तों को पूरा करता है: (A) सिवाय उपरोक्त (i) के, लेकिन बारहवीं कक्षा में 70% से अधिक प्राप्त किया है तो, मामला मुख्य कार्यपालन अधिकारी (CEO) को भेजा जाए। (B) सिवाय उपरोक्त (v) के, लेकिन कम से कम 2 साल का कार्य अनुभव है तो, मामला प्रबंध संचालक को भेजा जाए।

Based on the above information and criteria given in each of the following questions, you have to take decision.	उपरोक्त जानकारी और नीचे दिए गए प्रत्येक प्रश्न में दिए गए मापदंडों के आधार पर आपको निर्णय लेना होगा।

44) These cases are given to you as on 31st March, 2016.
Candidate's Information : Nikhil Kapadia, who is working as a software engineer in a company since 3 years, graduated with 77% marks. He has scored 56% marks in the selection interview. He went on a business trip to Germany last month. He has done a certificate course in spoken English and German. He is ready to work from anywhere in the world.
/
ये सभी मामले आपको मार्च 31, 2016 की तारीख को दिए गए हैं।
उम्मीदवार की जानकारी: निखिल कपाड़िया जो पिछले 3 साल से एक कंपनी में एक सॉफ्टवेयर इंजीनियर के रूप में काम कर रहा है, 77% अंकों के साथ ग्रेजुएट हुआ। उसने सेलेक्शन इंटरव्यू में 56% अंक प्राप्त किए हैं। वह पिछले महीने एक व्यापार यात्रा पर जर्मनी गया था। उसने स्पोकन अंग्रेजी और जर्मन में एक सर्टिफिकेट कोर्स किया है। वह दुनिया में कहीं से भी काम करने के लिए तैयार है। उसे

A) rejected / अस्वीकृत करना चाहिए
B) referred to the Managing director / प्रबंध संचालक के पास भेजा जाना चाहिए
C) referred to the CEO / CEO के पास भेजा जाना चाहिए
D) selected / चयन करना चाहिए

45) Select the option that is odd one out among the given four options. / उस विकल्प का चयन करें जो दिए गए चार विकल्पों के बीच असंगत/भिन्न है।

A) Indian Ocean / हिंद महासागर
B) Europe / यूरोप
C) Asia / एशिया
D) Africa / अफ्रीका

46) Which of the given option will NOT share the same property as the elements of the given set: (Mahanadi, Ganges, Godavari, Narmada)? / दिए गए विकल्पों में से कौन सा विकल्प उसी गुणस्वभाव को साझा नहीं करेगा जो दिए गए सेट के तत्व करते हैं: (महानदी, गंगा, गोदावरी, नर्मदा)

A) Satluj / सतलुज
B) Yamuna / यमुना
C) Kirindi / किरिंदी
D) Krishna / कृष्णा

Following are the conditions for selection of a Clerk in various departments of the Government of India.	भारत सरकार के विभिन्न विभागों में लिपिक के चयन के लिए निम्न शर्तें हैं।
The candidate must :	उम्मीदवार:
(i) be a graduate in any discipline with atleast 60% marks.	(i) कम से कम 60% अंकों के साथ किसी भी विषय में स्नातक होना चाहिए।
(ii) have the ability to read,write and speak Hindi and English.	(ii) हिंदी और अंग्रेजी पढ़ने, लिखने एवं बोलने में सक्षम होना चाहिए।
(iii) be less than 28 years of age.	(iii) आयु 28 से कम होनी चाहिए।
(iv) must have a bank account in any of the nationalised banks.	(iv) किसी भी राष्ट्रीयकृत बैंक में खाता होना चाहिए।
In the case of a candidate who satisfies all the conditions :	इन सभी शर्तों को पूरा करने वाले उम्मीदवार के मामले में:
(A) Except (i) above, but has post qualification work experience of 1 year, his/her case may be referred to Senior Employment Officer.	(A) उपरोक्त में से (i) को छोड़कर, उम्मीदवार के पास अर्हता के बाद 1 वर्ष का कार्य अनुभव है, उसके मामले को वरिष्ठ रोजगार अधिकारी को भेजा जा सकता है।
(B) Except (iii) above, but has scored atleast 80% in graduation, his/her case may be referred to Junior Employement Officer.	(B) उपरोक्त में से (ii) को छोड़कर, उम्मीदवार ने स्नातक में कम से कम 80% अंक प्राप्त किए हैं, उसके मामले को कनिष्ठ रोजगार अधिकारी को भेजा जा सकता है।
Based on the above criteria and the information given below, you have to take decision.	उपरोक्त मानदंडों और नीचे दी गई जानकारी के आधार पर, आपको निर्णय लेना है।

47) These cases are given to you as on 1st September, 2016. Disha Gupta, is a 24 year old fresher graduate who has secured 56% marks in engineering. She knows to read, write and speak English only. She is a savings bank account holder in a certain nationalised bank.

/

यह मामले 1 सितंबर 2016 की स्थिति के अनुसार आपको दिए गए हैं: 24 वर्षीय दिशा गुप्ता फ्रेशर स्नातक है जिसने इंजीनियरिंग में 56% अंक प्राप्त किए हैं। वह केवल अंग्रेजी पढ़ना, लिखना और बोलना जानती है। एक निश्चित राष्ट्रीयकृत बैंक में उसका बचत खाता है। तो उसको:

A) referred to the Junior Employment Officer. / कनिष्ठ रोजगार अधिकारी के पास भेजना चाहिए

B) referred to the Senior Employment Officer / वरिष्ठ रोजगार अधिकारी के पास भेजना चाहिए

C) selected / चयनित करना चाहिए

D) rejected / अस्वीकृत करना चाहिए

48) Here four words are given. Out of these, three are alike in a certain manner but the rest one is different. Choose the one which is different from the rest three. / यहां चार शब्द दिए गए हैं। इनमें से तीन निश्चित तरीके से एक जैसे हैं, पर एक शब्द भिन्न है। वह विकल्प चुनिए जो शेष तीनों से भिन्न हो।

A) Smell / गंध

B) Eyes / आंख

C) Hear / सुनना

D) Touch / छूना

49) A figure is given on the left with a pattern. Observe and find out which of the three images on the right looks similar to the right half of this pattern? / बाईं ओर एक पैटर्न के साथ एक चित्र दी गई है। ध्यानपूर्वक देखिए और बताइए कि दाईं ओर की तीन चित्रों में से कौन इस पैटर्न के दाएँ अर्ध हिस्से के समान दिखाई पड़ती है?

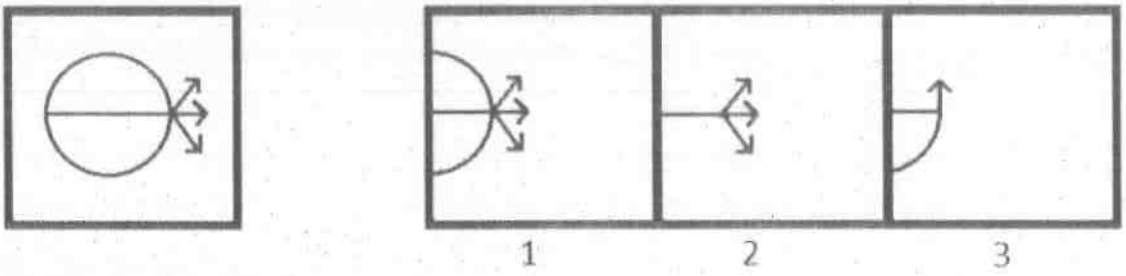

A) 3

B) Both 1 and 2 / 1 और 2 दोनों

C) 1

D) 2

50) In how many different sets can the given set be classified if classification is done on the basis of number of proper factors of term: (72, 196, 92, 84, 42)? / कितने भिन्न समुच्चयों में दिए गए समुच्चय को वर्गीकृत किया जा सकता है यदि वह वर्गीकरण पद के उचित गुणनखंडों की संख्या के आधार पर किया जाता है: (72, 196, 92, 84, 42)

A) 5

B) 2

C) 4

D) 3

51) An image is made from multiple geometric figures (marked with numbers). In the image, some regions are formed. In each of these regions, as many dots are to be placed as the number of geometric figures that intersect there. In total, how many dots will be placed in the image?

/

एक चित्र को कई ज्यामितीय आकृतियों से बनाया गया है(संख्याओं से चिह्नित)। चित्र में, कुछ क्षेत्रों को बनाया गया है। इस प्रत्येक क्षेत्र में, उतने ही बिंदु स्थापित करने हैं, जितनी ज्यामितीय आकृतियों की संख्या, जो प्रतिच्छेद करते हैं। कुल मिलाकर चित्र में कितने बिंदु स्थापित करने होंगे?

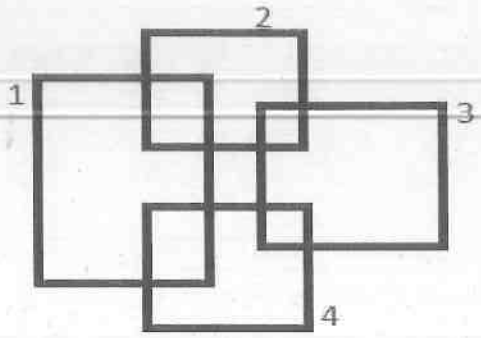

A) 8

B) 12

C) 14

D) 10

---

52) Introducing Meenakshi, Priya said, " She is the only daughter-in-law of paternal grandfather of my mother's only son." How is Priya related to Meenakshi ? / मीनाक्षी का परिचय देते हुए प्रिया ने कहा, "वह मेरी मां के इकलौते बेटे के दादा की इकलौती बहु है।" प्रिया का मीनाक्षी से क्या रिश्ता है?

A) Mother-in-law / सास

B) Granddaughter / पोती

C) Daughter / बेटी

D) Mother / मां

---

53) Pointing to a girl in the photograph, Sonam said, "Her mother is the only daughter of my grandfather." How is the girl related to Sonam? / फोटोग्राफ में एक लड़की ओर इशारा करते हुए, सोनम ने कहा, "उसकी मां मेरी दादा की इकलौती बेटी है।" उस लड़की का सोनम के साथ क्या रिश्ता है?

A) Mother / मां

B) Cousin / कजन

C) Can't be determined / निर्धारित नहीं किया जा सकता

D) Sister / बहन

54) What replaces the question mark (?) in the following number series? / निम्नलिखित संख्या श्रृंखला में प्रश्न चिह्न (?) का स्थान कौन लेगा?

2, -3, -11, -38, -157, ?

A) -800

B) -785

C) -790

D) -795

Following are the eligibility criteria for applying for the post of Software Engineer in a Multinational company. The candidate should: (i) be a graduate in engineering with atleast 75% aggregate marks. (ii) have a passport issued on his name. (iii) have fluency in English and any one out of French, Spanish or German. (iv) should be ready to work anywhere in India or abroad. (v) should have scored more than 65% marks in the selection interview.	एक बहुराष्ट्रीय कंपनी में सॉफ्टवेयर इंजीनियर के पद के लिए आवेदन करने के लिए पात्रता मानदंड निम्नलिखित हैं। उम्मीदवार: (i) को कम से कम 75% कुल अंक के साथ इंजीनियरिंग में ग्रेजुएट होना चाहिए। (ii) के नाम पर एक पासपोर्ट जारी किया होना चाहिए। (iii) को अंग्रेजी और इन में से किसी भी एक फ्रेंच, स्पेनिश या जर्मन में वाक्पटु होना चाहिए। (iv) को भारत में कहीं भी या विदेश में काम करने के लिए तैयार होना चाहिए। (v) को सेलेक्शन इंटरव्यू में 65% अंक से अधिक प्राप्त किया होना चाहिए।
In the case of a candidate who satisfies all the conditions: (A) If NOT (i) above, but has scored more than 70% in Class XII, then the case may be referred to the Chief Executive Officer (CEO). (B) If NOT (v) above, but has a work experience of atleast 2 years, then the case may be referred to Managing Director. Based on the above information and criteria given in each of the following questions, you have to take decision.	अगर एक उम्मीदवार सभी शर्तों को पूरा करता है: (A) सिवाय उपरोक्त (i) के, लेकिन बारहवीं कक्षा में 70% से अधिक प्राप्त किया है तो, मामला मुख्य कार्यपालन अधिकारी (CEO) को भेजा जाए। (B) सिवाय उपरोक्त (v) के, लेकिन कम से कम 2 साल का कार्य अनुभव है तो, मामला प्रबंध संचालक को भेजा जाए। उपरोक्त जानकारी और नीचे दिए गए प्रत्येक प्रश्न में दिए गए मापदंडों के आधार पर आपको निर्णय लेना होगा।

55) These cases are given to you as on 31st March, 2016.
Candidate's Information: Mahesh Patil is an arts graduate with 81% marks and 84% in the interview. He has lived in Spain for 5 years where he learned Spanish fluently. He knows English perfectly. He is ready to work only in abroad.
/
ये सभी मामले आपको मार्च 31, 2016 की तारीख को दिए गए हैं।
उम्मीदवार की जानकारी: महेश पाटिल 81% अंक के साथ एक आर्ट्स ग्रेजुएट है और उसने इंटरव्यू में 84% प्राप्त किए हैं। वह 5 साल के लिए स्पेन में रहा है जहां उसने स्पेनिश वाक्पटुता के साथ सीखा। वह अंग्रेजी पूरी तरह से जानता है। वह केवल विदेश में काम करने के लिए तैयार है। उसे

A) referred to the CEO / CEO के पास भेजा जाना चाहिए
B) rejected / अस्वीकृत करना चाहिए
C) referred to the Managing director / प्रबंध संचालक के पास भेजा जाना चाहिए
D) selected / चयन करना चाहिए

---

56) Among the given group of 4 images, which set of images can be classified as a group? / दिए गए 4 चित्रों में से, चित्रों के किस समुच्चय को एक समूह में वर्गीकृत किया जा सकता है?



A) (1, 3, 4)
B) (2, 3, 4)
C) (1, 2, 3)
D) (1, 2, 4)

---

57) A group of 21 women can fill a well in 10 days working 7 hours a day. 35 women can fill half of the well by working 3 hours a day in: / एक दिन में 7 घंटे काम करके 21 महिलाओं का एक समूह एक कुएं को 10 दिनों में भर सकती हैं। एक दिन में 3 घंटे काम करके 35 महिलाएं कुएं के आधे भाग को कितने दिनों में भर सकती हैं?

A) 28 days / 28 दिन
B) 7 days / 7 दिन
C) 3 days / 3 दिन
D) 12 days / 12 दिन

58) Three of the four following alphabets belong to the same group or class in a certain manner. Find the odd one out. / निम्नलिखित चार अक्षरों में से तीन एक निश्चित तरीके से एक ही समूह या वर्ग से संबंधित हैं। विषम ज्ञात करें।

A) X

B) C

C) Z

D) N

59) If "PARK" = 230 and "DRAB" = 125, then "FOSSIL" = ? / यदि "PARK" = 230 है और "DRAB" = 125 है, तो "FOSSIL" = ?

A) 300

B) 400

C) 350

D) 450

60) In a certain code, TFDP is coded as JCBH. What will be the code of the word LRBN? / एक निश्चित कूट में TFDP को JCBH के रूप में कूट बद्ध किया जाता है। शब्द LRBN का कूट क्या होगा?

A) SHDJ

B) FIAG

C) FIOW

D) FLOW

Section 2 - PART B

No. of Questions: 60

61) King Bhumibol Adulyadej of Thailand died in October 2016 becoming the longest-reigning monarch in Thai history by serving for more than how many years? / थाईलैंड के राजा भूमिबोल अदुल्यादेज ने कितने साल से अधिक सेवा कर, थाई इतिहास में सबसे लंबे समय तक राज सम्राट बनते हुए अक्टूबर 2016 में स्वर्गवासी हो गए?

A) 50 years / 50 साल

B) 30 years / 30 साल

C) 70 years / 70 साल

D) 80 years / 80 साल

---

62) Praveen had a bike accident. In the hospital the doctor dressed wounds using a red colour antiseptic which contained the non-metal called / प्रवीण की एक बाइक दुर्घटना हुई थी। अस्पताल में डॉक्टर ने लाल रंग के ऐंटिसेप्टिक के प्रयोग से पट्टी लगाई जिसमें एक अधातु शामिल होता है, उस धातु का नाम क्या है?

A) Chlorine / क्लोरीन

B) Iodine / आयोडीन

C) Bromine / ब्रोमीन

D) Sulphur / सल्फर

---

63) The Indian federal system called as 'Union of States' is based on federal model of which of the following countries? / भारतीय संघीय प्रणाली जो 'राज्यों के संघ' के रूप में जानी जाती है, निम्नलिखित में से किस देश के संघीय मॉडल पर आधारित है?

A) Australia / ऑस्ट्रेलिया

B) Britain / ब्रिटेन

C) Canada / कनाडा

D) New Zealand / न्यूजीलैंड

---

64) In July 2016, the 51st Jnanpith Award was conferred on / जुलाई 2016 में, 51 वें ज्ञानपीठ पुरस्कार से किसे सम्मानित किया गया?

A) Kedarnath Singh / केदारनाथ सिंह

B) Bhalchandra Nemade / भालचंद्र नेमाडे

C) Ravuri Bharadwaja / रावुरी भारद्वाज

D) Dr. Raghuveer Chaudhari / डॉ. रघुवीर चौधरी

65) In October 2016, Telangana's map was redrawn with the creation of how many new districts? / अक्टूबर 2016 में तेलंगाना के नक्शे को कितने नए ज़िलों के निर्माण के साथ दोबारा बनाया गया था?

A) 10

B) 31

C) 21

D) 29

66) An electric current of 8 Amperes is same as / 8 एम्पेयर का विद्युत प्रवाह किसके समान होता है?

A) 8 V/Coulombs / 8 वोल्ट/कूलंब

B) 8 Coulombs/Sec / 8 कूलंब/सेकंड

C) 8 Watts/Sec / 8 वाट/सेकंड

D) 8 Joules/Coulombs / 8 जूल/कूलंब

67) What was the name of the second Mauryan Emperor? / दूसरे मौर्य सम्राट का नाम क्या था?

A) Ashoka / अशोक

B) Chandragupta Maurya / चंद्रगुप्त मौर्य

C) Bindusara / बिंदुसार

D) Kanishka / कनिष्क

68) Which of the following statements is CORRECT about "Thumri", a genre of Indian music? / निम्नलिखित कथनों में से कौन, "ठुमरी" भारतीय संगीत की एक शैली के बारे में सही है?

A) It originated in parts of Maharashtra / यह महाराष्ट्र के हिस्सों में शुरु किया गया था

B) It is a type of light classical music / यह सुगम शास्त्रीय संगीत का एक प्रकार है

C) It is usually performed at the start of a Khayal concert / यह आमतौर पर एक खयाल संगीत कार्यक्रम के शुरू में बजाया जाता है

D) It has a sorrowful tone / इसका एक शोकार्त स्वर है

69) The ancient sanskrit names of Pataliputra which was the capital of Magadha are / मगध की राजधानी पाटलिपुत्र के प्राचीन संस्कृत नाम क्या हैं

A) Hajipura and Bijapur / हाजीपुर और बीजापुर

B) Samastipura and Bhagalpur / समस्तीपुर और भागलपुर

C) Kusumapura and Puspapura / कुसुमपुर और पुष्पपुर

D) Kusinagara and Tamralipta / कुशिनगर और ताम्रलिप्त

70) Georg S. Ohm who developed Ohm's Law belonged to which of the following country? / ओम नियम का सृजन करने वाले जॉर्ज एस. ओम किस देश से थे?

A) Germany / जर्मनी

B) France / फ्रांस

C) USA / अमेरिका

D) UK / यूनाइटेड किंगडम

71) Boiling of water is a physical change though gas is formed but passing of electric current through water is chemical change, because / पानी का उबलना एक भौतिक परिवर्तन है हालांकि गैस की रचना होती है लेकिन पानी के माध्यम से विद्युत प्रवाह एक रासायनिक परिवर्तन है, क्योंकि

A) In first case no bonds are broken or formed but in second case bonds are broken and formed / पहले मामले में कोई बॉण्ड टूटते या बनते नहीं हैं लेकिन दूसरे मामले में बॉण्ड टूटते या बनते हैं

B) Boiling of water can be done in kitchen but for passing electric current we require laboratory / पानी को रसोई में उबाला जा सकता है लेकिन विद्युत प्रवाहित करने के लिए प्रयोगशाला का होना आवश्यक है

C) Energy change during first case is much lower than in second case / ऊर्जा परिवर्तन दूसरे मामले की तुलना में पहले मामले में बहुत कम होता है

D) Boiling of water is done only by applying heat but in second case electric current is involved / पानी के उबलना केवल ताप देने से होता है जबकि दूसरे मामले में विद्युत प्रवाह शामिल होता है

72) Identify the change in constitutional law brought after national emergency in India from the following? / निम्नलिखित में से राष्ट्रीय आपातकाल के बाद संवैधानिक कानून में लाए गए बदलाव को पहचानें?

A) Financial emergency can be imposed / वित्तीय आपात स्थिति लगाई जा सकती है

B) Emergency cannot be imposed / आपातकाल नहीं लगाया जा सकता

C) Full cabinet shall request in writing / पूर्ण कैबिनेट लिखित रूप में अनुरोध करेगा

D) All fundamental rights can be suspended / मौलिक अधिकारों को निलंबित किया जा सकता है

73) Which of the following Gulf separates India from Sri Lanka? / निम्नांकित में से कौन की खाड़ी भारत को श्रीलंका से अलग करती है?

A) Gulf of Oristano / ओरिस्टैनो की खाड़ी

B) Gulf of Mannar / मन्नार की खाड़ी

C) Gulf of Khambhat / खम्भात की खाड़ी

D) Gulf of Panama / पनामा की खाड़ी

---

74) Who among the following coined the word 'Robot', to explain machines that resemble humans, in his play called Rossum's Universal Robots? / निम्नलिखित में से किसने रोसुम का यूनिवर्सल रोबोट नामक् अपने नाटक में, मनुष्यों जैसे लगने वाले मशीनों के वर्णन के लिए, 'रोबोट' शब्द को गढ़ा?

A) Isaac Asimov / आइसैक असिमोव

B) John Frankenstein / जॉन फ्रैंकेंस्टीन

C) Karel Capek / कैरेल कैपेक

D) George Devol / जॉर्ज देवोल

---

75) Who of the following was selected as the emerging player of the Season for IPL 9? / निम्न में से कौन IPL 9 में सीज़न के उभरते हुए खिलाड़ी के रूप में चुना गया था?

A) Mustafizur Rahman / मुस्तफ़िज़ूर रहमान

B) Hardik Pandya / हार्दिक पंड्या

C) Bhuvneshwar Kumar / भुवनेश्वर कुमार

D) Sourav Tiwari / सौरभ तिवारी

---

76) The Prime Minister and his Council of Ministers, according to Article 74 advice the / प्रधानमंत्री और उनका मंत्री-मण्डल अनुच्छेद 74 के अनुसार किसको सलाह देता है?

A) President / राष्ट्रपति

B) Chief Justice of India / भारत के मुख्य न्यायाधीश

C) Lok Sabha Speaker / लोकसभा अध्यक्ष

D) Vice-President / उपराष्ट्रपति

77) Identify the article that confirms 'Untouchability is abolished and its practice in any form is forbidden'. / निम्नलिखित में से उस अनुच्छेद की पहचान कीजिए जो इसकी पुष्टि करता है कि 'अस्पृश्यता को समाप्त कर दिया गया है और किसी भी रूप में इसे व्यवहार में लाना वर्जित है'।

A) 18

B) 17

C) 19

D) 20

78) State Election Commission is a statutory body whereas Election Commission of India is a / राज्य निर्वाचन आयोग एक संवैधानिक निकाय है जबकि भारतीय निर्वाचन आयोग एक

A) Judiciary body / न्यायिक संस्था है

B) Private body / निजी संस्था है

C) Constitutional body / संवैधानिक संस्था है

D) International body / अंतर्राष्ट्रीय संस्था है

79) Pertaining to sports, what does WADA stand for? / खेल के संबंध में WADA का अर्थ क्या है?

A) World Anti-Doping Agency / वर्ल्ड एंटी डोपिंग एजेंसी

B) World Antibiotics and Drugs Agency / वर्ल्ड एंटीबायोटिक्स एंड ड्रग्स एजेंसी

C) Wrestling Anti-Doping Agency / रेस्लिंग एंटी डोपिंग एजेंसी

D) World Anti-Drugs Agency / वर्ल्ड एंटी ड्रग्स एजेंसी

80) Which Fundamental Right was removed from the Constitution by 44th Amendment Act? / किस मौलिक अधिकार को 44वें संशोधन अधिनियम द्वारा संविधान से हटा दिया गया?

A) Right to protect / रक्षा का अधिकार

B) Right to Promote / प्रोत्साहन का अधिकार

C) Right to Privacy / गोपनीयता का अधिकार

D) Right to Property / संपत्ति का अधिकार

81) In India, who is acknowledged as the "Watchdog of the Public Finance"? / भारत में "सार्वजनिक वित्त का निगरानीकर्ता" किसे कहा जाता है?

A) Reserve Bank / रिजर्व बैंक

B) Chairman of Finance Commission / वित्त आयोग का अध्यक्ष

C) Comptroller and Auditor General / नियंत्रक एवं महा लेखापरीक्षक

D) Finance Minister / वित्त मंत्री

82) Among the following, which is a folk dance of Tamil Nadu? / निम्नलिखित में से कौन सा तमिलनाडु का एक लोक नृत्य है?

A) Ruk Mar Nacha / रुक मार नाचा

B) Jhumar / झूमर

C) Bhagavata Mela / भागवत मेला

D) Dumhal / धूमल

83) Aipan, an art form of rangoli is practised in which state of India? / रंगोली की एक कला, ऐपन, भारत के किस राज्य में प्रचलित है?

A) Tamil Nadu / तमिलनाडु

B) Kerala / केरल

C) Uttarakhand / उत्तराखंड

D) Bengal / बंगाल

84) Who among the following is known as the "Grand Old man of India"? / निम्न में से किसे "भारत के ग्रैंड ओल्ड मैन" के रूप में जाना जाता है?

A) Sardar Vallabbhai Patel / सरदार वल्लभ भाई पटेल

B) Chandra Shekar Azad / चंद्रशेखर आजाद

C) Dadabhai Naoroji / दादाभाई नौरोजी

D) Gopal Krishna Gokhale / गोपाल कृष्ण गोखले

85) Who won the 2016 United States Grand Prix F1 in October 2016? / अक्टूबर 2016 में 2016 यूनाइटेड स्टेट्स ग्रांड प्रिक्स F1 किसने जीता?

A) Daniel Ricciardo / डैनियल रिकार्डो

B) Lewis Hamilton / लुईस हैमिल्टन

C) Sebastian Vettel / सेबेस्टियन वेट्टल

D) Nico Rosberg / निको रोसबर्ग

86) Which of the following would cause interest rates to raise? / निम्न में से कौन सा एक ब्याज दर बढ़ाने का कारण होगा?

A) Increase in money supply / पैसों की आपूर्ति में वृद्धि

B) The rise in standard of living / जीवन स्तर में वृद्धि

C) The rise in general level of prices / कीमतों के सामान्य स्तर में वृद्धि

D) The increase in demand for money / पैसों की मांग में वृद्धि

87) The Nobel Peace Prize 2016 was awarded to / किसे नोबेल शांति पुरस्कार 2016 से सम्मानित किया गया?

A) Tawakkol Karman / तवाकुल करमान

B) Juan Manuel Santos / जुआन मैनुअल सैंटोस

C) Kailash Satyarthi / कैलाश सत्यार्थी

D) Malala Yousafzai / मलाला यूसुफज़ई

88) What is the rank of India on Sustainable Development Index (SDI)? / सस्टेनेबल डेवलपमेंट इंडेक्स (SDI) में भारत का क्या स्थान है?

A) 135

B) 110

C) 98

D) 124

89) Confederations Cup 2017 to be played in Russia is related to which of the following sports? / कॉनफेडरेशन कप 2017 जो रूस में खेले जाने वाला है, निम्नलिखित में से किस खेल से संबंधित है?

A) Football / फुटबॉल

B) Table Tennis / टेबल टेनिस

C) Swimming / तैराकी

D) Chess / शतरंज

90) Which of the following cricketer broke the record of Sachin Tendulkar for most sixes in one day internationals? / निम्न में से कौन से क्रिकेटर ने एक दिवसीय अंतरराष्ट्रीय मैचों में सबसे अधिक छक्के के सचिन तेंदुलकर के रिकॉर्ड को तोड़ दिया?

A) Virat Kohli / विराट कोहली

B) M. S. Dhoni / एम्. एस. धोनी

C) Rohit Sharma / रोहित शर्मा

D) Ajinkya Rahane / अजिंक्य रहाणे

91) Where is the first National Investment and Manufacturing Zones (NIMZ) set up to boost 'Make in India Campaign'? / "मेक इन इंडिया अभियान' को बढ़ावा देने के लिए पहला राष्ट्रीय निवेश तथा विनिर्माण जोन (NIMZ) की स्थापना कहां हुई है?

A) Gujarat / गुजरात

B) Andhra Pradesh / आंध्र प्रदेश

C) Uttar Pradesh / उत्तर प्रदेश

D) Odisha / ओडीशा

92) Owing to the long association with Mahatma Ghandhi, who among the following was called by him as his 'Fifth Son'? / महात्मा गांधी के साथ लंबे सहयोग के कारण, निम्न में से किसे उनके द्वारा अपना 'पांचवां पुत्र' कहा गया था?

A) Jamnalal Bajaj / जमनालाल बजाज

B) Dr. B.R. Ambedkar / डॉ. बी. आर. अम्बेडकर

C) Ratan Tata / रतन टाटा

D) Swami Vivekananda / स्वामी विवेकानंद

93) Which of the following is declared as the National Waterways No.1, in India? / भारत में निम्नलिखित में से किसे राष्ट्रीय जलमार्ग संख्या 1 घोषित किया गया है?

A) Ganga-Bhagirathi-Hooghly river system / गंगा-भागीरथी-हुगली नदी प्रणाली

B) Brahmaputra River System / ब्रह्मपुत्र नदी प्रणाली

C) Kakinada-Puducherry Canals system along with Godavari and Krishna rivers / गोदावरी और कृष्णा नदी के साथ-साथ काकिनाड-पुद्दुचेरी नहर प्रणाली

D) West Coast Canal with Udyogmandal and Champakara Canals / उद्योगमंडल और चम्पकारा नहरों वाला पश्चिमी तटीय नहर

94) In which of the following championships did the Indian girls and boys team win two medals on the opening day? / निम्नलिखित में से किस चैम्पियनशिप के प्रारंभ होने के दिन भारतीय लड़कियों और लड़कों की टीमों ने दो पदक जीते?

A) The South Asian Junior and Cadet Table Tennis Championships 2015 / दक्षिण एशियाई जूनियर और कैडेट टेबल टेनिस चैंपियनशिप 2015

B) The Table Tennis Asia Cup 2015 / टेबल टेनिस एशिया कप 2015

C) The European Table Tennis Championships 2015 / यूरोपीयन टेबल टेनिस चैंपियनशिप 2015

D) The Junior World Table Tennis Championships 2015 / जूनियर वर्ल्ड टेबल टेनिस चैंपियनशिप 2015

95) Who started the Muhammedan Anglo-Oriental College at Aligarh? / अलीगढ़ में मुहम्मडन एंग्लो ओरिएंटल कॉलेज को किसने शुरू किया था?

A) Raja Rammohan Roy / राजा राममोहन राय

B) Baba Amte / बाबा आम्टे

C) Syed Ahmed Khan / सैयद अहमद खान

D) Ishwar Chandra Vidyasagar / ईश्वर चंद्र विद्यासागर

96) Which of the following clubs won the English Premier League 2016? / निम्न में से किस क्लब ने इंग्लिश प्रीमियर लीग 2016 जीता?

A) Leicester City / लीसेस्टर सिटी

B) Barcelona FC / बार्सिलोना एफ सी

C) Man U / मैन यू

D) Chelsea / चेल्सीया

97) When was the Constitution of India adopted by the Constituent Assembly? / भारत का संविधान, संविधान सभा द्वारा कब अपनाया गया था?

A) 26 January,1947 / 26 जनवरी, 1947

B) 26 January, 1950 / 26 जनवरी, 1950

C) 15 August,1947 / 15 अगस्त, 1947

D) 29 November, 1949 / 29 नवंबर, 1949

98) Curative Petition means / उपचारात्मक याचिका का अर्थ

A) power to order death sentence / मृत्यु दंड का आदेश देने का सत्ता है

B) apex court's power to cure a gross miscarriage of justice / न्याय की भारी निष्फलता के उपचार के लिए सर्वोच्च न्यायालय का सत्ता

C) power of high court / उच्च न्यायालय का सत्ता

D) civil court's jurisdiction / सिविल कोर्ट का न्यायाधिकार

99) Who among the following is the father of all creatures according to Hindu mythology? / हिंदू पौराणिक कथाओं के अनुसार, निम्न में से कौन सभी प्राणि के पिता हैं?

A) Lord Arjuna / भगवान अर्जुन

B) Lord Agni / अग्नि देवता

C) Lord Kubera / कुबेर भगवान

D) Lord Brahma / भगवान ब्रह्मा

100) Which of the following is the only river of the Andaman? / निम्नलिखित में से अंदमान की एकमात्र नदी है

A) Debang / देबांग

B) Khowai / खोवई

C) Gumti / गुमती

D) Kalpong / कालपोंग

101) In which of the following rivers of India is the Linganamakki dam located? / निम्नांकित में से भारत के किस नदी पर लिंगानामक्की बांध स्थित है?

A) Kaveri / कावेरी

B) Bhima / भीमा

C) Tungabhadra / तुंगभद्रा

D) Sharavati / शरावती

102) Who of the following is known as the father of neuroscience? / निम्न में से किसे तंत्रिका विज्ञान के जनक के रूप में जाना जाता है?

A) Santiago Ramon y Cajal / सैंटियागो रेमन वाई काजल

B) Alessandro Volta / एलेसेंड्रो वोल्टा

C) William Crookes / विलियम क्रूक्स

D) Luis Alvarez / लुइस अल्वारेज

103) The unit of conductance is / चालकत्व की इकाई है

A) mho / मो

B) ohm / ओम

C) ohm-meter / ओम-मीटर

D) ohm/m / ओम/मीटर

104) Who among the following led the Indigo Revolt in India? / निम्न में से किसने भारत में नील विद्रोह का नेतृत्व किया था?

A) J.B. Kripalani and Mahadev Desai / जे. बी. कृपलानी और महादेव देसाई

B) Babu Rajendra Prasad and Mazhar-ul-Huq / बाबू राजेन्द्र प्रसाद और मजहर-उल-हक़

C) Digamber Biswas and Vishnu Biswas / दिगंबर बिस्वास और विष्णु बिस्वास

D) Vallabhai Patel and Lalji Naranji / वल्लभभाई पटेल और लालजी नारंजी

105) Which of the following states of India is the second largest river island of Asia, Nongkhnum located? / भारत के निम्नलिखित किस राज्य में एशिया का सबसे बड़ा नदी द्वीप, नॉन्गखनम स्थित है?

A) Karnataka / कर्नाटक

B) Assam / असम

C) Arunachal Pradesh / अरुणाचल प्रदेश

D) Meghalaya / मेघालय

106) Hundru falls is located in which state of India? / हुंडरू जलप्रपात भारत के किस राज्य में स्थित है?

A) Jharkhand / झारखंड

B) Assam / असम

C) Jammu & Kashmir / जम्मू एवं कश्मीर

D) Maharashtra / महाराष्ट्र

107) Which foreign traveller who visited India has been described as the "Prince of Pilgrims"? / भारत आने वाले किस विदेशी यात्री को "तीर्थयात्रा का राजकुमार" के रूप में जाना जाता है?

A) I-Tsing / आइ-सिंग

B) Huen Tsang / ह्वेन सांग

C) Fa-Hien / फा-हियान

D) Al Beruni / अल-बरूनी

108) Which of the following countries signed a landmark free trade deal called Comprehensive and Economic Trade Agreement (CETA), in October 2016? / अक्टूबर 2016 में निम्नलिखित देशों में से किन्होनें व्यापक और आर्थिक व्यापार समझौता (CETA) नामक एक ऐतिहासिक मुक्त व्यापार समझौते पर हस्ताक्षर किए?

A) Australia and New Zealand / ऑस्ट्रेलिया और न्यूजीलैंड

B) United States of America and Russia / संयुक्त राज्य अमेरिका और रूस

C) India and China / भारत और चीन

D) European Union and Canada / यूरोपियन संघ और कनाडा

109) An EXCEPTIONAL demand curve is the one that slopes / एक अपवादात्मक मांग वक्र रेखा वो है जो

A) upward to the left / बाईं ओर उर्ध्वगामी ढलान है

B) horizontally / क्षैतिज ढलान है

C) upward to the right / दाईं ओर ऊर्ध्वमुखी ढलान है

D) downward to the right / दाईं ओर अधोमुखी ढलान है

110) Which of the following is true regarding Article 14 which guarantees equality before law and equal protection of laws? / निम्नलिखित में से कौन सा, विधी के समक्ष समानता तथा विधि का समान सरंक्षण की गारन्टी देने वाले अनुच्छेद 14 के बारे में सही है?

A) All Indians living in India and abroad / भारत और विदेशों में रहने वाले सभी भारतीय

B) All citizens domiciled in India and living abroad / भारत में अधिवास और विदेशों में रहने वाले सभी नागरिक

C) All persons living within the territory of India / भारत के राज्यक्षेत्र के भीतर रहने वाले सभी व्यक्ति

D) All citizens domiciled in India / भारत में अधिवास सभी नागरिक

111) In perfectly competitive markets, which of the following processes is used by the firms to enter and to exit from the industry? / पूर्णतः प्रतिस्पर्धी बाजारों में, निम्न में से किस प्रक्रिया को कंपनियों द्वारा उद्योग में प्रवेश एवं निकासी के लिए इस्तेमाल किया जाता है?

A) free entry but restricted exit / नि: शुल्क प्रवेश लेकिन प्रतिबंधित निकासी

B) free entry and free exit / नि: शुल्क प्रवेश और नि: शुल्क निकासी

C) semi free exit but absolute free entry / अर्द्ध नि: शुल्क निकासी लेकिन पूर्ण नि: शुल्क प्रवेश

D) restricted entry and exit / प्रतिबंधित प्रवेश और निकासी

112) The first BJP ministry which was formed under Atal Bihari Vajpayee remained in office for how many days? / पहला भाजपा मंत्रीमडंल, जो अटल बिहारी वाजपेयी के नेतृत्व में गठन किया गया था, कितने दिनों के लिए पद पर बना रहा?

A) 13 days / 13 दिन

B) 11 days / 11 दिन

C) 21 days / 21 दिन

D) 10 days / 10 दिन

113) In economics theory, the concept of supply of a commodity can be expressed as / अर्थशास्त्र सिद्धांत में, वस्तु आपूर्ति की अवधारणा को किस रूप में व्यक्त किया जा सकता है?

A) a flow concept / प्रवाह अवधारणा

B) stock concept / स्टॉक अवधारणा

C) variable concept / चर अवधारणा

D) both stock and flow concept / दोनों स्टॉक और प्रवाह अवधारणा

114) An element A combines with another element B to form a compound C. The change which always accompanies this compound formation is: / एक यौगिक C बनाने के लिए तत्व A, एक दूसरे तत्व B के साथ मिश्रित होता है। वह परिवर्तन कौन सा है जो हमेशा इस यौगिक के निर्माण से संबद्ध है:

A) Energy / ऊर्जा

B) Odour / गंध

C) Physical state / भौतिक अवस्था

D) Colour / रंग

115) In which name does the river Brahmaputra flow through Tibet? / ब्रह्मपुत्र नदी तिब्बत के माध्यम से किस नाम से प्रवाहित होती है?

A) Lohit Tashi / लोहित ताशी

B) Debang Rabten / देबांग रबतेन

C) Jamuna Khando / जमुना खंडो

D) Yarlung Tsangpo / यार्लंग त्संग्पो

116) Which one of the following was an emigre Communist Journal of M.N. Roy? / एम.एन. राय का एक प्रवासी कम्युनिस्ट जर्नल निम्न में से कौन सा था?

A) The Worker / द वर्कर

B) Vanguard / वेन्गार्ड

C) Kishan Sabha / किशान सभा

D) Anushilan / अनुशीलन

117) It is generally payable on the sale of all goods by a dealer in the course of inter-state trade or commerce or, outside a state or, in the course of import into or, export from India. Which tax is this? / यह आम तौर पर एक व्यापारी द्वारा अंतर-राज्यीय व्यापार या वाणिज्य या एक राज्य के बाहर या, भारत से निर्यात या आयात के कार्य में सभी वस्तुओं की बिक्री पर देय है। यह इनमें से कौन सा कर है?

A) Professional tax / व्यवसाय कर

B) Value Added Tax / मूल्यवर्धित कर

C) Central Sales tax / केंद्रीय बिक्री कर

D) Income tax / आय कर

118) Which among the following discoveries is the first in a long line of communication breakthroughs? / निम्न में से कौन सा संचार के महत्वपूर्ण खोज की लंबी लाइन में से पहला है?

A) Email / ईमेल

B) Telephone / टेलीफोन

C) Telegraph / टेलीग्राफ

D) Radio / रेडियो

119) A razor blade should be strong and springy but unbreakable. This special property is rendered to it by doing the treatment called / रेजर ब्लेड मजबूत होना चाहिए और लचीला होना चाहिए लेकिन टूटने लायक नहीं होना चाहिए। यह विशेष गुण इसे निम्नलिखित किस उपचार से मिलता है?

A) Case Hardening / केस हार्डनिंग

B) Alloying / मिश्रधातु बनाना

C) Quenching / शमन

D) Annealing / अनिलिंग

120) Which one of the following crops in India is grown mainly by dry farming? / भारत में निम्नलिखित फसलों में से कौन सा मुख्य रूप से वर्षाधीन कृषि द्वारा उगाया जाता है?

A) Maize / मैज़

B) Tobacco / टोबैको

C) Millet / मिलट

D) Rice / चावल

Section 3 - PART C

No. of Questions: 60

121) Fill in the blanks with the correct verb:

In heavy rain, the system can't cope and it_____.

A) flood

B) would be flooding

C) floods

D) flooding

---

122) Identify the meaning of the underlined phrase/idiom:

It is out of question to meet him now.

A) irrelevant

B) impossible

C) oblige

D) by all means

---

123) Identify the correct synonym:

Pertinent

A) Legal

B) Relevant

C) Useful

D) Irrelevant

---

124) Read the sentence carefully and select the underlined part that is incorrect:

Every morning Adeline has to show her identification at the front desk, swipes her pass through a reader before she can enter her office.

A) before

B) enter her office

C) swipes

D) has

125) Identify the error in the following sentence. The error, if any, will be in one part of the sentence, the number of that part is your answer. If there is no error, mark your answer as (D). (A)An human ear / (B) cannot hear very / (C)high-frequency sounds. / (D) No Error.

A) D

B) B

C) C

D) A

---

126) Identify the meaning of the underlined phrase/idiom:

Beware of that fellow! He will stick at nothing.

A) scrupulous

B) unscrupulous

C) opportunist

D) reasonable

---

127) Choose the correct form of the verb in brackets:

The box which I (carry) is very heavy.

A) am carrying

B) was carrying

C) will carry

D) do carry

---

128) Fill in the blanks with the correct option:

What _____ owl is he?

A) No article required.

B) the

C) an

D) a

129) Fill in the blanks with the correct option:

This is ____ five lakh project. I received it from _____ friend of mine and I will remain grateful to him for that.

A) the, the

B) an, an

C) a, the

D) a, a

---

130) Fill in the blanks with the correct option:

The boys _____ up very fast.

A) grows

B) growing

C) grown

D) grew

---

131) Choose the correct option to complete the sentence:

She took a _____ view of my suggestion.

A) dim

B) light

C) dull

D) bright

---

132) Identify the antonym of the underlined word:

Her malicious remarks stunned everyone.

A) vicious

B) innocent

C) preposturous

D) benign

133) Change the simple sentence into a complex sentence:

He was too weak to walk.

A) He can't walk so weak.

B) He is too weak that he cannot walk.

C) He was so weak that he could not walk.

D) He was very weak to walk.

134) Fill in the blanks with the correct option:

My children _____ the balloons.

A) blew

B) blows

C) blown

D) blow

135) Fill in the blanks with the correct option:

He owns a cottage _____ the lake.

A) beside

B) besides

C) beneath

D) between

136) Complete the sentence using a relative pronoun:

I found the pen _____I had lost.

A) whom

B) which

C) what

D) who

137) Choose the Noun in the given sentence:

She gives the impression of being very busy.

A) the

B) of

C) gives

D) impression

138) Choose the Noun in the given sentence:
The city is full of diversions.

A) full

B) is

C) of

D) diversions

---

139) Fill in the blanks with the correct option:
They are fond _____ dancing.

A) on

B) of

C) with

D) into

---

140) Identify the antonym of the underlined word:
The referee in the match was unfair.

A) alert

B) dishonest

C) untruthful

D) just

---

141) Identify the antonym of the underlined word:
The nomadic tribes moved across Central Asia in search of better pastures.

A) settled

B) wandering

C) roving

D) primitive

---

142) Fill in the blanks with the correct option:
She didn't eat any food but drank_____water.

A) a few

B) few

C) little

D) a little

143) Fill in the blanks with the correct option:

I had experienced _____ heady freedom of _____ soaring kite, high in the sky.

A) a, a

B) a, an

C) a, the

D) the, a

144) Fill in the blanks with the correct option:

_____ morning my mother is going to buy a new sofa for our living room.

A) those

B) that

C) this

D) these

145) Read the sentence carefully and select the underlined part that is incorrect:

The soldiers who fought the battle had a variety of motivations: some patriotic, some mercenary, and vengeance brought some, too.

A) vengeance brought some

B) some

C) had a

D) who fought

146) Identify the correct synonym:

Abolish

A) Establish

B) Eliminate

C) Renew

D) Create

147) Read the sentence carefully and select the underlined part that is incorrect:

Jeans cats like to climb her bookshelves, shred her notebooks, and to bite her shoes.

A) like

B) shred

C) to bite her

D) climb

---

148) Identify the correct synonym:

Weird

A) Bizarre

B) Violent

C) Normal

D) Visible

---

149) Fill in the blanks with the correct option:

She applied_____ a teaching job but was turned down.

A) in

B) by

C) with

D) for

---

150) Fill in the blanks with correct option:

The ship sailed_____ the coast of Tamil Nadu.

A) into

B) along

C) onto

D) over

---

151) Chose the word that is spelt correctly and fill the blanks:

The slums ____ rapidly, becoming a drain on cities resources.

A) prolifarate

B) prolliferate

C) proliferate

D) proliferrate

152) Fill in the blanks with the correct form of verb:

He _____ down the rest of his tea and went out.

A) gulped

B) gulp

C) is gulping

D) shall gulp

153) Chose the word that is spelt correctly and fill the blanks:

He has been _____ by the teacher to go home.

A) allowed

B) Alowed

C) alloud

D) aloud

154) Fill in the blanks with correct option:

My uncle bequeathed his property _____ me

A) to

B) for

C) in

D) with

155) Fill in the blanks with the correct form of verb:

The restaurant _____ under new ownership.

A) is

B) are

C) was being

D) have been

156) Fill in the blanks with correct option:

The villager was stabbed by the dacoit _____ a knife.

A) to

B) with

C) besides

D) by

157) Choose the correct option to complete the sentence:

In the drought-affected areas there is no water for _____ so the farmers were distressed.

A) irrigation

B) distribution

C) distillation

D) inundation

158) Choose the Pronoun in the given sentence:

Where's the letter that came yesterday?

A) yesterday

B) came

C) letter

D) that

159) Fill in the blanks with the correct option:

_____ girl must take her turn.

A) neither

B) either

C) each

D) every

160) Change the given sentence into a complex sentence:

The news of his death was shocking.

A) We were shocked when we heard the news of his death.

B) The news of his death was shocking for us.

C) The news of his death shocked us.

D) We were shocked by the news of his death.

161) Identify the complex sentence:

A) He promised his grand children the money.

B) They arrived at 7.30 as they had promised.

C) The principal promised to look into the matter.

D) The government promised a full investigation into the disaster.

162) Fill in the blanks with the correct option:

My sons _____ their mistakes after a long time.

A) realising

B) realized

C) realizes

D) has realized

163) Identify the meaning of the underlined phrase/idiom:

The secretary of the company was charged with cooking the accounts.

A) preparing receipts

B) preparing false accounts

C) preparing bills

D) preparing accounts

164) Fill in the blanks with the correct option:

The children were excited because they _____ to a circus before.

A) had never been

B) had been

C) have been

D) have never been

165) Identify the complex sentence:

A) Contarctors who fall behind schedule incur heavy financial penalties.

B) You can withdraw money from the account at any time without penalty.

C) He missed a penalty in the last minute of the game.

D) The penalty for travelling without a ticket is Rs.500.

166) Chose the word that is spelt correctly and fill the blanks:

Please put these papers in the _____.

A) envalop

B) onvalope

C) anvalop

D) envelope

---

167) Fill in the blanks with the correct option:

The children_____at the picture.

A) is looking

B) has looked

C) are looking

D) shall be looking

---

168) Fill in the blanks with the correct option:

The principal ____ the bell.

A) rings

B) ring

C) ringing

D) are ringing

---

169) Identify the correct synonym:

Objective

A) Permission

B) Privilege

C) Origin

D) Aim

170) Identify the antonym of the underlined word:
Though she was pretty, she was very conceited.

A) vain
B) modest
C) self-conscious
D) arrogant

171) Chose the word that is spelt correctly and fill the blanks:
He is an _____ doctor.

A) eminant
B) eminent
C) imminant
D) imminent

172) Identify the correct synonym of the underlined word:
The woman's fragile face broke into a smile.

A) Smooth
B) Charming
C) Delicate
D) Beautiful

173) Identify the correct synonym of the underlined word:
The car came to an abrupt stop at the barricade.

A) Slow
B) Sudden
C) Gradual
D) Deliberate

174) Choose the correct option to complete the sentence:

The topic has been _____very well with pictures and examples.

A) shown

B) explained

C) illustrated

D) demonstrated

---

175) Choose the correct option to fill in the blanks:

I went out to do my shopping after my friend _____.

A) was leaving

B) had left

C) would leave

D) left

---

176) Identify the antonym of the underlined word:

She crouched in the dark, too afraid to reveal herself.

A) show

B) conceal

C) endure

D) expose

---

177) Identify the antonym of the underlined word:

To make it interesting to read, the report must be expanded.

A) composed

B) condensed

C) bigger

D) detailed

---

178) Fill in the blanks with the correct verb:

Icicles _____ from the roof.

A) could be hanged

B) hanging

C) hung

D) is hanging

179) Choose the correct meaning of thephrase/idiom underlined in the sentence:

The strain is telling upon his health.

A) restraining

B) tell about his strain

C) affecting

D) tell about his health

180) Choose the correct option to complete the sentence:

It's a favourite game of _____.

A) their

B) theirs

C) them

D) these

Section 1 - PART A

No. of Questions: 60

1) Suman was born 4 years after her mother's marriage. Her mother is 4 years younger than her father but 25 years older than Suman who is 14 years old. At what age did her father get married? / सुमन का जन्म उसकी मां की शादी के 4 वर्षों के बाद हुआ था। उसकी मां उसके पिता से चार वर्ष छोटी है पर सुमन से 25 वर्ष बड़ी है, जहां सुमन की आयु 14 वर्ष है। उसके पिता की शादी किस उम्र में हुई थी?

A) 25

B) 21

C) 23

D) 29

---

2) In an examination, a student scores 4 marks for every correct answer and loses 1 mark for every wrong answer. If he attempts in all 80 questions and secures 120 marks, the number of questions he attempts correctly, is

/

एक परीक्षा में, एक छात्र को प्रत्येक सही उत्तर के लिए 4 अंक प्राप्त होते हैं और प्रत्येक गलत उत्तर के लिए 1 अंक खो देता है। यदि उसने सभी 80 प्रश्नों का उत्तर दिया है और 120 अंक प्राप्त किए हैं, तो उसने कितने प्रश्नों का सही उत्तर दिया है?

A) 40

B) 20

C) 30

D) 60

---

3) Consecutive numbers are written on faces of a dice. If the smallest number is 4, then what will be the largest number? / पासे के पृष्ठों पर क्रमागत संख्याएं लिखी हुई हैं। यदि सबसे छोटी संख्या 4 है तो सबसे बड़ी संख्या क्या होगी?

A) 10

B) 8

C) 9

D) 6

4) What should come in the blank space so that the series formed is meaningful: 0, 2, 3, 9, 8, 28, 15, 65, 24, 126, _____? / रिक्त स्थान में क्या आना चाहिए ताकि श्रृंखला सार्थक रूप ले: 0, 2, 3, 9, 8, 28, 15, 65, 24, 126, _____?

A) 33

B) 149

C) 151

D) 35

5) Roopa is Neeta's sister's mother. Roopa's brother's father will be Neeta's _____. / रूपा, नीता की बहन की मां है। रूपा के भाई के पिता, नीता के ____

A) Grandfather / नाना होंगे

B) Uncle / मामा होंगे

C) Father / पिता होंगे

D) Father-in-law / ससुर होंगे

6) If the price of fuel decreases by 20%, then in order to balance the budget the usage of fuel must be increased by / यदि ईंधन के मूल्य में 20% की गिरावट आती है तो बजट संतुलित करने के लिए ईंधन की खपत कितनी बढ़ा देनी चाहिए?

A) 80%

B) 20%

C) 25%

D) 75%

7) Neeraj's father's only sister's son is Keerti's husband. Then, how is Keerti's mother-in-law related to Neeraj's father? / नीरज के पिता की इकलौती बहन का बेटा, कीर्ति का पति है। तो, कीर्ति की सास नीरज के पिता से कैसे संबंधित है?

A) Sister / बहन

B) Mother-in-law / सास

C) Daughter-in-law / बहू

D) Sister-in-law / भाभी

8) "hell this young" means "ke la pa"
"wise young sharp hell" means "na pa kup ke"
"being clever young this" means "se to pa la"
"clever sharp young tomorrow" means "to kup pa jo"

What is code for "sharp"?
/
"hell this young" का अर्थ है "ke la pa"
"wise young sharp hell" का अर्थ है "na pa kup ke"
"being clever young this" का अर्थ है "se to pa la"
"clever sharp young tomorrow" का अर्थ है "to kup pa jo"

"sharp" का कूट क्या है?

A) ke
B) kup
C) pa
D) na

---

9) There are three words given here. The first two words are related in a certain manner. Select the proper word among the given four alternatives which bears the same relationship with the third word as in the manner first and second words are related.

Copper : Metal :: Bronze : ?
/
यहाँ तीन शब्द दिए गए हैं। पहले दो शब्द एक निश्चित तरीके से संबंधित हैं। दिए गए चार विकल्पों में से उस उचित शब्द का चयन करें जो तीसरे शब्द के साथ उसी प्रकार से संबंधित हो जिस तरीके से पहला और दूसरा शब्द संबंधित हैं।

तांबा : धातु :: कांस्य : ?

A) Rock / चट्टान
B) Ore / अयस्क
C) Alloy / मिश्र धातु
D) Allotrope / अपरूप

10) What should come in the blank space so that the series formed is in proper manner: 10, 15, 13, 18, 16, _____ , 19, 24, 22? / रिक्त स्थान में क्या आना चाहिए ताकि श्रृंखला सही प्रारूप ले: 10, 15, 13, 18, 16, _____ , 19, 24, 22?

A) 18

B) 24

C) 21

D) 19

Following are the conditions for selecting a Programmer in Firm.	फर्म में प्रोग्रामर के चयन के लिए निम्न शर्तें हैं।
The candidate must :	उम्मीदवार
(i) be a graduate in Bachelor of Computers Applications (BCA) with at least 70% marks.	(i) 70% अंकों के साथ बैचलर ऑफ कंप्यूटर एप्लीकेशन (BCA) में स्नातक होना चाहिए
(ii) have completed Master in Computer Application (MCA) with 75% marks	(ii) कम से कम 75% अंकों के साथ मास्टर इन कम्प्यूटर एप्लीकेशन (MCA) में स्नातकोत्तर होना चाहिए।
(iii) have a post qualification work experience of 1 year.	(iii) उसके पास अर्हता के बाद 1 वर्ष का कार्य अनुभव होना चाहिए।
(iv) be less than 30 years of age.	(iv) 30 वर्ष से कम आयु का होना चाहिए।
In the case of a candidate who satisfies all the conditions :	इन सभी शर्तों को पूरा करने वाले उम्मीदवार के मामले में:
(A) Except (i) above, but has scored more than 80% in Class XII, the case may be referred to the Vice President.	(A) उपरोक्त में से (i) को छोड़कर, उम्मीदवार ने बारहवीं कक्षा में 80% से अधिक अंक प्राप्त किए हैं, मामले को उपराष्ट्रपति के पास भेजा जा सकता है।
(B) Except (ii) above, but has scored more than 80% in Class X, the case may be referred to President.	(B) उपरोक्त में से (ii) को छोड़कर, उम्मीदवार पे दसवीं कक्षा में 80% से अधिक अंक प्राप्त किए हैं, मामले को राष्ट्रपति के पास भेजा जा सकता है।
Based on the above information and criteria given in each of the following questions, you have to take decision.	उपरोक्त जानकारी और प्रत्येक प्रश्न में दिए मापदंडों के आधार पर, आपको निर्णय लेना है।

11) These cases are given to you as on 31st March, 2016. Sohan Shinde, a graduate in BCA, secured 71% in graduation and 77% in MCA. He has a post qualification work experience of 6 months. He was born on 22nd of June,1991. He should be /

यह मामले 31 मार्च 2016 की स्थिति के अनुसार आपको दिए गए हैं: सोहन शिंदे BCA में स्नातक है, उसने स्नातक में 71% अंक और MCA में 77% अंक प्राप्त किए हैं। उसेके पास अर्हता के बाद 6 महीने का कार्य अनुभव है। उसका जन्म 22 जून 1991 को हुआ था है। तो उसको:

A) selected / चयनित करना चाहिए

B) referred to the Vice-President / उपराष्ट्रपति के पास भेजना चाहिए

C) rejected / अस्वीकृत करना चाहिए

D) referred to the President / राष्ट्रपति के पास भेजना चाहिए

---

12) In a certain code, SHRT is coded as S19H8R18T20. What will be the code of the word MBHG? / एक निश्चित कूट में SHRT को S19H8R18T20 के रूप में कूट बद्ध किया जाता है। शब्द MBHG का कूट क्या होगा?

A) M13B2H7G6

B) M12B2H8G6

C) M13B2H8G7

D) M12B2H8G7

---

13) Select the option that is odd one out among the given four options. / दिए गए चार विकल्पों में से उस विकल्प का चयन करें जो बिलकुल बेमेल है।

A) CDFG

B) GHJK

C) MNOP

D) STVW

14) A figure is given on the left with a pattern. In which of the four images on the right we CANNOT find this pattern as a part of that image? / बाईं ओर एक पैटर्न के साथ एक चित्र दी गई है। दाईं ओर की चार चित्रों में से किसमें हमें उस चित्र के हिस्से के रूप में यह पैटर्न नहीं मिल सकता?

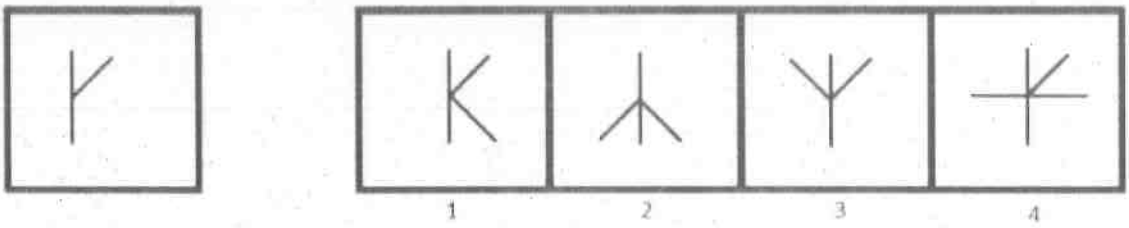

A) 1

B) 2

C) 3

D) 4

15) There are three words given here. The first two words are related in a certain manner. Select the proper word among the given four alternatives which bears the same relationship with the third word as in the manner first and second words are related.

Incite : Restrain :: Shy : _____

/

यहाँ तीन शब्द दिए गए हैं। पहले दो शब्द एक निश्चित तरीके से संबंधित हैं। दिए गए चार विकल्पों में से उस उचित शब्द का चयन करें जो तीसरे शब्द के साथ उसी प्रकार से संबंधित हो जिस तरीके से पहला और दूसरा शब्द संबंधित हैं।

उकसाना : अवरोध :: शर्म : _____

A) Timid / बुज़दिल

B) Reserved / संकोची

C) Introvert / अंतर्मुखी

D) Impudent / बेशर्म

16) A dice is taken with numbers from 1 to 6 written on its faces. The dice is put on a table. By doing which of these can we tell the number on the bottom face that is hidden? / एक पासा लिया गया है जिसके पृष्ठों पर 1 से लेकर 6 तक की संख्याएं अंकित हैं। पासे को टेबल पर रखा गया। इनमें से क्या करने से हम निचले पृष्ठ पर अंकित संख्या बता सकते हैं जो छिपी हुई है?

A) By observing number on left face / बाएं पृष्ठ पर अंकित संख्या का प्रेक्षण कर

B) By observing number on top face / ऊपरी पृष्ठ पर अंकित संख्या का प्रेक्षण कर

C) By observing numbers on other five faces / अन्य पांच पृष्ठों पर अंकित संख्याओं का प्रेक्षण कर

D) Without doing anything / बिना कुछ किए

---

17) A figure is given on the left with a pattern. Observe and find out which of the three images on the right looks similar to the left half of this pattern? / बाईं ओर एक पैटर्न के साथ एक चित्र दी गई है। ध्यानपूर्वक देखिए और बताइए कि दाईं ओर की तीन चित्रों में से कौन इस पैटर्न के बाएँ अर्ध हिस्से के समान दिखाई पड़ती है?

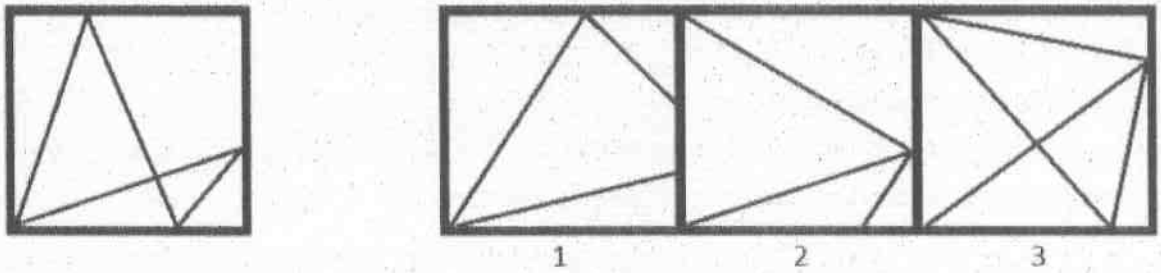

A) 1

B) Both 1 and 2 / 1 और 2 दोनों

C) 3

D) 2

---

18) Three out of the given four items are similar. Find the odd one. / दिए गए चार आयटमों में से तीन एक जैसे हैं। भिन्न आयटम की पहचान करें

A) CAR9

B) DANCE25

C) JACKET36

D) COAT26

Following are the eligibility criteria for applying for the post of Special Officer (SO) in a bank. The candidate should: (i) be a graduate in any discipline with atleast 70% aggregate marks. (ii) have atleast 65% marks in Full time MBA degree.	एक बैंक में विशेष अधिकारी (SO) के पद के लिए आवेदन करने के लिए पात्रता मापदंड निम्नलिखित हैं। उम्मीदवार: (i) को कम से कम 70% कुल अंक के साथ किसी भी विषय में ग्रेजुएट होना।

(iii) have minimum 3-year Post-qualification experience in banking. (iv) should be less than 30 years of age. According to the details of the candidate, he/she may be eligible under one or more of the criteria given above. Read the information given in the question and find out which all conditions the candidate will satisfy.	(ii) को पूर्णकालिक MBA की डिग्री में कम से कम 65% अंक प्राप्त किए होने चाहिए। (iii) को क्वालिफिकेशन के बाद बैंकिंग में कम से कम 3 साल का कार्य अनुभव होना चाहिए। (iv) की आयु 30 वर्ष से कम होनी चाहिए। उम्मीदवार के विवरण के अनुसार वह उपरोक्त एक या एक से अधिक मापदंडों के तहत पात्र हो सकता/सकती है। प्रश्न में दी गई जानकारी पढ़ें और पता लगाएं कि किन शर्तों को उम्मीदवार पूरा करेगा।

19) These cases are given to you as on 30th January, 2016.
Candidate's information : Manav Kulkarni is a graduate with 90% marks and 72% in full time MBA degree course. He has been working in a bank since one year. He shall celebrate his 27th birthday on 20th of February this year.
/
ये मामले आपको 30 जनवरी, 2016 की तारीख के तहत दिए गए हैं।
उम्मीदवार की जानकारी: मानव कुलकर्णी 90% अंक के साथ ग्रेजुएट है और पूर्णकालिक MBA डिग्री कोर्स में 72% अंक प्राप्त किया है। वह पिछले 1 साल से एक बैंक में काम कर रहा है। वह इस साल फरवरी की 20 तारीख को अपना 27 वां जन्मदिन मनाएगा।

A) (i), (ii) and (iii) / (i), (ii) और (iii)
B) (i) only / केवल (i)
C) (iii) only / केवल (iii)
D) All except (iii) / सभी, सिवाय (iii) के

20) Sneha decides to arrange 2209 lamps in such a way that there are as many rows as there are lamps in each row. The number of lamps in one row will be: / स्नेहा ने 2209 दीपों को इस तरह से व्यवस्थित करने का फैसला किया कि प्रत्येक पंक्ति में दीपों की संख्या जितनी है उतनी ही पंक्तियां हो। एक पंक्ति में दीपों की संख्या होगी:

A) 33
B) 27
C) 53
D) 47

21) Select the option that is odd one out among the given four options. / उस विकल्प का चयन करें जो दिए गए चार विकल्पों में से भिन्न है।

A) Ampere : Current / एम्पीयर : विद्युत धारा

B) Tonne : Weight / टन : वजन

C) Metre : Volume / मीटर : आयतन

D) Feet : Length / फ़ीट : लंबाई

22) Priya scored 200 marks in a test and failed by 10 marks. If the passing percentage of the test is 35%, what are the maximum marks of the test? / प्रिया को एक परीक्षा में 200 अंक प्राप्त हुए हैं और वह 10 अंक से फेल हो गई है। यदि परीक्षा का उत्तीर्ण प्रतिशत 35% है, तो परीक्षा का अधिकतम अंक क्या है?

A) 400

B) 600

C) 500

D) 700

23) Given are two views of a dice. What should come in place of the question mark? / नीचे एक पासे के दो दृश्य (व्यू) दिए गए हैं। प्रश्न चिह्न के स्थान पर क्या आएगा?

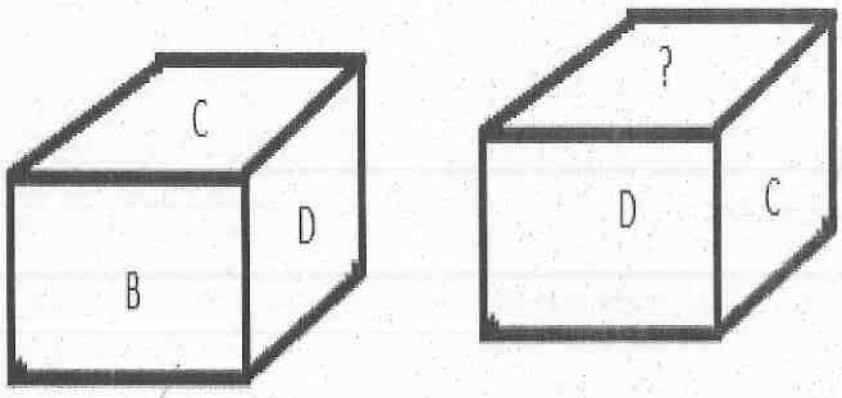

A) Cannot be determined / निर्धारित नहीं किया जा सकता है

B) B

C) S

D) P

24) In each question below, is given a group of letters followed by four combinations of digits/symbols numbered (1), (2), (3), and (4). Find which of the four combinations correctly represents the group of letters based on the coding system given below and the conditions that follow.

/

नीचे दिए गए प्रत्येक प्रश्न में अक्षरों के एक समूह के बाद अंकों / प्रतीकों के चार संयोजन जिए गए हैं जो (1), (2), (3) और (4) के रूप में संख्यांकित हैं। नीचे दिए गए कोडिंग प्रणाली और उसके बाद दिए गए शर्तों के आधार पर चार संयोजनों में से अक्षरों के समूह का सही ढंग से निरुपण करने वाले संयोजन का ज्ञात करें।

Letter / अक्षर	A	S	D	U	P	W	I	O	Z	Y	M
Digit/Symbol code / अंक/प्रतीक कूट	7	2	#	9	%	*	3	5	@	8	$

(i) If the first letter is a vowel and the last letter is a consonant, then their codes are to be interchanged. / यदि पहला अक्षर एक स्वर (वाउअल) है और अंतिम अक्षर एक ध्वनि (कॉन्सोनन्ट) है, तो उनके कूट को इंटरचेंज(पस्पर विनिमय) किया जाना है।

(ii) If the first letter is a consonant and the last letter is a vowel, then both are coded as the code for the consonant. / यदि पहला अक्षर एक ध्वनि (कॉन्सोनन्ट) है और अंतिम अक्षर एक स्वर (वाउअल) है, तो दोनों को ध्वनि (कॉन्सोनन्ट) के कूट के रूप में कूट बद्ध किया जाना है।

(iii) If both the first and last letters are vowels, both are to be coded as *. / यदि पहला और अंतिम अक्षर दोनों स्वर (वाउअल) हैं, तो दोनों को * के रूप में कूट बद्ध किया जाना है।

PSUMOA

A) 729$57

B) 729$5%

C) %29$57

D) %29$5%

---

25) In a certain code, FKQY is written as EGHI, then how is CPMT written in the same code? / एक निश्चित कूट में FKQY को EGHI के रूप में लिखा जाता है, तो उसी कूट में CPMT को कैसे लिखा जाएगा?

A) BLDO

B) BLOD

C) BKDD

D) BLDD

---

26) In at most how many points can two circles intersect? / दो वृत अधिकतम कितने बिंदुओं पर एक दूसरे को प्रतिच्छेदित कर सकते हैं?

A) 2

B) 4

C) 0

D) 1

27) Among the given four options, three are related in a way. Select the option that is odd one out. / दिए गए चार विकल्पों में, तीन एक निश्चित तरीके से संबंधित हैं। उस विकल्प का चयन करें जो उनमें भिन्न है।

A) 12 + 3x4

B) 25 + (5x6) + 5

C) 12x6 - 18 + 6

D) 15x6 - 12 - 2x9

28) Among the given group of 4 images, which set of images can be classified as a group? / दिए गए 4 चित्रों के समूह में से किन समुच्चय चित्रों को एक समूह के रूप में वर्गीकृत किया जा सकता है?

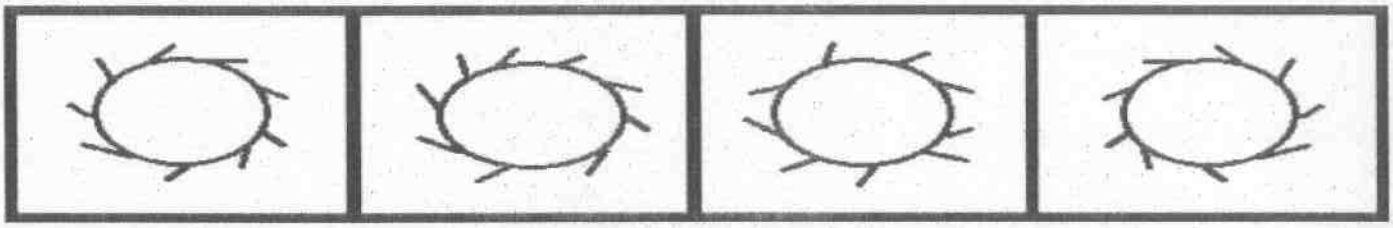

A) (1, 2, 3)

B) (2, 3, 4)

C) (1, 3, 4)

D) (1, 2, 4)

29) Into how many smaller identical squares should a square be divided so that the side length of smaller square is one tenth of original square? / एक वर्ग को कितने छोटे समान वर्गों में ऐसे विभाजित किया जाना चाहिए कि सबसे छोटे वर्ग की पक्षीय लंबाई मूल वर्ग का एक दहाई भाग होगी?

A) 25

B) 64

C) 10

D) 100

30) If "HYDERABAD" is coded as "573461213" and "CHENNAI" as "8549910", then how will "BANDAR" be coded? / यदि "HYDERABAD" को "573461213" के रूप में कूट बद्ध किया जाता है और "CHENNAI" को "8549910" के रूप में, तो "BANDAR" को कैसे कूट बद्ध किया जाएगा?

A) 219361

B) 213916

C) 219316

D) 213961

31) There are three words given here. The first two words are related in a certain manner. Select the proper word among the given four alternatives which bears the same relationship with the third word as in the manner first and second words are related.

Buttermilk : Butyric acid :: Vinegar : _____

/

यहाँ तीन शब्द दिए गए हैं। पहले दो शब्द एक निश्चित तरीके से संबंधित हैं। दिए गए चार विकल्पों में से उस उचित शब्द का चयन करें जो तीसरे शब्द के साथ उसी प्रकार से संबंधित हो जिस तरीके से पहला और दूसरा शब्द संबंधित हैं।

छाछ : बूटीरिक अम्ल :: विनेगर : _____

A) Hydrochloric acid / हाइड्रोक्लोरिक अम्ल

B) Lactic acid / लैक्टिक अम्ल

C) Acetic acid / एसिटिक अम्ल

D) Formic acid / फॉर्मिक अम्ल

Following are the eligibility criteria for becoming a member of a XYZ Married Woman's club: (i) The applicant should be married. (ii) The applicant should be able to pay one time membership fee of Rs.10,000. (iii) The applicant should be an Indian citizen by birth. (iv) The applicant should hold valid identification proof (i.e. any one out of the four viz Aadhar card, Electoral Voters ID, Driving License or PAN card). In the case of an applicant who satisfies all the eligibility criteria:	निम्नलिखित एक XYZ विवाहित महिलाओं के क्लब का सदस्य बनने के लिए पात्रता मापदंड हैं: (i) आवेदक शादी शुदा होना चाहिए। (ii) आवेदक 10,000 रुपये का एक बार सदस्यता शुल्क का भुगतान करने में सक्षम होना चाहिए। (iii) आवेदक जन्म से भारतीय नागरिक होना चाहिए। (iv) आवेदक के पास वैध पहचान प्रमाण होना चाहिए (अर्थात् चार में से कोई भी एक नामशः आधार पत्र, निर्वाचक मतदाता पहचान पत्र, चालन अनुज्ञप्ति या PAN कार्ड)। अगर एक आवेदक सभी पात्रता मापदंडों को पूरा करता है:

(a) EXCEPT (iii), but is an Indian Citizen by descent, then he is eligible under Section I.	(a) सिवाय (iii) के, लेकिन वंशानुक्रम एक भारतीय नागरिक है तो, वह धारा I के तहत पात्र है।
(b) EXCEPT (iv), but has a Valid Ration card, then he is eligible under Section II.	(b) सिवाय (iv) के, लेकिन वैध राशन कार्ड है तो, वह धारा II के तहत पात्र है।
In each of the questions below, information of an applicant is given. He/she may be eligible under one or more of the criteria. You have to take one of the following four decisions based on the information provided and the conditions given above.	नीचे दिए गए प्रत्येक प्रश्न में एक आवेदक की जानकारी दी गई है। वह एक या एक से अधिक मापदंड के तहत पात्र हो सकता है। आपको उपलब्ध कराई गई जानकारी व उपरोक्त मापदंडों के आधार पर निम्नांकित चार फैसलों में से एक लेना होगा।

32) Rebecca is a married woman and can pay Rs.10,000 in cash. She lives in United Kingdom and hold a British Passport. She is

/

रेबेका एक शादीशुदा महिला है और नकद में 10,000 रुपये अदा कर सकती है। वह यूनाइटेड किंगडम में रहती है और उसके पास एक ब्रिटिश पासपोर्ट है। वह

A) eligible under Section II / धारा II के तहत पात्र है

B) not eligible / पात्र नहीं है

C) eligible under Section I / धारा I के तहत पात्र है

D) eligible / पात्र है

---

33) Which of the following words is different from others? / निम्नलिखित शब्दों में से कौन सा दूसरों से अलग है?

A) Awkward /ख़राब

B) Dexterous /चालाक

C) Maladroit /भद्दा

D) Bungling /गोलमाल

---

34) Three out of the given four items are similar. Find the odd one. / दिए गए चार आयटमों में से तीन एक जैसे हैं। भिन्न आयटम की पहचान करें

A) FOUR3

B) SEVEN6

C) ELEVEN7

D) TWO4

35) Rohan said, "Take my age 6 years hence, multiply it by 3 and then subtract 3 times my age 4 years ago and you will know how old I am." What was the age of Rohan 2 years ago? / रोहन ने कहा, "6 वर्ष बाद की मेरी आयु को 3 से गुना करो और तब 4 वर्ष पूर्व की मेरी आयु के 3 गुने में से घटाओ, और तब तुम्हें मेरी मौजूदा उम्र का पता लग जाएगा।" रोहन की आयु 2 वर्ष पहले क्या थी?

A) 32

B) 28

C) 36

D) 30

---

36) What comes in place of question mark (?) in the series given below? / नीचे दिए गए श्रृंखला में प्रश्न चिह्न (?) के स्थान पर क्या आता है?

1, 1.44, 1.96, 2.56, ?

A) 3.34

B) 3.44

C) 3.14

D) 3.24

---

37) Rohit, Rohan and Rani are the three friends standing in a queue to pay their fees in the administrative office. Rohit stands 9th from the beginning of the queue. Rani is 14th from the end. Rohan and Rani have 4 students between them and Rohan and Rohit have 5 students between them. If Rani is in 20th position from the beginning, then Rohan's position from the beginning of the queue is:

/

रोहित, रोहन और रानी प्रशासनिक कार्यालय में अपने फीस का भुगतान करने के लिए एक कतार में खड़े तीन दोस्त हैं। रोहित कतार की शुरुआत से 9 वीं जगह पर खड़ा है। रानी अंत से 14 वीं है। रोहन और रानी के बीच 4 छात्र हैं और रोहन और रोहित के बीच 5 छात्र हैं। अगर रानी शुरुआत से 20 वीं पोज़िशन पर है तो, कतार की शुरुआत से रोहन का पोज़िशन है:

A) 17th / 17वाँ

B) 20th / 20वाँ

C) 12th / 12वाँ

D) 15th / 15वाँ

38) The missing terms in the sequence: 1.236, 2.048, 2.860, _____ , _____ , 5.296 are / श्रृंखला में लापता संख्याएं हैं: 1.236, 2.048, 2.860, _____ , _____ , 5.296

A) 3.672 and 4.484 respectively/ क्रमश: 3.672 और 4.484

B) 4.672 and 4.484 respectively/ क्रमश: 4.672 और 4.484

C) 4.672 and 5.484 respectively/ क्रमश: 4.672 और 5.484

D) 3.672 and 3.484 respectively/ क्रमश: 3.672 और 3.484

39) 10 kg of tea of brand X having price rate of Rs. 120 per kg is mixed with 20 kg of tea of brand Y having a price rate of Rs. 90 per kg. What is the average price rate of the mixture of X and Y? / X ब्रांड की 10 किलो चाय, जिसकी मूल्य दर रू. 120 प्रति किग्रा है, को रू. 90 प्रति किलो मूल्य दर वाली Y ब्रांड की 20 किग्रा चाय के साथ मिलाया जाता है। X और Y के मिश्रण की औसत मूल्य दर क्या होगी?

A) Rs.100 /kg / रू.100 /किग्रा

B) Rs. 95 /kg / रू. 95 /किग्रा

C) Rs. 120 /kg / रू. 120 /किग्रा

D) Rs. 135 /kg / रू. 135 /किग्रा

Following are the conditions for selecting an assistant in Income Tax Department. The candidate must: (i) be a graduate in any discipline with atleast 60% marks. (ii) have qualified tier-1 exam scoring more than 130 marks and tier-2 exam scoring atleast 250 marks. (iii) have secured atleast 60 marks in the interview. (iv) be less than 27 years of age as on 1st October, 2016. In the case of a candidate who satisfies all the conditions: (a) If NOT (iii), but more than 55 marks in the interview and has scored more than 92% marks in class X, then be considered for selection in the 2nd merit list. (b) If NOT (iv), but is less than 33 years of age and under backward castes reservation, then be considered for selection in the 3rd merit list. Based on the above information and criteria given in each of the following questions, you have to take decision.	निम्नलिखित आयकर विभाग में एक सहायक के चयन के लिए शर्तें हैं। उम्मीदवार को: (i) कम से कम 60% अंकों के साथ किसी भी विषय में एक ग्रेजुएट होना चाहिए। (ii) टियर-1 परीक्षा में 130 से अधिक अंक और टियर-2 परीक्षा में कम से कम 250 अंक स्कोर करके योग्यता प्राप्त किया होना चाहिए। (iii) इंटरव्यू में कम से कम 60 अंक हासिल किया होना चाहिए। (iv) 1 अक्टूबर, 2016 की तारीख़ को 27 साल से कम आयु होना चाहिए। अगर एक उम्मीदवार सभी शर्तों को पूरा करता है: (a) सिवाय (iii) के, लेकिन इंटरव्यू में 55 से अधिक अंक और दसवीं कक्षा में 92% से अधिक अंक प्राप्त किया है तो, दूसरे योग्यता क्रम सूची में चयन के लिए विचार किया जाना चाहिए। (b) सिवाय (iv) के, लेकिन उम्र 33 साल से कम है और पिछड़ी जाति आरक्षण के अन्दर आता है तो, तीसरे योग्यता क्रम सूची में चयन के लिए विचार किया जाना चाहिए। उपरोक्त जानकारी और नीचे दिए गए प्रत्येक प्रश्न में दिए गए मापदंडों के आधार पर आपको निर्णय लेना होगा।

40) These cases are given to you as on 1st October, 2016.

Candidate Information: Zaheer Shaikh is a graduate in Pharmacy with 87% marks. He qualified tier-1 and tier-2 exam with 150 and 249 marks respectively. He secured 63 marks in the interview. He belongs to backward caste category. He was born on 16-1-1993. He should be:

/

ये सभी मामले आपको अक्टूबर 1, 2016 की तारीख़ को दिए गए हैं।

उम्मीदवार की जानकारी: ज़हीर शेख 87% अंकों के साथ फार्मेसी में ग्रेजुएट है। उसने क्रमश: 150 और 249 अंकों के साथ टियर-1 और टियर-2 परीक्षा में योग्यता प्राप्त किया है। उसने इंटरव्यू में 63 अंक हासिल किए हैं। वह पिछड़ी जाति वर्ग का है। वह 16-1-1993 को पैदा हुआ था। उसे

A) rejected / अस्वीकृत करना चाहिए

B) considered for selection in the 3rd merit list / तीसरे योग्यता क्रम सूची में चयन के लिए विचार किया जाना चाहिए

C) selected / चयन करना चाहिए

D) considered for selection in the 2nd merit list / दूसरे योग्यता क्रम सूची में चयन के लिए विचार किया जाना चाहिए

41) Which of these can be glued together to form a cuboid? / इनमें से किन को जोड़कर घनाभ बनाया जा सकता है?

A) A cube of side length 6 cm and a cuboid of dimensions 5 cm X 4 cm X 3 cm / 6 सेमी लंबाई की भुजा वाला एक घन है और 5 सेमी X 4 सेमी X 3 सेमी भुजाओं वाला एक घनाभ।

B) A cube of side length 5 cm and a cuboid of dimensions 5 cm X 4 cm X 3 cm / 5 सेमी लंबाई की भुजा वाला एक घन है और 5 सेमी X 4 सेमी X 3 सेमी भुजाओं वाला एक घनाभ।

C) A cube of side length 5 cm and a cuboid of dimensions 5 cm X 4 cm X 5 cm / 5 सेमी लंबाई की भुजा वाला एक घन है और 5 सेमी X 4 सेमी X 5 सेमी भुजाओं वाला एक घनाभ।

D) A cube of side length 4 cm and a cuboid of dimensions 5 cm X 4 cm X 3 cm / 4 सेमी लंबाई की भुजा वाला एक घन है और 5 सेमी X 4 सेमी X 3 सेमी भुजाओं वाला एक घनाभ।

42) There are three words given here. The first two words are related in a certain manner. Select the proper word among the given four alternatives which bears the same relationship with the third word as in the manner first and second words are related.

Blanket : Cold :: Ozone layer : ?

/

यहाँ पर तीन शब्द दिए गए हैं। पहले दो शब्द एक निश्चित शैली से संबंधित हैं। दिए गए चार विकल्पों में से उस सही शब्द का चयन करें, जो तीसरे शब्द से वैसा ही संबंध रखता हो, जैसा कि पहले और दूसरे शब्द संबंध रखते हों।

कंबल : ठंडा :: ओजोन परत : ?

A) Sunlight / सूर्य का प्रकाश

B) Infra-red radiation / अवरक्त विकिरण

C) Ultra-Violet Rays / पराबैंगनी किरणें

D) Heat waves / गर्म तरंगें

---

43) Among the given four options, three are related in a way. Select the option that is odd one out. / दिए गए चार विकल्पों में, तीन एक निश्चित तरीके से संबंधित हैं। उस विकल्प का चयन करें जो उनमें भिन्न है।

A) Aunt / चाची

B) Brother in law / देवर

C) Sister in law / देवरानी

D) Father in law / ससुर

---

44) Joseph remembers that his brother John's wedding anniversary falls after 22nd of March but before 30th of March, while Joseph's wife remembers that John's anniversary falls before 24th of March but after 14th of March. On which date does John's anniversary fall?

/

जोसेफ याद करता है कि उसके भाई जॉन की शादी की सालगिरह 22 मार्च के बाद लेकिन 30 मार्च से पहले आती है, जबकि जोसेफ की पत्नी को याद है कि जॉन की सालगिरह 24 मार्च से पहले लेकिन 14 मार्च के बाद आती है। किस तिथि पर जॉन की सालगिरह आती है?

A) 20th / 20 वां

B) 23rd / 23 वां

C) 21st / 21 वां

D) 22nd / 22 वां

45) What replaces the question mark (?) in the following number series? / निम्नलिखित संख्या श्रृंखला में प्रश्न चिह्न (?) का स्थान कौन लेगा?

7, 8, 11, 20, 47, 128, 371, ?

A) 1091

B) 1080

C) 819

D) 1100

46) In a certain code, PCT is written as HIX, then how is LDM written in the same code? / एक निश्चित कूट में PCT को HIX के रूप में लिखा जाता है, तो उसी कूट में LDM को कैसे लिखा जाएगा?

A) LOI

B) GHR

C) FLQ

D) LGE

Following are the eligibility criteria for applying for the post of Junior Officer in a bank. (i) The candidate should be a graduate with atleast 60% aggregate marks. (ii) The candidate should have atleast 60% marks in graduation if he is a post graduate with atleast 65% (iii) The candidate should have atleast 50% marks in graduation and atleast 60% marks in post graduation if he holds a doctoral degree (Ph.D) (iv)The candidate should have atleast 60% in graduation if he has atleast 4 year work experience after post graduation. (v)The candidate should have atleast 55% marks in graduation if he has atleast 9 year work experience after graduation. The candidate will be eligible, if any one of the criteria is satisfied. According to the details of the candidate, he/she may be eligible under one or more of the criteria given above.	बैंक में कनिष्ठ अधिकारी के पद के लिए आवेदन करने के लिए पात्रता मानदंड नीचे दिया गया है। (i) उम्मीदवार कम से कम 60% कुल अंकों के साथ स्नातक होना चाहिए। (ii) यदि उम्मीदवार कम से कम 65% अंकों के साथ स्नातकोत्तर है, तो स्नातक स्तर में उसके अंक कम से कम 60% होने चाहिए। (iii) यदि उम्मीदवार ने डॉक्टरेट की डिग्री (Ph.D) प्राप्त की है, तो स्नातक स्तर में उसके अंक कम से कम 50% और स्नातकोत्तर स्तर पर कम से कम 60% होने चाहिए। (iv) यदि स्नातकोत्तर स्तर के बाद, उम्मीदवार के पास कम से कम 4 वर्ष का कार्य अनुभव है, तो स्नातक स्तर में उसके अंक कम से कम 60% होने चाहिए। (v) यदि स्नातक स्तर के बाद, उम्मीदवार के पास कम से कम 9 वर्ष का कार्य अनुभव है, तो स्नातक स्तर में उसके अंक कम से कम 55% होने चाहिए। इनमें से कोई भी एक मापदंड सतुष्ट होने पर ही उम्मीदवार पात्र होगा। उम्मीदवार के विवरण के अनुसार, वह ऊपर दिए गए एक या अधिक मापदंडों के अंतर्गत पात्र हो सकता है।

Read the following information given below and find out which of the criteria the candidate belongs to?	नीचे दी गई जानकारी पढ़ें और ज्ञात करें कि कौन सा मापदंड उम्मीदवार की जानकारी अंतर्गत आता है:

47) Candidate's information : Jaya Joshi has secured 62% marks in graduation and 55% marks in post graduation.She has been working for the last 7 year after her post graduation.

/

उम्मीदवार की जानकारी : जया जोशी ने स्नातक में 62% अंक प्राप्त किए हैं और स्नातकोत्तर में 55% अंक प्राप्त किए हैं। स्नातकोत्तर की पढ़ाई के बाद पिछले 7 वर्षों से वह काम कर रही है।

A) (i), (ii) and (iv) / (i), (ii) और (iv)

B) (iv) only / केवल (iv)

C) (i) only / केवल (i)

D) (i) and (iv) only / केवल (i) और (iv)

Following are the conditions for selecting a Cartoon Animator. The candidate must: (i) have completed an Animation course. (ii) be a graduate in any discipline with 65% marks. (iii) have a post qualification work experience of atleast 2 years in any multimedia company. (iv) be less than 30 years of age. In the case of a candidate who satisfies all the conditions: (A) If NOT (ii) above, but has scored more than 70% in Class X, the case may be referred to the General Manager. (B) If NOT (iii) above, but has a post-graduation degree, the case may be referred to Chief Executive Officer (CEO). (C) If NOT (iv) above, but has a work experience of atleast 4 years in any multimedia company, the case may be referred to the Managing Director. Based on the above information and criteria given in each of the following questions, you have to take decision.	एक कार्टून एनिमेटर के चयन के लिए शर्तें निम्नलिखित हैं। उम्मीदवार को: (i) एनीमेशन कोर्स पूरा किया होना चाहिए। (ii) 65% अंकों के साथ किसी भी विषय में ग्रेजुएट होना चाहिए। (iii) क्वालिफिकेशन के बाद किसी भी मल्टिमीडिया कंपनी में कम से कम 2 साल का कार्यानुभव होना चाहिए। (iv) 30 साल से कम उम्र का होना चाहिए। अगर एक उम्मीदवार सभी शर्तों को पूरा करता है: (A) सिवाय उपरोक्त (ii) के, लेकिन दसवीं कक्षा में 70% से अधिक प्राप्त किया है तो, मामला महाप्रबन्धक को भेजा जाए। (B) सिवाय उपरोक्त (iii) के, लेकिन एक पोस्ट-ग्रेजुएशन डिग्री है तो, मामला मुख्य कार्यपालन अधिकारी (CEO) को भेजा जाए। (C) सिवाय उपरोक्त (iv) के, लेकिन किसी भी मल्टिमीडिया कंपनी में कम से कम 4 साल का कार्यानुभव है तो, मामला प्रबंध संचालक को भेजा जाए। उपरोक्त जानकारी और नीचे दिए गए प्रत्येक प्रश्न में दिए गए मापदंडों के आधार पर आपको निर्णय लेना होगा।

48) These cases are given to you as on 10th November, 2016.

Candidate's Information : Jaya Banerjee, has secured 87% marks in graduation and 60% marks in post-graduation. She has completed a certificate course in animation technology. She was born on 13th of April, 1991. She has a post-qualification work experience of 3 years in a multimedia company from Kolkata. She should be:

/

ये सभी मामले आपको नवंबर 10, 2016 की तारीख को दिए गए हैं।

उम्मीदवार की जानकारी: जया बनर्जी ने ग्रेजुएशन में 87% अंक और पोस्ट-ग्रेजुएशन में 60% अंक हासिल किए हैं। उसने एनीमेशन प्रौद्योगिकी के क्षेत्र में सर्टिफिकेट कोर्स पूरा किया है। वह अप्रैल 13, 1991 को पैदा हुई थी। उसे क्वालिफिकेशन के बाद कोलकाता से एक मल्टिमीडिया कंपनी में 3 साल का कार्यानुभव है। उसे

A) referred to the Managing Director / प्रबंध संचालक के पास भेजा जाना चाहिए

B) referred to the CEO / CEO के पास भेजा जाना चाहिए

C) Selected / चयन करना चाहिए

D) Rejected / चयन नहीं करना चाहिए

For admission in ABC College for Post graduation, the following conditions apply. (i) Be a graduate with 80% marks. (ii) Should score more than 85% marks in the Common Entrance Test. (iii) Should be less than 28 years of age at the time of Common Entrance Test. (iv) Should have scored 80% in the interview.	ABC कॉलेज में पोस्ट ग्रेजुएशन के दाख़िले के लिए, निम्न शर्तें लागू होती हैं। (i) 80% अंकों के साथ ग्रेजुएट होना चाहिए। (ii) सामान्य प्रवेश परीक्षा में 85% से अधिक अंक प्राप्त करना चाहिए। (iii) सामान्य प्रवेश परीक्षा के समय आयु 28 वर्ष से कम होनी चाहिए। (iv) इंटरव्यू में 80% प्राप्त किया होना चाहिए।
In the case of a candidate who satisfies all the conditions: (a) EXCEPT (i), but has done diploma in Computer Science and scored more than 75% marks in graduation, then be considered for admission in round 2. (b) EXCEPT (ii), but has done diploma in Computer Science and scored more than 60% in Common Entrance Test, then be considered for admission in round 3.	अगर एक उम्मीदवार सभी शर्तों को पूरा करता है: (a) सिवाय (i) के, लेकिन कंप्यूटर विज्ञान में डिप्लोमा किया है और ग्रेजुएशन में 75% से अधिक अंक प्राप्त किया है तो, राउन्ड 2 में दाख़िले के लिए विचार किया जाना है। (b) सिवाय (ii) के, लेकिन कंप्यूटर विज्ञान में डिप्लोमा किया है और सामान्य प्रवेश परीक्षा में 60% से अधिक अंक प्राप्त किया है तो, राउन्ड 3 में दाख़िले के लिए विचार किया जाना है।
In each of the questions below, information of a candidate is given. You have to take one of the following four decisions based on the information provided and the conditions given above. All the cases are given to you as on 10-06-2016. You have to indicate your decision by marking answers to each question.	नीचे दिए गए प्रत्येक प्रश्न में एक उम्मीदवार की जानकारी दी गई है। आपको उपलब्ध कराई गई जानकारी व उपरोक्त शर्तों के आधार पर निम्नांकित चार फैसलों में से एक लेना होगा। आपको सभी मामले 10-06-2016 की तारीख को दिए गए हैं। प्रत्येक प्रश्न के उत्तर अंकन द्वारा आपको अपना निर्णय सूचित करना होगा।

49) Ravi has scored 81% in graduation and 55% in the Common Entrance Test. He has scored 84% in the interview. He was born on 04-04-1992. He doesn't have diploma in Computer Science. He should

/

रवि ने ग्रेजुएशन में 81% प्राप्त किया है और सामान्य प्रवेश परीक्षा में 55% प्राप्त किया है। उसने इंटरव्यू में 84% प्राप्त किया है। वह 04-04-1992 को पैदा हुआ था। उसके पास कंप्यूटर विज्ञान में डिप्लोमा नहीं है। उसे

A) be considered for admission in round 2 / राउन्ड 2 में दाख़िले के लिए विचार किया जाना चाहिए

B) be considered for admission in round 3 / राउन्ड 3 में दाख़िले के लिए विचार किया जाना चाहिए

C) not be admitted / दाख़िला नहीं देना चाहिए

D) be admitted / दाख़िला देना चाहिए

---

50) Select the option that is odd one out among the given four options. / दिए गए चार विकल्पों में से उस विकल्प का चयन करें जो बिलकुल ही बेमेल है।

A) temporal lobe / टेम्पोरल लोब

B) trachea / ट्रेकिया

C) cerebellum / सेरिबेलम

D) brainstem / ब्रेनस्टेम

---

51) Among the given group of 4 images, which set of images can be classified as a group? / दिए गए 4 चित्रों के समूह में से किन समुच्चय चित्रों को एक समूह के रूप में वर्गीकृत किया जा सकता है?

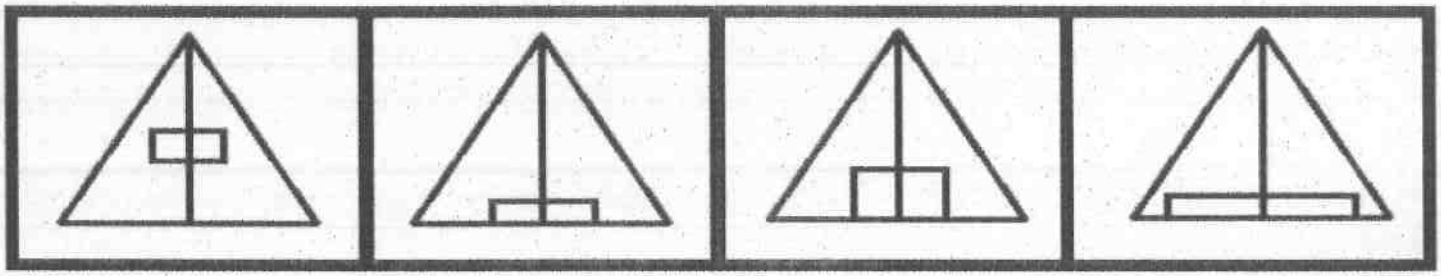

A) (1, 2, 3)

B) (2, 3, 4)

C) (1, 2, 4)

D) (1, 3, 4)

52) Three out of the given four numbers are similar. Find the odd one. / दिए गए चार संख्या में से तीन एक जैसे हैं। भिन्न संख्या की पहचान करें।

A) 91

B) 56

C) 21

D) 82

53) A figure is given on the left with a pattern. Observe and find which of the three images on the right looks similar to the right half of this pattern? / बाईं ओर एक पैटर्न के साथ एक चित्र दी गई है। ध्यानपूर्वक देखिए और बताइए कि दाईं ओर की तीन चित्रों में से कौन इस पैटर्न के दाएँ अर्ध हिस्से के समान दिखाई पड़ती है?

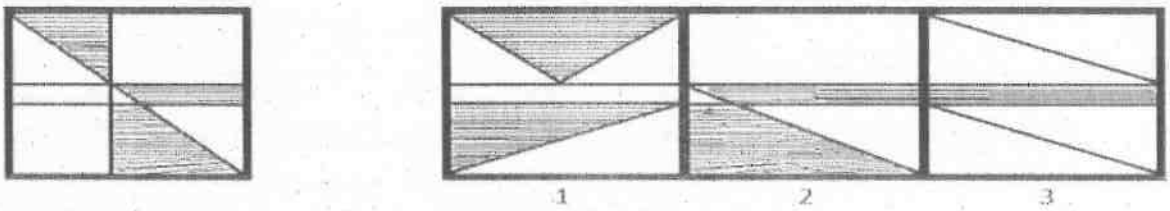

A) 2

B) 1

C) 3

D) Both 1 and 2 / 1 और 2 दोनों

54) A got 20 marks more than B and B got 10 marks less than C. C scored 66 marks. Find the marks scored by B and A respectively. / A को B से 20 अंक अधिक मिले और B को C से 10 अंक कम मिले। C को 66 अंक मिले हैं। B और A को क्रमश: कितने अंक मिले हैं?

A) 56 and 76 / 56 और 76

B) 76 and 58 / 76 और 58

C) 66 and 56 / 66 और 56

D) 76 and 66 / 76 और 66

55) Which would be the first term of the given sequence that would have three different digits: -46, -37, -28, -19, ...? / दी गई श्रृंखला में तीन अंकीय पहली संख्या कौन सी होगी: -46, -37, -28, -19, ...?

A) 21st / 21वीं

B) 19th / 19वीं

C) 20th / 20वीं

D) 18th / 18वीं

56) Among the given group of 4 images, which set of images can be classified as a group? / दिए गए 4 चित्रों के समूह में से किन समुच्चय चित्रों को एक समूह के रूप में वर्गीकृत किया जा सकता है?

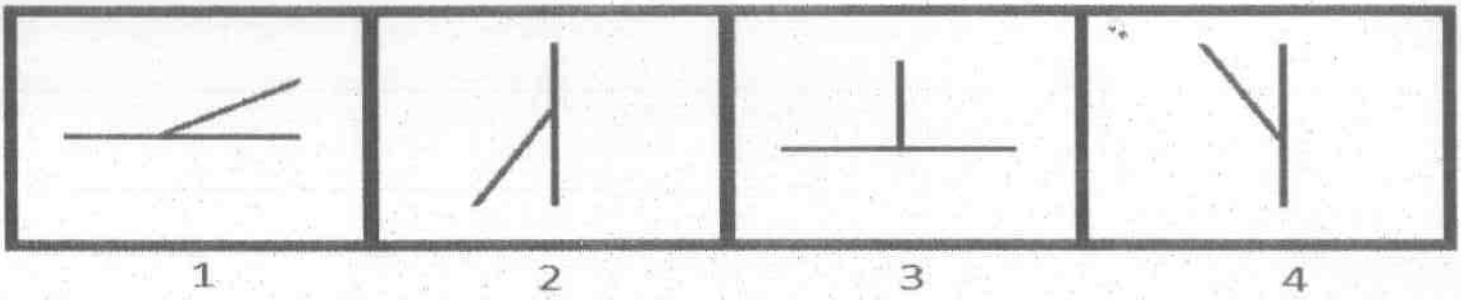

A) (1, 3, 4)

B) (1, 2, 3)

C) (2, 3, 4)

D) (1, 2, 4)

---

57) D is the father of B. A is the daughter of C and C is the son of D. B is the third youngest person in the family. T is the son of C. Take out the true statement. / D, B का पिता है। A, C का बेटी है और C, D का बेटा है। B परिवार का तीसरा सबसे छोटा व्यक्ति है। T, C का बेटा है। सही कथन चुनें।

A) B is the aunt of T / B, T की चाची है।

B) B is the uncle of A / B, A का चाचा है।

C) B is the son of D / B, D का बेटा है।

D) C is the elder brother of B / C, B का बड़ा भाई है।

---

58) A,B,C,D,E and F are the six members of the family. There are two married couples in the family. Each of them like different ice-cream flavours viz Vanilla, Mango, Butterscotch, Strawberry, Blackcurrant and Chocolate. A's wife likes Vanilla. E's daughter-in-law likes Mango. F's daughter likes Strawberry and his son likes Chocolate. If the youngest boy in the family is B, then the youngest girl doesn't seem to be D. The eldest person in the family likes Butterscotch, then the relation between one who likes Vanilla and the one who likes Mango is of

/

A, B, C, D, E और F एक परिवार के छः सदस्य हैं। परिवार में दो विवाहित जोड़े हैं। उनमें से हर एक को अलग अलग आइसक्रीम के स्वाद पसंद हैं नामशः वैनिला, मैंगो, बटरस्कॉच, स्ट्रॉबेरी, ब्लैक करन्ट और चॉकलेट। A की पत्नी को वैनिला पसंद है। E की बहू को मैंगो पसंद है। F की बेटी को स्ट्रॉबेरी पसंद है और बेटे को चॉकलेट पसंद है। अगर परिवार में सबसे कम उम्र का लड़का B है तो, सबसे कम उम्र की लड़की D नहीं हो सकती है। परिवार में उम्र में सबसे बड़े व्यक्ति को बटरस्कॉच पसंद है, तो वैनिला पसंद करने वाले सदस्य का मैंगो पसंद करने वाले सदस्य से क्या संबंध है?

A) Mother and Father / माता और पिता

B) Father and Son / पिता और बेटा

C) Father-in-law and Daughter-in-law / ससुर - बहू

D) Mother-in-law and Daughter-in-law / सास - बहू

59) An image is made from multiple geometric figures (marked with numbers). In the image, some regions are formed. In each of these regions, as many dots are to be placed as the number of geometric figures that has this as a part of it. In total, how many dots will be placed in the image?

/

एक चित्र को कई ज्यामितीय आकृतियों से बनाया गया है (संख्याओं से चिह्नित)। चित्र में, कुछ क्षेत्रों को बनाया गया है। इस प्रत्येक क्षेत्र में, उतने ही बिंदु स्थापित करने हैं, जितनी ज्यामितीय आकृतियों की संख्या, जो इसका हिस्सा है। कुल मिलाकर, चित्र में कितने बिंदु स्थापित करने होंगे?

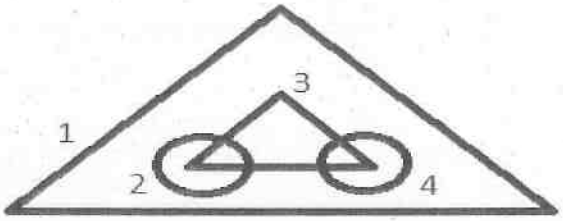

A) 10

B) 13

C) 8

D) 12

60) Select the option that is odd one out among the given four options. / उस विकल्प का चयन करें जो दिए गए चार विकल्पों के बीच असंगत/भिन्न है।

A) 1000

B) 125

C) 2442

D) 343

Section 2 - PART B

No. of Questions: 60

61) Which of the following states were NOT created to recognise differences based on culture, ethnicity or geography? / संस्कृति, जाति या भूगोल के आधार पर विभिन्नता की पहचान के लिए निम्नलिखित में से किस राज्य का गठन नहीं किया गया था?

A) Uttarakhand / उत्तराखंड

B) Jharkhand / झारखंड

C) Nagaland / नागालैंड

D) Telangana / तेलंगाना

62) Which musical instrument is Lord Shiva associated with? / कौन सा संगीत यंत्र भगवान शिव से संबंधित है?

A) Veena / वीणा

B) Ektara / एकतारा

C) Damru / डमरू

D) Flute / बांसुरी

63) Chilika lake is located in which state of India? / चिल्का झील भारत के किस राज्य में स्थित है?

A) Jammu & Kashmir / जम्मू और कश्मीर

B) Rajasthan / राजस्थान

C) Odisha / ओडिशा

D) Bihar / बिहार

64) A chemical half-reaction where an element loses electron is called: / एक रासायनिक अर्द्ध - प्रतिक्रिया जहां एक तत्व इलेक्ट्रॉन खो देता है, इनमें से क्या कहलाती है?

A) Displacement reaction / विस्थापन प्रतिक्रिया

B) Oxidation reaction / ऑक्सीकरण प्रतिक्रिया

C) Reduction reaction / अपचायक प्रतिक्रिया

D) Rearrangement reaction / पुनर्विन्यास प्रतिक्रिया

65) Who among the following holds the distinction of having held the office of the Prime minister for the longest period of time? / निम्नलिखित में से किसे सबसे लंबी अवधि तक प्रधानमंत्री के पद पर आसीन होने का गौरव प्राप्त है?

A) Pt. Jawaharlal Nehru / पं. जवाहर लाल नेहरू

B) Atal Bihari Vajpayee / अटल बिहारी वाजपेयी

C) Indira Gandhi / इंदिरा गांधी

D) Rajiv Gandhi / राजीव गांधी

---

66) Miroslav Klose, the all-time World Cup top-scorer, announced his retirement from football belonged to which of the following countries? / हर बार विश्व कप का टॉप स्कोरर, मिरोस्लाव क्लोसे ने फुटबॉल से अपने संन्यास की घोषणा की, वह निम्नलिखित देशों में से किससे संबंधित है?

A) Germany / जर्मनी

B) Italy / इटली

C) France / फ्रांस

D) England / इंग्लैंड

---

67) Which of the following banks has launched India's first Internationally-Listed Certified Green Bond, to finance climate change solutions around the world at London Stock Exchange (LSE)? / निम्नांकित में से किस बैंक ने जलवायु परिवर्तन समाधानों को वित्त प्रदान करने के लिए लंदन स्टॉक एक्सचेंज (LSE) में भारत का पहला अंतर्राष्ट्रीय रूप से सूचीबद्ध प्रमाणित ग्रीन बॉण्ड जारी किया?

A) Yes Bank / येस बैंक

B) HDFC / एचडीएफसी

C) Axis / ऐक्सिस

D) SBI / एसबीआइ

---

68) In the domestic electric circuits, the red coloured insulated copper wire is called / घरेलू परिपथ में लाल रंग का विद्युत रोधी तांबे का तार क्या कहलाता है?

A) Neutral wire / निष्पक्ष तार

B) Earthing wire / भूसंपर्कन तार

C) Fuse wire / फ्यूज़ तार

D) Live wire / विद्युन्मय तार

69) Who is the first Indian test captain to hit double century outside India? / भारत के बाहर दोहरा शतक मारने वाला पहला भारतीय टेस्ट कप्तान कौन है?

A) M. S. Dhoni / M. S. धोनी

B) Virat Kohli / विराट कोहली

C) Virender Sehwag / वीरेंद्र सहवाग

D) Rahul Dravid / राहुल द्रविड

70) 'Right to practice as an advocate' is a / ' एक वकील के रूप में प्रैक्टिस करने का अधिकार'

A) Statutory right / सांविधिक अधिकार है

B) Fundamental right / मौलिक अधिकार है

C) Human right / मानवाधिकार है

D) Constitutional right / संवैधानिक अधिकार है

71) Who was appointed as the first Portuguese Governor in India? / किसे भारत में पहले पुर्तगाली गवर्नर के रूप में नियुक्त किया गया था?

A) Francisco de Almeida / फ्रांसिस्को डी अल्मीडा

B) Diogo Lopes de Sequeira / डियोगो लोपेज डी सेकुएरा

C) Martim Afonso de Sousa / मॉर्टिम अफोंसो डी सूज़ा

D) Nuno da Cunha / नुनो दा कुन्हा

72) A chemical which can act as both reducing as well as oxidising agent is: / वह रसायन कौन सा है जो अपचायक के साथ साथ ऑक्सीकारक दोनों के रूप में कार्य कर सकता है?

A) Manganese dioxide / मैंगनीज़ डाइऑक्साइड

B) Sulphur dioxide / सल्फ़र डाइऑक्साइड

C) Nitric acid / नाइट्रिक एसिड

D) Hydrogen sulphide / हाइड्रोजन सल्फ़ाइड

73) On which river is the world's largest river island located? / किस नदी पर दुनिया का सबसे बड़ा नदी द्वीप स्थित है?

A) Indus / सिंधु

B) Mahanadi / महानदी

C) Ganga / गंगा

D) Brahmaputra / ब्रह्मपुत्र

74) The development and implementation of a 'ZED' scheme launched by the Government of India, is based on the principles of Zero defects and to ensure that the goods have / भारत सरकार द्वारा शुरु की गई एक 'जेईडी' (ZED) योजना का विकास तथा कार्यान्वयन जीरो डिफेक्ट्स के सिद्धातों पर आधारित है और यह सुनिश्चित करता है कि वस्तुओं में निम्नलिखित हो

A) Zero Tolerance / शून्य सहनशीलता

B) Zero effect on the Tourism Management / पर्यटन प्रबंधन पर शून्य प्रभाव

C) Zero effect on the National Safety and Security / राष्ट्रीय सुरक्षा तथा रक्षा पर शून्य प्रभाव

D) Zero effect on the Environment / पर्यावरण पर शून्य प्रभाव

75) Silvio Gazzaniga, an artist who designed and created a famous trophy passed away in November 2016, which trophy was it? / सिल्वियो गैज़नीगा, एक कलाकार जिसने एक प्रसिद्ध ट्रॉफी का रूपांकन और सृष्टि किया था उनका नवंबर 2016 में निधन हो गया, वह ट्रॉफी कौन सी थी ?

A) Wimbledon Cup / विंबलडन कप

B) Academy Award Trophy / अकादमी पुरस्कार ट्रॉफी

C) FIFA World Cup / FIFA विश्व कप

D) ICC Cricket World Cup / ICC क्रिकेट विश्व कप

76) According to the IUCN Red Data List, out of the total 325 globally threatened species in the Western Ghats, how many are classified as critically endangered? / IUCN रेड डेटा लिस्ट के अनुसार पश्चिमी घाट की कुल 325 वैश्विक रूप से संकटापन्न प्रजातियों में से कितनी प्रजातियों को विलुप्तप्रायः प्रजाति के रूप में वर्गीकृत किया गया है?

A) 129

B) 31

C) 51

D) 49

77) The law of diminishing returns refers to an eventual fall in / ह्रासमान प्रतिफल का नियम किसमें एक संभावित गिरावट को संदर्भित करता है?

A) average income of the firm / फर्म की औसत आय में

B) total earning of the firm / फर्म की कुल कमाई में

C) total production of all the factors of production / उत्पादन के सभी कारकों के कुल उत्पादन में

D) marginal product of the variable factor / चर कारक के सीमांत उत्पाद में

78) Tata Institute is another name for which of the following institute in science stream in the country? / निम्न संस्थान में से टाटा इंस्टिट्यूट देश के विज्ञान संकाय में किस संस्थान का दूसरा नाम है?

A) IIT, Powai / IIT, पवई

B) IISc, Bangalore / IISc, बंगलौर

C) BITS, Pilani / BITS, पिलानी

D) IIT, Kharagpur / IIT, खड़गपुर

79) Identify the INCORRECT statement related with "Tuti-nama" the most celebrated works of painting accomplished during the times of Akbar. / अकबर के समय के दौरान पूर्ण की गई चित्रकला के सबसे प्रख्यात कार्य "तूती-नामा" के संबंध में गलत कथन को पहचानें।

A) It is an illustrated compilation of 52 stories in 250 miniature paintings / यह 250 लघु चित्रों में 52 कहानियों का एक सचित्र संकलन है

B) Tuti-nama is said to be the first work of the Mughal School / तूती-नामा को मुगल पद्धति की पहली रचना मानी जाती है

C) Tuti-Nama literally means the "Tales of a Parrot" / तूती-नामा का शाब्दिक अर्थ "एक तोते का किस्सा" है

D) The work was completed in a span of four years under Mir Sayyid Ali and Abdus Samad / रचना को मीर सैयद अली और अब्दुस समद के अधीन चार वर्षों की अवधि में पूरा किया गया है

80) Who among the following personalities called the Right to Constitutional Remedies as the 'the heart and soul' of the Indian Constitution? / इनमें से किसने संवैधानिक उपचार के अधिकार को भारत के संविधान का 'हृदय और आत्मा' कहा था?

A) Smt.Indira Gandhi / श्रीमति. इंदिरा गांधी

B) Dr.B.R. Ambedkar / डॉ. बी. आर. अंबेडकर

C) Pt.Jawaharlal Nehru / पं.जवाहरलाल नेहरू

D) Dr.Rajendra Prasad / डॉ. राजेंद्र प्रसाद

81) Sepp Blatter, who resigned in 2015, was one of the presidents of which of the following world body of sports? / सेप ब्लैटर, जिन्होंने 2015 में इस्तीफा दे दिया, निम्नलिखित में से किस खेल के विश्व निकाय के अध्यक्ष थे?

A) Badminton / बैडमिंटन

B) Hockey / हॉकी

C) Football / फुटबॉल

D) Tennis / टेनिस

82) Which of the following is the Indian government apex body for the game of squash? / निम्न में से कौन सा स्क्वाश के खेल के लिए भारत सरकार का शीर्ष निकाय है?

A) Rackets and Squash Council of India (RSCI) / रैकेट्स एंड स्क्वाश कौंसिल ऑफ़ इंडिया (RSCI)

B) Squash Rackets Federation of India (SRFI) / स्क्वाश रैकेट्स फ़ेडरेशन ऑफ़ इंडिया (SRFI)

C) Council for Squash / कौंसिल फॉर स्क्वाश

D) Squash Association of India (SAI) / स्क्वाश असोसिएशन ऑफ़ इंडिया (SAI)

83) Who was the captain of Indian Kabaddi team that won the Kabaddi World Cup 2016? / कबड्डी विश्व कप 2016 जीतने वाली भारतीय कबड्डी टीम का कप्तान कौन था?

A) Anup Kumar / अनूप कुमार

B) Meraj Sheykh / मेराज शेख

C) Sandeep Singh / संदीप सिंह

D) Narendra Kumar / नरेंद्र कुमार

84) A metal which is a good conductor of heat and electricity and can replace silver from its solution is / एक ऐसी धातु जो ऊष्मा और बिलजी का सुचालक है और विलयन से सिल्वर को स्थानांतरित कर देता है, यह निम्न में से कौन सा है?

A) Copper / तांबा

B) Gold / गोल्ड

C) Platinum / प्लैटिनम

D) Tungsten / टंगस्टन

85) Where in India is the economically and medicinally important plant, Indian Belladona found? / आर्थिक रूप से और औषधीय रूप से महत्वपूर्ण पौधा, भारतीय बेलाडोना, भारत में कहाँ पाया जाता है?

A) West Bengal / पश्चिम बंगाल

B) Odisha / ओडिशा

C) Karnataka / कर्नाटक

D) Jammu and Kashmir / जम्मू-कश्मीर

86) Who is the only Indian player to have won two individual gold medals in the history of paralympics? / पैरालिम्पिक्स के इतिहास में दो व्यक्तिगत स्वर्ण पदक जीतने वाला एकमात्र भारतीय खिलाड़ी कौन है?

A) Mariyappan Thangavelu / मरियप्पन थान्गावेलु

B) Girisha Nagarajegowda / गिरिशा नागराजेगौडा

C) Devendra Jhajharia / देवेंद्र झाझड़िया

D) Rajinder Singh Rahelu / राजिंदर सिंह रहेलू

87) Who of the following scientist discovered and named the element thallium.? / निम्न में से किस वैज्ञानिक ने थेलियम तत्व का आविष्कार एवं नामकरण किया है?

A) Linus Pauling / लिनस पॉलिंग

B) Alfred Kinsey / अल्फ्रेड किन्से

C) William Thomson / विलियम थॉमसन

D) William Crookes / विलियम क्रूक्स

88) J.N.P Bhagwathi is considered as a pioneer of / जे.एन.पी भगवती को किसका प्रवर्तक माना गया है

A) Human Rights Law / मानव अधिकार कानून

B) Public Interest Litigation /जनहित याचिका

C) Consumer Law / उपभोक्ता कानून

D) Indian Jurisprudence / भारतीय न्यायशास्त्र

89) Which of the following countries was represented by the smallest delegation of just one person in the Rio 2016 Olympics? / रियो 2016 ओलंपिक में निम्न में से कौन से देश का सिर्फ एक व्यक्ति का सबसे छोटा प्रतिनिधायन द्वारा प्रतिनिधित्व किया गया था?

A) Tuvalu / तुवालु

B) Pakistan / पाकिस्तान

C) Monaco / मोनाको

D) Serbia / सर्बिया

90) Which one of the following is a food crop grown in India? / निम्न में से कौन सा भारत में उगाई जाने वाली खाद्य फ़सल है?

A) Groundnut / मूंगफली

B) Rubber / रबड़

C) Coffee / कॉफी

D) Gram / ग्राम

91) In November 2016, Axis Bank in collaboration with which e-commerce company launched the 'Axis Bank Buzz Credit Card'? / नवंबर 2016 में, एक्सिस बैंक ने कौनसे ई-कॉमर्स कंपनी के सहयोग से 'एक्सिस बैंक बज़ क्रेडिट कार्ड' का आरम्भ किया?

A) Flipkart / फ्लिपकार्ट

B) eBay / ईबे

C) Amazon / अमेज़ॉन

D) Snapdeal / स्नैपडील

92) In order to keep the cost of the army low, which Sultan introduced the market control or price control policy? / सैन्य खर्चे को कम करने के लिए, किस सुल्तान ने बाजार नियंत्रण या मूल्य नियंत्रण नीति चलाई?

A) Ghiyasuddin Tughlaq / गियासुद्दीन तुगलक

B) Balban / बलबान

C) Alauddin Khilji / अलाउद्दीन खिलजी

D) Mohammad Tughlaq / मोहम्मद तुगलक

93) Which of the following is declared the largest river island by Guinness World Records and which became the first island district of India in September 2016? / निम्न में से कौन सा सितंबर 2016 में गिनीज़ वर्ल्ड रिकॉर्ड्स द्वारा सबसे बड़ा नदी द्वीप घोषित किया गया और जो भारत का पहला द्वीप ज़िला बन गया?

A) Alappuzha, Kerala / अलाप्पुझा, केरल

B) Sagar, West Bengal / सागर, पश्चिम बंगाल

C) Sriharikota, Andhra Pradesh / श्रीहरिकोटा, आंध्र प्रदेश

D) Majuli, Assam / माजुली, असम

94) India's first LIGO (Laser Interferometer Gravitational-Wave Observatory) laboratory will be set up in which of the following district of Maharashtra? / भारत की पहली LIGO (लेज़र इंटरफेरोमीटर ग्रेवीटेशनल-वेव अॉब्जर्वेट्री) प्रयोगशाला महाराष्ट्र के किस जिले में स्थापित की जाएगी?

A) Wardha / वर्धा

B) Satara / सतारा

C) Hingoli / हिंगोली

D) Pune / पुणे

95) Which of the following general elections was spread over a period of four months in India? / भारत में इनमें से कौन से आम चुनाव चार महीने की अवधि तक विस्तीर्ण हुए थे?

A) Third general elections / तीसरे आम चुनाव

B) First general elections / पहले आम चुनाव

C) Seventh general elections / सातवें आम चुनाव

D) Fourth general elections / चौथे आम चुनाव

---

96) Who can prescribe the maximum period for which a person can be detained under any law as preventive detention? / उस अधिकतम अवधि का निर्धारण निम्नलिखित में से कौन कर सकते हैं, जिसमें एक व्यक्ति को नज़रबंद के रूप में किसी भी क़ानून के तहत हिरासत में लिया जा सकता है?

A) President / राष्ट्रपति

B) Judges of High Court / उच्च न्यायालय के न्यायाधीश

C) Parliament / संसद

D) Central Government / केंद्र सरकार

---

97) Sri Chaitanya, a Bhakti saint introduced sankirtana or community singing in the name of which God? / श्री चैतन्य, एक भक्ति संत ने किस भगवान के नाम से संकीर्तण या सामुदायिक गायन की शुरूआत की?

A) Lord Shiva / भगवान शिव

B) Lord Ganesha / भगवान गणेश

C) Lord Krishna / भगवान कृष्ण

D) Lord Hanuman / भगवान हनुमान

---

98) In which of the following languages was the Constitution of India drafted and enacted? / निम्नलिखित में से किस भाषा में भारत के संविधान का मसौदा तैयार किया गया और यह अधिनियमित किया गया था?

A) Hindi / हिंदी

B) Bengali / बंगाली

C) Punjabi / पंजाबी

D) English / अंग्रेज़ी

99) Who among the following is also known as the, "Barefoot Painter"? / निम्नलिखित में से कौन "बेयरफुट पेंटर" के रूप में भी जाना जाते हैं?

A) Maniam / मनियम

B) M. F. Hussain / M. F. हुसैन

C) Kalipada Ghoshal / कालिपद घोषाल

D) Manishi Dey / मनीषी डे

100) Which among the following is the second longest river that originates in India? / निम्न में से कौन सी एक दूसरी सबसे लंबी नदी है जिसका उद्गम भारत में होता है?

A) Ganga / गंगा

B) Mahanadi / महानदी

C) Kaveri / कावेरी

D) Godavari / गोदावरी

101) Which of the following is the highest waterfalls of Meghalaya? / निम्नलिखित में से कौन मेघालय का सबसे ऊंचा जलप्रपात है?

A) Dain Thlen Falls / डैन थलेन जलप्रपात

B) Kynrem Falls / किनरेम जलप्रपात

C) Nohkalikai Falls / नोहकालिखई जलप्रपात

D) Pelga Falls / पेल्गा जलप्रपात

102) Who was appointed as the Prime Minister of United Kingdom in July 2016? / जुलाई 2016 में कौन यूनाइटेड किंगडम के प्रधानमंत्री के रूप में नियुक्त किए गए थे?

A) Margaret Thatcher / मार्गरेट थैचर

B) Theresa May / थेरेसा मे

C) Gordon Brown / गॉर्डन ब्राउन

D) David Cameron / डेविड कैमरून

103) Where is the largest living structure on the Earth located? / पृथ्वी पर सबसे बड़ा जीवित संरचना कहाँ स्थित है?

A) Ganges River System, India / गंगा नदी प्रणाली, भारत

B) Amazon Basin, Brazil / अमेजन बेसिन, ब्राजील

C) Tibetan Plateau, China / तिब्बती पठार, चीन

D) Great Barrier Reef, Australia / ग्रेट बैरियर रीफ, ऑस्ट्रेलिया

104) Which of the following places is the birthplace of Adi Shankaracharya? / निम्नलिखित स्थानों में से, आदि शंकराचार्य का जन्मस्थान कौन सा है?

A) Tirur / तिरूर

B) Kaladi / कालाड़ी

C) Guruvayoor / गुरुवायूर

D) Thiruvaiyaru / थिरुवैयारु

105) Act by legislature or executive in violation of Fundamental right is / मौलिक अधिकार के उल्लंघन में वैधानिक या कार्यकारी द्वारा की गई कार्रवाई क्या होती है

A) Valid /मान्य

B) Binding / बाध्यकारी

C) Unconstitutional / असंवैधानिक

D) Illegal / गैर-कानूनी

106) What happens to the image distance in the eye when we increase the distance of an object from the eye? / आंख में प्रतिबिंब की दूरी का क्या होता है जब हम आंख से वस्तु की दूरी को बढ़ाते हैं?

A) Does not change / नहीं बदलती है

B) Increases / बढ़ती है

C) Decreases / घटती है

D) Becomes twice the object distance / वस्तु एके दूरी की दुगुनी हो जाती है

107) Siraj-ud-Daulah (Nawab of Bengal) was supported by which country in the Battle of Plassey? / शिजाउद्दौला (बंगाल का नवाब) को पलासी की लड़ाई में किस देश से मदद मिली थी?

A) Germans / जर्मन

B) French / फ्रेंच

C) Dutch / डच

D) Portuguese / पुर्तगाली

108) How many Mahajanapadas were there in the Vedic period? / वैदिक काल में कितने महाजनपद थे?

A) Fourteen / चौदह

B) Sixteen / सोलह

C) Ten / दस

D) Eighteen / अठारह

109) Which Mughal Emperor instituted a new system called the Dahsala or the Bandobast Arazi or the Zabti system? / दहशला या बंदोबस्ती अर्जी या जब्ती प्रणाली नामक नई प्रणाली की शुरूआत किस मुगल सम्राट ने की थी?

A) Akbar / अकबर

B) Jehangir / जहांगीर

C) Shah Jahan / शाहजहाँ

D) Babur / बाबर

110) Which of the following states have the highest catchment area for Godavari river? / निम्नलिखित में से किस राज्य में गोदावरी नदी के लिए सबसे ऊंचा जलसंग्रह क्षेत्र है?

A) Madhya Pradesh / मध्य प्रदेश

B) Karnataka / कर्नाटक

C) Odisha / उड़ीसा

D) Maharashtra / महाराष्ट्र

111) Free and fair election in india is ensured by which of the following constitutional body. / भारत में मुक्त और निष्पक्ष चुनावों को किस निकाय द्वारा सुनिश्चित किया जाता है?

A) Planning commission / योजना आयोग

B) Supreme court / सर्वोच्च न्यायालय

C) Political parties / राजनीतिक पार्टी

D) Election commission / चुनाव आयोग

112) Who was re-elected as Spain's Prime Minister in October 2016? / अक्टूबर 2016 में स्पेन के प्रधानमंत्री के रूप में किसे पुन: निर्वाचित किया गया था?

A) Felipe González / फेलिप गोंजालेज

B) José María Aznar / जोस मारिया अज़नर

C) Mariano Rajoy / मरियानो रजोय

D) José Luis Rodríguez Zapatero / जोस लुइस रोड्रिगेज जापाटेरो

113) In the banking terminology, a passive deposit is one in which the initiative lies with / बैंकिंग शब्दावली में, निष्क्रिय जमापूंजी वो है जिसमें आरम्भ करने का अधिकार किसके साथ निहित होता है?

A) the central bank / केंद्रीय बैंक

B) bank / बैंक

C) government / सरकार

D) depositor / जमाकर्ता

---

114) The play "Vikramorvasiyam" was written by / नाटक "विक्रमोर्वशीयम" किसने लिखा था?

A) Tulsidas / तुलसीदास

B) Valmiki / वाल्मीकि

C) Aryabhatta / आर्यभट्ट

D) Kalidasa / कालिदास

---

115) After 1975 "Emergency" in India, the following precaution is taken among certain others / भारत में वर्ष 1975 की "आपातकाल स्थिति" के बाद, कुछ अन्य सावधानियों के साथ कौन सी सावधानी बरती गई है

A) Internal disturbance can be a ground for emergency / आपातकाल के लिए आंतरिक अशांति एक आधार हो सकती है

B) Judicial review is not available over emergency proclamation / न्यायिक समीक्षा आपातकाल की घोषणा पर उपलब्ध नहीं होती है

C) President cannot revoke proclamation / राष्ट्रपति घोषणा को वापस नहीं ले सकते हैं

D) Proclamation of emergency is to be passed by each house of Parliament with certain majority / आपातकाल की घोषणा को निश्चित बहुमत के साथ संसद के प्रत्येक सदन द्वारा पारित किया जाता है

---

116) Which Fundamental Right is included in Article 32 of the Indian Constitution? / भारतीय संविधान की धारा 32 में कौन सा मौलिक अधिकार शामिल है?

A) Right to Constitutional Remedies / संवैधानिक उपचार का अधिकार

B) Cultural and Educational Right / सांस्कृतिक और शैक्षिक अधिकार

C) Right to Freedom of Religion / धार्मिक स्वतंत्रता का अधिकार

D) Right to Freedom / स्वतंत्रता का अधिकार

117) Which of the following states of India has two capitals? / भारत के निम्नलिखित में से कौन से राज्य की दो राजधानियाँ हैं?

A) Haryana / हरियाणा

B) Punjab / पंजाब

C) Jammu and Kashmir / जम्मू व कश्मीर

D) Rajasthan / राजस्थान

118) When the fixed cost of a farm is expressed as an average, it / जब खेत की तय लागत को एक औसत के रूप में व्यक्त किया जाता है, तब यह

A) shows a continuous decline with increase of output / उत्पादन में वृद्धि के साथ एक सतत गिरावट दिखाती है

B) is not universal / सार्वभौमिक नहीं है

C) is fixed even in the long run / लंबे समय के लिए तय हो जाती है

D) don't reflect diminishing marginal return / ह्रासमान सीमांत प्रतिफल को प्रतिबिंबित नहीं करती है

119) As per the Theory of Demand, which of the following is TRUE for Normal Goods? / मांग के सिद्धांत के अनुसार, निम्न में से कौन सा एक सामान्य वस्तुओं के लिए सही है?

A) When price increases, demand increases / जब कीमत बढ़ती है, तब मांग बढ़ती है

B) When price falls, demand is constant / जब कीमत गिरती हैए तब मांग स्थिर होती है

C) When price is constant, demand falls / जब कीमत स्थिर होती है, तब मांग गिरती है

D) When price increases, demand decreases / जब कीमत बढ़ती है, तब मांग कम होती है

120) In which state of India is the Barnawapara wild life sanctuary located? / भारत के किस राज्य में बर्नवापारा वन्य जीव अभयारण्य स्थित है?

A) Jharkhand / झारखंड

B) Assam / असम

C) Chhattisgarh / छत्तीसगढ़

D) Arunachal Pradesh / अरुणाचल प्रदेश

Section 3 - PART C

No. of Questions: 60

121) Identify the antonym of the underlined word:

The man divided his land into equal parts, so that there wouldn't be any quarrel among the brothers.

A) numerous

B) disproportionate

C) uniform

D) impartial

---

122) Fill in the blanks with the correct option:

Radhakrishnan was named as one of _____ top intellectuals of the country.

A) the

B) a

C) No article required.

D) an

---

123) Change the sentence into a simple sentence:

He is not only generous, but also wise.

A) He is generous, and he is wise.

B) Besides being generous, he is wise.

C) He is known for his generosity, and also for his wisdom.

D) He is a generous person, and he is also wise.

---

124) Choose the correct option to complete the sentence:

All telephone reservations must be confirmed _____ writing.

A) to

B) by

C) on

D) in

125) Identify the correct synonym of the underlined word:
The rain brought a balmy breeze.

A) Wild
B) Harsh
C) Mild
D) Rough

126) Fill in the blanks with correct option:
His _____ this problem helped me.

A) advice on
B) advice in
C) advice up
D) advice for

127) Identify the correct synonym of the underlined word:
The products have a distinctive appearance.

A) Normal
B) Unique
C) Usual
D) Functional

128) Identify the meaning of the underlined phrase/idiom:
When he became rich, he threw over all his old friends.

A) entertained
B) deserted
C) missed
D) invited

129) Read the sentence carefully and select the underlined part that is incorrect:

We will leave for the airport in half an hour. You can meet us at the Arrival Lounge; we are waiting for you there.

A) half an hour

B) will leave

C) can meet

D) we are waiting

---

130) Complete the sentence using a relative pronoun:

This is the man _____sold me the house.

A) what

B) which

C) whom

D) who

---

131) Give the correct form of the verb in brackets:

When I saw him this morning, he (read) the newspaper.

A) was reading

B) reads

C) reading

D) is reading

---

132) Choose the correct option to complete the sentence:

I think we can manage _____ happily on our own.

A) quite

B) hardly

C) quietly

D) scarcely

133) Chose the word that is spelt correctly and fill the blanks:

The small child had a look of ____ on his face after receiving the chocolate.

A) ecstacy

B) estacy

C) esctacy

D) ecstasy

134) Chose the word that is spelt correctly and fill the blanks:

The Mariana Trench is the deepest place in the Pacific_____

A) osaen

B) ocean

C) oceon

D) oation

135) Read the sentence carefully and select the underlined part that is incorrect:

The best students in my class always considers producing high quality work , regardless of whether it affects their grades.

A) regardless

B) their

C) whether

D) considers

136) Identify the compound sentence among the following:

A) It is true that the money was stolen.

B) I kept the keys on the table.

C) We went to their house, but they were not at home.

D) They were having dinner when we arrived.

137) Identify the correct synonym:

Parched

A) Dry

B) Dangerous

C) Continuous

D) Enjoyable

138) Fill in the blanks with the corect option:

Their children _____ by the rules of the family.

A) abiden

B) abiding

C) abided

D) abode

---

139) Fill in the blanks with the correct option:

When you are of my age, you _____ how to cope with life's problems.

A) will have learnt

B) may learn

C) would learn

D) will learn

---

140) Identify the antonym of the underlined word:

Could you lend some money to pay the bill?

A) borrow

B) send

C) donate

D) give

---

141) Fill in the blanks with the correct option:

Cure me _____ my blindness.

A) with

B) by

C) of

D) in

142) Fill in the blanks with correct option:

_____ the river lies the village of Shantipur.

A) Beyond

B) Before

C) On

D) After

143) Fill in the blanks with the correct option:

Smoking is a habit _____ many people.

A) off

B) for

C) of

D) to

144) Identify the meaning of the underlined phrase/idiom:

Mr. Mehra is a downer; he never does anything but complain.

A) courageous person

B) depressed person

C) serious person

D) stressful person

145) choose the correct meaning of the phrase /idiom underlined in the sentence:

He worked out the problem in a few minutes.

A) solved

B) practised

C) made

D) prepared

146) Fill in the blanks with correct option:

I came _____ from the door as it was locked.

A) at

B) to

C) near

D) away

147) Fill in the blanks with the correct option:

Kiran is _____ a novel.

A) written

B) wrote

C) writing

D) writes

148) Identify the antonym of the underlined word:

Cultural diversity is a unique feature of India.

A) conformity

B) uniformity

C) similarity

D) assiduity

149) Fill in the blanks with correct option:

Raghu's father is _____ the army but he has joined the air force.

A) to

B) for

C) on

D) in

150) Choose the correct option to complete the sentence:

Searching for one man in this city is like looking for a _____ in a haystack.

A) hair

B) needle

C) thread

D) stick

151) Identify the error in the following sentence. The error, if any, will be in one part of the sentence, the number of that part is your answer. If there is no error, mark your answer as (D).

(A) My mother/ (B) hates / (C) cooking. / (D) No Error.

A) B

B) C

C) A

D) D

152) Choose the correct form of the verb in brackets:

I (hope) I would pass the exam.

A) hoping

B) would hope

C) should hope

D) had hoped

153) Fill in the blanks with the correct option:

Narayan Murthy _____ the company Infosys.

A) found

B) founding

C) founds

D) founded

154) Fill in the blanks with the corect option:

Indian women always _____ the brunt of social customs.

A) boren

B) bear

C) bore

D) bears

---

155) Identify the antonym of the underlined word:

I saw the villagers mourn the death of their headman.

A) grieve

B) regret

C) prevent

D) rejoice

---

156) Choose the Noun in the given sentence:

Delegates expressed strong opposition to the plans.

A) expressed

B) strong

C) opposition

D) to

---

157) Fill in the blanks with the correct option:

This book is about ____ enchanting story of relations and ____ impact of such relations on ____ society.

A) a, the, an

B) an, the, a

C) an, the, no article required.

D) a, a, the

158) Complete the sentence with a relative pronoun:

The items _____are on display here are not for sale.

A) who

B) what

C) whose

D) that

159) Fill in the blanks with the correct option:

Southern India is one of _____ underdeveloped regions of the world.

A) a

B) No article required.

C) the

D) an

160) Fill in the blanks with the correct option:

The players who had come from England expected that they _____ the match.

A) will win

B) would win

C) shall win

D) may win

161) Change the given sentence into a simple sentence:

She cleaned the house and decorated it.

A) She cleaned the house, and then she decorated it.

B) After cleaning the house, she decorated it.

C) She cleaned and decorated the house.

D) The house was cleaned and decorated by her.

162) Read the sentence carefully and select the underlined part that is incorrect:
Research has indicated that eating fewer fats-trans fats in particular-may help to reduce the risk of diabetes in some people and decreasing the chance of heart attack by lowering blood pressure.

A) reduce

B) decreasing

C) by lowering

D) has indicated

---

163) Fill in the blanks with the correct option:
She remained _____ even in the worst situations.

A) compose

B) composed

C) composing

D) composes

---

164) Fill in the blanks with the correct option:
You need _____ eraser to rub out the mistake.

A) the

B) a

C) an

D) no Article

---

165) What type of noun is the underlined word:
The team played very well today.

A) collective

B) common

C) proper

D) abstract

166) Identify the meaning of the underlined phrase/idiom:

I am afraid you have caught a Tarter in him.

A) more formidable

B) more easy

C) more humble

D) more aggressive

167) Choose the correct form of the verb in brackets:

My friends (wait) for me after the show ended.

A) were waiting

B) will wait

C) shall wait

D) are waiting

168) Fill in the blanks with the correct option:

The king was pleased with ____ queen and ____ minister, so aptly awarded them.

A) the, the

B) the, a

C) a, an

D) an, a

169) Fill in the blanks with the correct form of verb:

The teacher _____ the children to feel confident about asking questions.

A) is wanting

B) wants

C) want

D) have wanted

170) Chose the word that is spelt correctly and fill the blanks:

The students painted a _____ on the wall to display their talents.

A) grafitti

B) graffiti

C) grafiti

D) grafitii

171) Identify the antonym of the underlined word:

If you read the book carefully,you will realise that the character of duchess was irreproachable.

A) flawed

B) blemished

C) defective

D) impeccable

172) Fill in the blanks with the correct verb:

Tastes and preferences _____ from individual to individual.

A) has varied

B) vary

C) is varying

D) varies

173) Identify the correct synonym:

Consumption

A) Description

B) Consideration

C) Cooperation

D) Utilisation

174) Fill in the blanks with the correct option:

There are fifty students in _____ class and we are very united.

A) our

B) her

C) their

D) his

175) Choose the correct option to complete the sentence:

He failed to complete the task because of his_____.

A) perseverance

B) eagerness

C) laziness

D) attentiveness

176) Identify the antonym of the underlined word:

Ancient history interests me more .

A) Primitive

B) Advanced

C) Modern

D) Aged

177) Identify the correct synonym:

Disquietude

A) Uneasiness

B) Ease

C) Solace

D) Calmness

178) Identify the correct synonym:

Hospitable

A) Unfriendly

B) Cordial

C) Reserved

D) Unreceptive

179) Chose the word that is spelt correctly and fill the blanks:

Nostre Damus's _____ predictions have stunned the world for their exactness and timings.

A) apocaliptic

B) apocilyptic

C) apocalyptic

D) apocalyptac

180) Identify the complex sentence:

A) Although the team lost they played with tremendous spirit.

B) They took away his freedom and broke his spirit.

C) You must try and keep your spirits up.

D) We approached the situation in the wrong spirit.

Section 1 - PART A

No. of Questions: 60

1) A dice is taken. Six different figures are drawn on its six faces such that the figures on any pair of opposite sides have same number of dimensions. No two adjacent faces have figures with same dimensions. No face has a figure of zero dimensions. Based on this information, answer the questions that follow.Which of these shapes could be there on the opposite faces? /
एक पासा लिया गया। इसके छह पृष्ठों पर छह अलग-अलग संख्याएं इस प्रकार अंकित हैं कि विपरीत भुजाओं के किसी भी युग्म पर अंकित चित्र में आयामों की संख्या समान हों। किन्हीं भी दो आसन्न पृष्ठों पर समान आयामों वाले चित्र नहीं हैं। किसी भी पृष्ठ पर शून्य आयाम वाला चित्र नहीं है। इस जानकारी के आधार पर नीचे दिए गए प्रश्नों के उत्तर दें। विपरीत पृष्ठों पर इनमें से कौन से आकार हो सकते हैं?

A) Point and Rectangle / बिंदु और आयत
B) Cube and Square / घन और वर्ग
C) Sphere and Circle / गोला और वृत्त
D) Square and Circle / वर्ग और वृत्त

---

2) If "FOCUS" is written as 15726, "MODAL" is 29340 and "BOSS" is written as 5852, then what is code for "BOS"? / यदि "FOCUS" को 15726 के रूप में लिखा जाता है, "MODAL" को 29340 के रूप में और "BOSS" को 5852 के रूप में लिखा जाता है, तो "BOS" का कूट क्या है?

A) 285
B) 648
C) 578
D) 524

---

3) In each of the option, a set is given. Select the set that is different from the others. / प्रत्येक विकल्प में एक सेट दिया गया है। उस सेट का चयन करें जो दूसरों से अलग है।

A) (U, J)
B) (Z, O)
C) (K, A)
D) (S, H)

---

4) In what way can the terms of given set be divided into two sets so that the terms in two sets have same LCM: (28, 35, 14, 20, 5, 4)? / किस तरीके से दिए गए समुच्चय के पदों को दो समुच्चयों में विभाजित किया जा सकता है ताकि दोनों समुच्चयों के पदों का ल.स. समान हो: (28, 35, 14, 20, 5, 4)?

A) (28, 5, 14) and (35, 4, 20) / (28, 5, 14) और (35, 4, 20)
B) (28, 4, 14) and (35, 5, 20) / (28, 4, 14) और (35, 5, 20)
C) (28, 4) and (14, 35, 5, 20) / (28, 4) और (14, 35, 5, 20)
D) (28, 35, 14) and (4, 5, 20) / (28, 35, 14) और (4, 5, 20)

5) A, B, C, D, E, F, G & H are the eight members of a family. A & D are the grandsons of B. H is the mother of F and wife of E. G is the grandfather of C. C & F are sisters. There are only 2 married couples in the family. How many male members are there in the family?
/
A, B, C, D, E, F, G और H एक परिवार के आठ सदस्य हैं। A और D, B के पोते हैं। H, F की माँ और E की पत्नी है। G, C का दादा है। C और F बहनें हैं। परिवार में केवल 2 विवाहित जोड़ें हैं। परिवार में कितने पुरुष सदस्य हैं?

A) 6
B) 5
C) 4
D) 3

---

6) A conical tent has the base radius of 4 cm and its height is 3 cm. The area of the fabric required to put up such a tent is nearly: / एक शंक्वाकार तम्बू की आधार(बेस) की त्रिज्या 4 सेंटिमीटर है और उसकी ऊंचाई 3 सेंटिमीटर है। इस तरह की एक तम्बू डालने के लिए आवश्यक कपड़े का क्षेत्रफल है लगभग:

A) 84 sq m / 84 वर्ग मीटर
B) 76 sq m / 76 वर्ग मीटर
C) 52 sq m / 52 वर्ग मीटर
D) 63 sq m / 63 वर्ग मीटर

---

7) There are three words given here. The first two words are related in a certain manner. Select the proper word among the given four alternatives which bears the same relationship with the third word as in the manner first and second words are related.

Affront : Appease :: Stroll : _____
/
यहाँ तीन शब्द दिए गए हैं। पहले दो शब्द एक निश्चित तरीके से संबंधित हैं। दिए गए चार विकल्पों में से उस उचित शब्द का चयन करें जो तीसरे शब्द के साथ उसी प्रकार से संबंधित हो जिस तरीके से पहला और दूसरा शब्द संबंधित हैं।

अपमान : मनाना :: मंथर चाल : _____

A) Expedite / शीघ्र
B) Stray / भटका
C) Rove / फिरना
D) Ramble / घूमना

8) A figure is given on the left with a pattern. Observe and find which of the three images on the right looks similar to the top half of this pattern? / बाईं ओर एक पैटर्न के साथ एक चित्र दी गई है। ध्यानपूर्वक देखिए और बताइए कि दाईं ओर की तीन चित्रों में से कौन इस पैटर्न के शीर्ष अर्ध हिस्से के समान दिखाई पड़ती है?

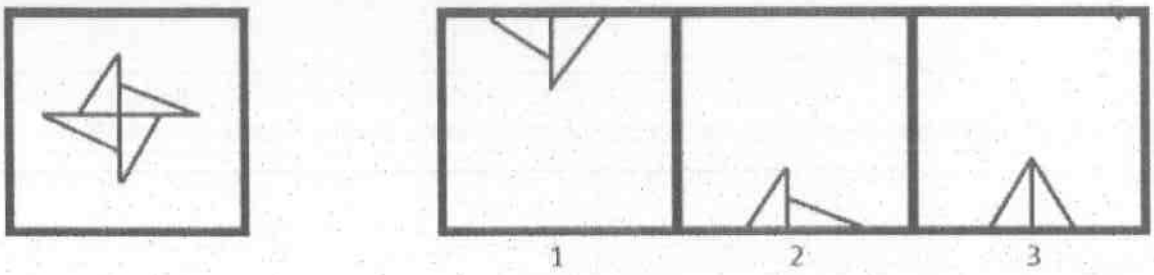

A) Both 1 and 2 / 1 और 2 दोनों
B) 3
C) 2
D) 1

Following are the conditions for selecting a Cartoon Animator. The candidate must: (i) have completed an Animation course. (ii) be a graduate in any discipline with 65% marks. (iii) have a post qualification work experience of atleast 2 years in any multimedia company. (iv) be less than 30 years of age. In the case of a candidate who satisfies all the conditions: (A) If NOT (ii) above, but has scored more than 70% in Class X, the case may be referred to the General Manager. (B) If NOT (iii) above, but has a post-graduation degree, the case may be referred to Chief Executive Officer (CEO). (C) If NOT (iv) above, but has a work experience of atleast 4 years in any multimedia company, the case may be referred to the Managing Director. Based on the above information and criteria given in each of the following questions, you have to take decision.	एक कार्टून एनिमेटर के चयन के लिए शर्तें निम्नलिखित हैं। उम्मीदवार को: (i) एनीमेशन कोर्स पूरा किया होना चाहिए। (ii) 65% अंकों के साथ किसी भी विषय में ग्रेजुएट होना चाहिए। (iii) क्वालिफिकेशन के बाद किसी भी मल्टिमीडिया कंपनी में कम से कम 2 साल का कार्यानुभव होना चाहिए। (iv) 30 साल से कम उम्र का होना चाहिए। अगर एक उम्मीदवार सभी शर्तों को पूरा करता है: (A) सिवाय उपरोक्त (ii) के, लेकिन दसवीं कक्षा में 70% से अधिक प्राप्त किया है तो, मामला महाप्रबन्धक को भेजा जाए। (B) सिवाय उपरोक्त (iii) के, लेकिन एक पोस्ट-ग्रेजुएशन डिग्री है तो, मामला मुख्य कार्यपालन अधिकारी (CEO) को भेजा जाए। (C) सिवाय उपरोक्त (iv) के, लेकिन किसी भी मल्टिमीडिया कंपनी में कम से कम 4 साल का कार्यानुभव है तो, मामला प्रबंध संचालक को भेजा जाए। उपरोक्त जानकारी और नीचे दिए गए प्रत्येक प्रश्न में दिए गए मापदंडों के आधार पर आपको निर्णय लेना होगा।

9) These cases are given to you as on 10th November, 2016.

Candidate's Information : Mary Edison, has secured 56% marks in graduation and 65% marks in MBA course. She has completed a certificate course in Control systems. She was born on 4th of May, 1984. She has a post-qualification work experience of 6 years in Polymer Industry. She should be: /

ये सभी मामले आपको नवंबर 10, 2016 की तारीख को दिए गए हैं।

उम्मीदवार की जानकारी: मैरी एडीसन ने ग्रेजुएशन में 56% अंक और MBA कोर्स में 65% अंक हासिल किए हैं। उसने नियंत्रण प्रणाली में सर्टिफिकेट कोर्स पूरा किया है। वह मई 4, 1984 को पैदा हुई थी। उसे क्वालिफिकेशन के बाद पॉलिमर उद्योग में 6 साल का कार्यानुभव है। उसे

A) referred to the Managing Director / प्रबंध संचालक के पास भेजा जाना चाहिए

B) Selected / चयन करना चाहिए

C) referred to the CEO / CEO के पास भेजा जाना चाहिए

D) Rejected / चयन नहीं करना चाहिए

---

10) Three of the four following expressions belong to the same group or class in a certain manner. Find the odd one out. / निम्नलिखित चार एक्स्प्रेशन में से तीन एक निश्चित तरीके से एक ही समूह या वर्ग से संबंधित हैं। विषम का ज्ञात करें।

A) 1254 : 1245
B) 7675 : 7657
C) 9003 : 9030
D) 4050 : 0504

---

11) There are three words given here. The first two words are related in a certain manner. Select the proper word among the given four alternatives which bears the same relationship with the third word as in the manner first and second words are related.

Sambhar Lake : Salty water :: Wular lake : _____
/
यहाँ तीन शब्द दिए गए हैं। पहले दो शब्द एक निश्चित तरीके से संबंधित हैं। दिए गए चार विकल्पों में से उस उचित शब्द का चयन करें जो तीसरे शब्द के साथ उसी प्रकार से संबंधित हो जिस तरीके से पहला और दूसरा शब्द संबंधित हैं।

सांभर झील : नमकीन पानी :: वूलर झील : _____

A) Blackish / काला

B) Brackish / खारा

C) Freshwater / मीठा पानी

D) Lagoon / लगून

---

12) What will be the 9th term of this series: 4, 8, 16, 32, ...? / इस श्रृंखला की 9वीं संख्या क्या होगी: 4, 8, 16, 32, ...?

A) 788
B) 512
C) 1024
D) 256

13) A boy can row at 10 kmph in still water. If the velocity of the stream is 2 kmph and it takes 2 hour to row to a place and return, then in one-way journey he covers
/
एक लड़का ठहरे हुए पानी में 10 किमी प्रति घंटा की गति से नाव चला सकता है। यदि धारा की गति 2 किमी प्रति घंटा है और यदि उसे किसी स्थान तक जाने और वापस आने में 2 घंटे लगते हैं तो एक ओर की यात्रा में वह कितनी दूरी तय करता है?

A) 9.6 km / 9.6 किमी

B) 12. 4 km / 12. 4 किमी

C) 6.6 km / 6.6 किमी

D) 4.8 km / 4.8 किमी

14) Given below is a paper sheet. It is cut into pieces along the dotted lines. Which of these can be the geometric shape of any of the pieces? / नीचे एक कागज का शीट दिया गया है। इसे खंडित रेखा पर से टुकड़ों में काटा जाता है। कोई भी टुकड़ा इनमें से किस ज्यामितीय आकार का हो सकता है?

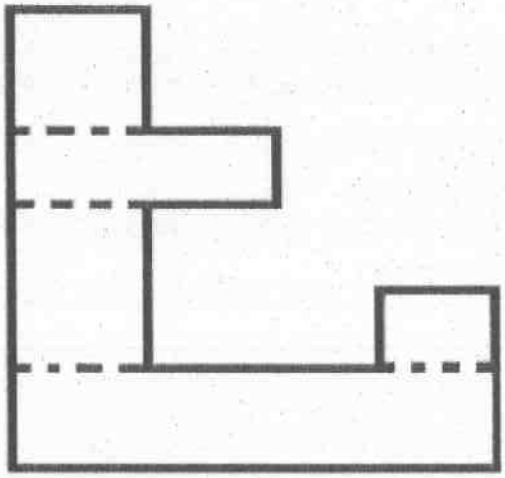

A) Square / वर्ग

B) Triangle / त्रिभुज

C) Rectangle / आयत

D) Circle / वृत्त

Following are the conditions for selecting a Cartoon Animator. The candidate must: (i) have completed an Animation course. (ii) be a graduate in any discipline with 65% marks. (iii) have a post qualification work experience of atleast 2 years in any multimedia company. (iv) be less than 30 years of age.	एक कार्टून एनिमेटर के चयन के लिए शर्तें निम्नलिखित हैं। उम्मीदवार को: (i) एनीमेशन कोर्स पूरा किया होना चाहिए। (ii) 65% अंकों के साथ किसी भी विषय में ग्रेजुएट होना चाहिए। (iii) क्वालिफिकेशन के बाद किसी भी मल्टिमीडिया कंपनी में कम से कम 2 साल का कार्यानुभव होना चाहिए। (iv) 30 साल से कम उम्र का होना चाहिए। अगर एक उम्मीदवार सभी शर्तों को पूरा करता है:

In the case of a candidate who satisfies all the conditions: (A) If NOT (ii) above, but has scored more than 70% in Class X, the case may be referred to the General Manager. (B) If NOT (iii) above, but has a post-graduation degree, the case may be referred to Chief Executive Officer (CEO). (C) If NOT (iv) above, but has a work experience of atleast 4 years in any multimedia company, the case may be referred to the Managing Director. Based on the above information and criteria given in each of the following questions, you have to take decision.	(A) सिवाय उपरोक्त (ii) के, लेकिन दसवीं कक्षा में 70% से अधिक प्राप्त किया है तो, मामला महाप्रबन्धक को भेजा जाए। (B) सिवाय उपरोक्त (iii) के, लेकिन एक पोस्ट-ग्रेजुएशन डिग्री है तो, मामला मुख्य कार्यपालन अधिकारी (CEO) को भेजा जाए। (C) सिवाय उपरोक्त (iv) के, लेकिन किसी भी मल्टिमीडिया कंपनी में कम से कम 4 साल का कार्यानुभव है तो, मामला प्रबंध संचालक को भेजा जाए। उपरोक्त जानकारी और नीचे दिए गए प्रत्येक प्रश्न में दिए गए मापदंडों के आधार पर आपको निर्णय लेना होगा।

15) These cases are given to you as on 10th November, 2016.
Candidate's Information : Rama Mathur, has secured 67% marks in graduation and 60% marks in post-graduation. She has completed a certificate course in animation technology. She does not have any work experience. She was born on 10th of March, 1990. She should be:

ये सभी मामले आपको नवंबर 10, 2016 की तारीख को दिए गए हैं।
उम्मीदवार की जानकारी: रमा माथुर ने ग्रेजुएशन में 67% अंक और पोस्ट-ग्रेजुएशन में 60% अंक हासिल किए हैं। उसने एनीमेशन प्रौद्योगिकी के क्षेत्र में सर्टिफिकेट कोर्स पूरा किया है। वह मार्च 10, 1990 को पैदा हुई थी। उसे कोई कार्यानुभव नहीं है। उसे

A) referred to the General Manager / महाप्रबन्धक के पास भेजा जाना चाहिए
B) Selected / चयन करना चाहिए
C) Rejected / चयन नहीं करना चाहिए
D) referred to the CEO / CEO के पास भेजा जाना चाहिए

16) Select the option that is odd one out among the given four options. / वह विकल्प चुनिए जो दिए हुए चार विकल्पों में भिन्न हो।

A) Jaundice / जॉन्डिस
B) Typhoid / टायफॉयड
C) Sneezing / छींकना
D) Tuberculosis / ट्युबरकुलॉसिस

17) There are three words given here. The first two words are related in a certain manner. Select the proper word among the given four alternatives which bears the same relationship with the third word as in the manner first and second words are related.

Speedometer : Speed :: Barometer : _____
/
यहाँ तीन शब्द दिए गए हैं। पहले दो शब्द एक निश्चित तरीके से संबंधित हैं। दिए गए चार विकल्पों में से उस उचित शब्द का चयन करें जो तीसरे शब्द के साथ उसी प्रकार से संबंधित हो जिस तरीके से पहला और दूसरा शब्द संबंधित हैं।

स्पीडोमीटर : गति :: बैरोमीटर : _____

A) Pressure / दबाव

B) Temperature / तापमान

C) Velocity / वेग

D) Precipitation / अवक्षेपण

---

18) There are six friends with different professions viz Doctor, Architect, Engineer, Sailor, Teacher and Pilot. The sailor weighs 69 kg. The doctor weighs 7 kg less than the pilot. The pilot weighs 14 kgs more than the engineer. The engineer weighed 76 kg 2 years ago and he is gaining weight at the rate of 3 kg per year.The arcitect is 8 kg heavier than the pilot. Teacher weighs 21 kg less than the doctor. If all the friends stand in a straight line (left to right) facing the North in ascending order of their weights, then the position of the pilot from right will be:
/
विभिन्न पेशे वाले छह दोस्त हैं नामशः डॉक्टर, वास्तुकार, इंजीनियर, नाविक, शिक्षक और पायलट। नाविक का वज़न 69 किलोग्राम है। डॉक्टर का वज़न पायलट की तुलना में 7 किलोग्राम कम है। पायलट का वज़न इंजीनियर की तुलना में 14 किलोग्राम अधिक है। इंजीनियर का वज़न 2 वर्ष पहले 76 किलोग्राम था और उसका प्रति वर्ष 3 किलोग्राम की दर से वज़न बढ़ता जा रहा है। वास्तुकार, पायलट से 8 किलोग्राम भारी है। शिक्षक का वज़न डॉक्टर की तुलना में 21 किलोग्राम कम है। यदि सभी दोस्त अपने वज़न के आरोही क्रम में उत्तर की ओर मुंह करके एक सीधी कतार (बाएं से दाएं) में खड़े हैं तो, दाएं से पायलट का पोज़िशन क्या होगा?

A) 5th / पाँचवाँ

B) 2nd / दूसरा

C) 3rd / तीसरा

D) 4th / चौथा

---

19) Three out of the given four items are similar. Find the odd one. / दिए गए चार आयटमों में से तीन एक जैसे हैं। भिन्न आयटम की पहचान करें

A) A
B) Z
C) O
D) U

20) A set is given, (B2, A1, F6, H8), such that its elements shares a common property. Which of the given options will not have this property? / एक सेट दिया गया है, (B 2, A1, F6, H8), जिसमें कि उसके तत्व एक सामान्य गुणस्वभाव को साझा करते हैं। दिए गए विकल्पों में से किसमें यह गुणस्वभाव नहीं है?

A) M13
B) J10
C) X24
D) P15

21) What replaces the question mark (?) in the following number series? / निम्नलिखित संख्या श्रृंखला में प्रश्न चिह्न (?) का स्थान कौन लेगा?
785, 701, 619, ?, 461

A) 537
B) 535
C) 541
D) 539

22) In the given sequence which follow a certain relation, one of the terms is different from others. Select that term.
(56, 68, 81, 95, 109, 126) / एक निश्चित संबंध का अनुसरण करने वाले क्रम में, एक संख्या अन्य से भिन्न है। उस संख्या का चयन करें।
(56, 68, 81, 95, 109, 126)

A) 109
B) 81
C) 126
D) 95

23) In the given sequence, one of the term is not in a proper manner. Select that term.
(1, 13, 135, 1357, 13578, 135791, 1357913)/
दिए गए क्रम में एक अंक सही क्रम में नहीं है। उस अंक को चुनिए। (1, 13, 135, 1357, 13578, 135791, 1357913)

A) 13578
B) 13
C) 1357
D) 135

24) A,B,C,D,E and F are the six members of the family. There are two married couples in the family. Each of them like different ice-cream flavours viz Vanilla, Mango, Butterscotch, Strawberry, Blackcurrant and Chocolate. A's wife likes Vanilla. E's daughter-in-law likes Mango. F's daughter likes Strawberry and his son likes Chocolate. If the youngest boy in the family is B, then the youngest girl doesn't seem to be D. The eldest person in the family likes Butterscotch, then Blackcurrant is liked by /
A, B, C, D, E और F एक परिवार के छः सदस्य हैं। परिवार में दो विवाहित जोड़े हैं। उनमें से हर एक को अलग अलग आइसक्रीम के स्वाद पसंद हैं नामशः वैनिला, मैंगो, बटरस्कॉच, स्ट्रॉबेरी, ब्लैक करन्ट और चॉकलेट। A की पत्नी को वैनिला पसंद है। E की बहू को मैंगो पसंद है। F की बेटी को स्ट्रॉबेरी पसंद है और बेटे को चॉकलेट पसंद है। अगर परिवार में सबसे कम उम्र का लड़का B है तो, सबसे कम उम्र की लड़की D नहीं हो सकती है। परिवार में उम्र में सबसे बड़े व्यक्ति को बटरस्कॉच पसंद है, तो ब्लैक करन्ट किसे पसंद है?

A) A
B) D
C) F
D) B

25) Mr. Jojo invested a sum of money at an annual simple interest of 5%. At the end of eight years the amount invested plus the interest earned was Rs. 1400. The amount he invested was / श्री जोजो ने 5% वार्षिक ब्याज की साधारण दर पर कुछ राशि निवेश की। आठ वर्ष के अंत में निवेश की गई राशि और अर्जित ब्याज रू 1400 थे। निवेश की गई राशि कितनी थी?

A) Rs. 1200 / रू 1200

B) Rs. 900 / रू 900

C) Rs. 850 / रू 850

D) Rs. 1000 / रू 1000

26) An image is made from some geometric figures. In the image, some regions are formed. In each of these regions, as many dots are to be placed as the number of geometric figures that has this as a part of it.. One of these regions is marked with number 1. How many dots will be placed in region 1?
/
एक चित्र को कई ज्यामितीय आकृतियों से बनाया गया है। चित्र में, कुछ क्षेत्रों को बनाया गया है। इस प्रत्येक क्षेत्र में, उतने ही बिंदु स्थापित करने हैं, जितनी ज्यामितीय आकृतियों की संख्या, जो इसका हिस्सा है। इनमें से एक क्षेत्र को संख्या 1 से चिह्नित किया गया है। क्षेत्र 1 में कितने बिंदु स्थापित करने होंगे?

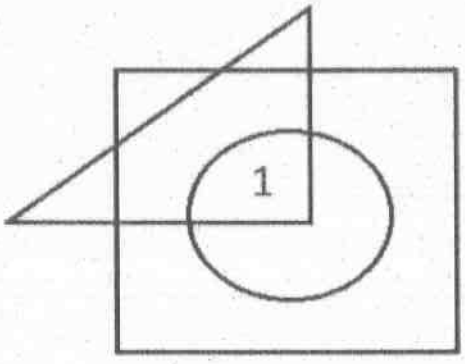

A) 4
B) 2
C) 3
D) 1

For admission in ABC College for Post graduation, the following conditions apply. (i) Be a graduate with 80% marks. (ii) Should score more than 85% marks in the Common Entrance Test. (iii) Should be less than 28 years of age at the time of Common Entrance Test. (iv) Should have scored 80% in the interview. In the case of a candidate who satisfies all the conditions:	ABC कॉलेज में पोस्ट ग्रेजुएशन के दाख़िले के लिए, निम्न शर्तें लागू होती हैं। (i) 80% अंकों के साथ ग्रेजुएट होना चाहिए। (ii) सामान्य प्रवेश परीक्षा में 85% से अधिक अंक प्राप्त करना चाहिए। (iii) सामान्य प्रवेश परीक्षा के समय आयु 28 वर्ष से कम होनी चाहिए। (iv) इंटरव्यू में 80% प्राप्त किया होना चाहिए। अगर एक उम्मीदवार सभी शर्तों को पूरा करता है:

(a) EXCEPT (i), but has done diploma in Computer Science and scored more than 75% marks in graduation, then be considered for admission in round 2.	(a) सिवाय (i) के, लेकिन कंप्यूटर विज्ञान में डिप्लोमा किया है और ग्रेजुएशन में 75% से अधिक अंक प्राप्त किया है तो, राउन्ड 2 में दाख़िले के लिए विचार किया जाना है।
(b) EXCEPT (ii), but has done diploma in Computer Science and scored more than 60% in Common Entrance Test, then be considered for admission in round 3.	(b) सिवाय (ii) के, लेकिन कंप्यूटर विज्ञान में डिप्लोमा किया है और सामान्य प्रवेश परीक्षा में 60% से अधिक अंक प्राप्त किया है तो, राउन्ड 3 में दाख़िले के लिए विचार किया जाना है।
In each of the questions below, information of a candidate is given. You have to take one of the following four decisions based on the information provided and the conditions given above. All the cases are given to you as on 10-06-2016. You have to indicate your decision by marking answers to each question.	नीचे दिए गए प्रत्येक प्रश्न में एक उम्मीदवार की जानकारी दी गई है। आपको उपलब्ध कराई गई जानकारी व उपरोक्त शर्तों के आधार पर निम्नांकित चार फैसलों में से एक लेना होगा। आपको सभी मामले 10-06-2016 की तारीख को दिए गए हैं। प्रत्येक प्रश्न के उत्तर अंकन द्वारा आपको अपना निर्णय सूचित करना होगा।

27) Kirti was born on 2nd of October, 1992. She has scored 78% in diploma in Computer Science and 96% in Common Entrance Test. She has scored 76% in the interview and 84% marks in graduation. She should
/
कीर्ति अक्तूबर 2, 1992 को पैदा हुई थी। उसने कंप्यूटर विज्ञान में डिप्लोमा में 78% प्राप्त किया है और सामान्य प्रवेश परीक्षा में 96% प्राप्त किया है। उसने इंटरव्यू में 76% प्राप्त किया है और ग्रेजुएशन में 84% अंक प्राप्त किए हैं। उसे

A) be considered for admission in round 2 / राउन्ड 2 में दाख़िले के लिए विचार किया जाना चाहिए
B) not be admitted / दाख़िला नहीं देना चाहिए
C) be admitted / दाख़िला देना चाहिए
D) be considered for admission in round 3 / राउन्ड 3 में दाख़िले के लिए विचार किया जाना चाहिए

28) Three out of the given four items are similar. Find the odd one. / दिए गए चार आयटमों में से तीन एक जैसे हैं। भिन्न आयटम की पहचान करें

A) M
B) G
C) C
D) J

29) Below are given three different views of a dice on which numbers from 1 to 6 are written on its faces. Which number will be opposite to 2? / नीचे एक पासे (डाइस) के तीन अलग अलग दृश्य (व्यू) दिए गए हैं जिसके हर तरफ 1 से 6 तक संख्या लिखी गई है। 2 संख्या वाले पक्ष के विपरीत पक्ष पर कौन सी संख्या होनी चाहिए?

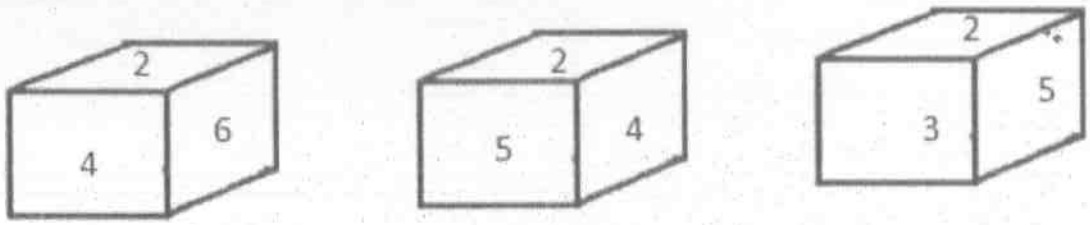

A) 1
B) 6
C) 3
D) 4

30) A cube of side length 6 cm is taken. It is then coloured with Purple colour on all its faces. Then, one eighth of this cube is cut down from a corner by making cuts at mid points of AB, BC and BF. Based on this information, answer the questions that follow.

In the resulting piece after cutting down the small cube, how many corners would be there?
/
6 सेंटिमीटर भुजा लंबाई वाला एक घन लिया जाता है। फिर उसके सभी फलक को बैंगनी रंग से रंगा जाता है। फिर इस घन के एक आठवें भाग को AB, BC और BF के मध्य बिंदुओं पर काट कर एक कोने से काटा जाता है। इस जानकारी के आधार पर नीचे दिए प्रश्नों के उत्तर दें।

छोटे घन को काटने के बाद परिणामी टुकड़े में कितने कोने होंगे?

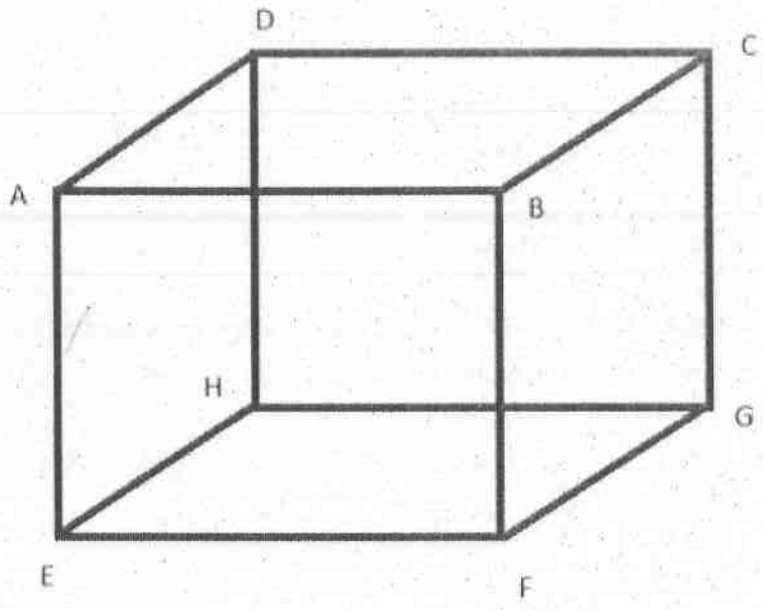

A) 9
B) 7
C) 13
D) 14

31) "hell this young" means "ke la pa"
"wise young sharp hell" means "na pa kup ke"
"being clever young this" means "se to pa la"
"clever sharp young tomorrow" means "to kup pa jo"

What does "hell tomorrow" stand for?
/
"hell this young" का अर्थ है "ke la pa"
"wise young sharp hell" का अर्थ है "na pa kup ke"
"being clever young this" का अर्थ है "se to pa la"
"clever sharp young tomorrow" का अर्थ है "to kup pa jo"

"hell tomorrow" का अर्थ क्या है?

A) in ke
B) ke jo
C) jo in
D) la jo

---

32) A reduction in 30% price of the edible oil enables Mrs. Salunkhe to buy 12 kg more for Rs. 1500. The reduced price per kg is / खाद्य तेल की कीमत में 30% की कमी से श्रीमती सालुंखे रू 1500 में 12 किग्रा अधिक खरीद पाती हैं। प्रति किग्रा घटी हुई कीमत क्या है?

A) Rs. 53.57 / रू 53.57
B) Rs. 30.50 / रू 30.50
C) Rs. 37.5 / रू 37.5
D) Rs. 43.2 / रू 43.2

---

33) Some girls are sitting in a row. Rita is 15th from the left and Rani is 9th from the right. If there are 4 girls between them, and in that row Rita's place is left to the place of Rani, then what is the total number of girls in the row?
/
कुछ लड़कियां एक पंक्ति में बैठी हैं। रीता बाएं से 15वें स्थान पर है और रानी 9वें स्थान पर है। यदि उनके बीच 4 लड़कियां हैं और उस पंक्ति में रीता का स्थान रानी के स्थान से बाईं ओर है, तो पंक्ति में लड़कियों की कुल संख्या कितनी है?

A) 28
B) 24
C) 27
D) 26

Following are the eligibility criteria for applying for the Green Health Card for free treatment in India. The applicant should:	भारत में मुफ्त इलाज के लिए हरे स्वास्थ्य कार्ड के लिए आवेदन करने के लिए पात्रता मानदंड निम्नलिखित हैं। आवेदक को
(i) be a citizen of India only.	(i) केवल भारत का नागरिक होना चाहिए।
(ii) have a BPL (Below poverty line) ration card.	(ii) BPL (गरीबी की सीमा रेखा के नीचे) राशन कार्ड धारक होना चाहिए।
(iii) have a savings bank account in India on his/her name.	(iii) अपने नाम पर भारत में एक बचत बैंक खाता होना चाहिए।
In the case of an applicant who satisfies all the criteria:	अगर एक आवेदक सभी मानदंडों को पूरा करता है:
(A) If NOT (iii) above, but has a joint account with any other family member, the case may get the Yellow health card that enables 50% discount on the bill.	(A) सिवाय उपरोक्त (iii) के, लेकिन किसी भी अन्य परिवार के सदस्य के साथ एक संयुक्त खाता है तो, इस मामले में उसे पीला स्वास्थ्य कार्ड मिल सकता है जो बिल पर 50% छूट सक्षम बनाता है।
(B) If NOT (ii) above, but has an APL (Above Poverty Line) ration card, the applicant may get the Violet health card that enables only 30% discount on the bill.	(B) सिवाय उपरोक्त (ii) के, लेकिन APL (गरीबी की सीमा रेखा के ऊपर) राशन कार्ड है तो, आवेदक को बैंगनी स्वास्थ्य कार्ड मिल सकता है जो बिल पर केवल 30% छूट सक्षम बनाता है।
Based on the above information and criteria given in each of the following questions, you have to take decision.	उपरोक्त जानकारी और नीचे दिए गए प्रत्येक प्रश्न में दिए गए मानदंडों के आधार पर आपको निर्णय लेना होगा।

34) Applicant's Information: Kishor Pandey is an Indian farmer, has a joint savings bank account with his son Manohar. He has a BPL card. He will get : / आवेदक की जानकारी: किशोर पांडे एक भारतीय किसान है, जिसे अपने बेटे मनोहर के साथ एक संयुक्त बचत बैंक खाता है। उसके पास BPL कार्ड है। उसे:

A) Yellow Health Card / पीला स्वास्थ्य कार्ड मिलेगा

B) Green Health Card / हरा स्वास्थ्य कार्ड मिलेगा

C) rejected / अस्वीकृत किया जाएगा

D) Violet Health Card / बैंगनी स्वास्थ्य कार्ड मिलेगा

35) In a Bike race, six boys completed the race at different positions. Somesh finished the race after 5 persons finished the race. Rohan finished the race only after Jay but before Sangram. Ramesh finished the race after Nilesh and before Sangram. Who finished the race in the first position?

/

एक बाइक रेस में छः लड़कों ने अलग-अलग स्थानों पर रेस पूरा किया। सोमेश ने अपना रेस 5 व्यक्तियों के रेस पूरा करने के बाद पूरा किया। रोहन ने अपना रेस केवल जय के बाद लेकिन संग्राम से पहले पूरा किया। रमेश ने अपना रेस निलेश के रेस के बाद लेकिन संग्राम से पहले पूरा किया। किसने पहले स्थान पर रेस पूरा किया?

A) Rohan / रोहन

B) Nilesh / निलेश

C) Ramesh / रमेश

D) Jay / जय

---

36) In a certain code, AMTKPLOR is coded as KTMAROLP. What will be the code of the word FOLLOW? / एक निश्चित कूट में AMTKPLOR को KTMAROLP के रूप में कूट बद्ध किया जाता है। शब्द FOLLOW का कूट क्या होगा?

A) LOFWLO

B) LFOFWOL

C) LOWFOL

D) LOFWOL

---

37) Which of the given option will NOT share the same property as the elements of the given set : (A, BB, CCC, EEEEE)? / प्रदत्त विकल्पों में से कौन सा एक दिए गए सेट: (A, BB, CCC, EEEEE) के तत्वों जैसी प्रकृति को साझा नहीं करेगा?

A) HHHHHHHH

B) FFFFF

C) GGGGGGG

D) DDDD

38) Among the given group of 4 images, which set of images can be classified as a group? / दिए गए 4 चित्रों में से, चित्रों के किस समुच्चय को एक समूह में वर्गीकृत किया जा सकता है?

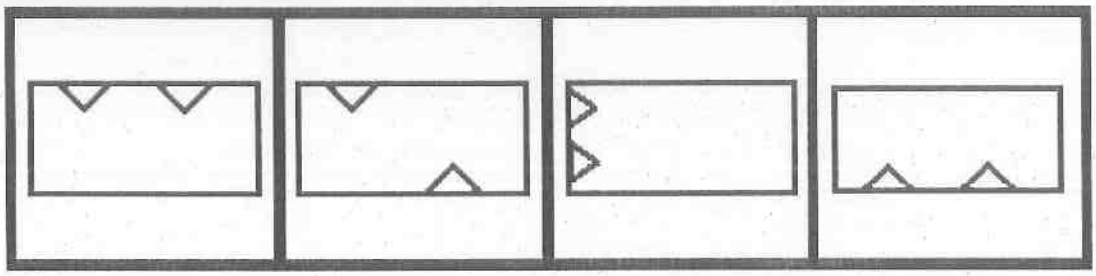

A) (1, 2, 4)

B) (1, 2, 3)

C) (2, 3, 4)

D) (1, 3, 4)

39) In a certain code, "BANGLE" is written as "!@#$%&" and "MONTH" is written as "*2#^4". How "ONGOLE" is written in that code? /

एक निश्चित कूट में "BANGLE" **को** "!@#$%&" **के रूप में** लिखा **जाता है** और "MONTH" को "*2#^4" **के रूप में** लिखा **जाता है।** उस कूट **में** "ONGOLE" **को कैसे** लिखा **जाएगा?**

A) 2#$2%*

B) 2#$2&%

C) 2#$2%&

D) 2#$2%$

40) Below is given a figure, formed by three straight lines each of length 4 cm. If this figure is to be made through dots such that distance between two consecutive dots is 1 cm, then how many dots will be required to do so? / नीचे एक आकृति दी गई है, जो प्रत्येक 4 सेंमी लंबी तीन सीधी रेखाओं से बनी हुई है। यदि इस आकृति को बिंदुओं से ऐसे बनाना है कि दो क्रमागत बिंदुओं के बीच की दूरी 1 सेंमी हो, तो ऐसा करने के लिए कितने बिंदुओं की आवश्यकता होगी?

A) 12

B) 13

C) 14

D) 11

Following are the conditions for selection of an accounts officer in an organization.	संगठन में खाता अधिकारी के चयन के लिए निम्न शर्तें हैं।
The candidate must :	उम्मीदवार
(i) be a graduate in Commerce with atleast 65% marks.	(i) कम से कम 65% अंकों के साथ वाणिज्य में स्नातक होना चाहिए।
(ii) have knowledge of Computers.	(ii) कंप्यूटर का ज्ञान होना चाहिए।
(iii) be less than 30 years of age.	(iii) 30 वर्ष से कम आयु का होना चाहिए।
(iv) must have scored more than 70% in Common Entrance Test (CET).	(iv) कॉमन एंट्रेंस टेस्ट (CET) में 70% से अधिक अंक प्राप्त होने चाहिए।
In the case of a candidate who satisfies all the conditions :	इन सभी शर्तों को पूरा करने वाले उम्मीदवार के मामले में:
(A) Except (i) above, but has post qualification work experience of 3 years or more, his/her case may be referred to General Manager.	(A) उपरोक्त में से (i) को छोड़कर, उम्मीदवार के पास अर्हता के बाद 3 या अधिक वर्षों का कार्य अनुभव है, उसके मामले को महाप्रबंधक को भेजा जा सकता है।
	(B) उपरोक्त में से (iii) को छोड़कर, CET में कम से कम 80% अंक प्राप्त हुए हैं, उसके मामले को उपराष्ट्रपति को भेजा जा सकता है।

(B) Except (iii) above, but has scored atleast 80% in CET, his/her case may be referred to Vice-President.	उपरोक्त मानदंडों और नीचे दी गई जानकारी के आधार पर आपको निर्णय लेना है।
Based on the above criteria and the information given below, you have to take decision.	

41) These cases are given to you as on 1st June, 2016. Sachin Malviya was born on 26-07-1992. He has secured 69% in graduation and knows nothing about Computers. He has scored 72% in CET. He must be /
यह मामले 1 जून 2016 की स्थिति के अनुसार आपको दिए गए हैं: सचिन मालवीय का जन्म 26-07-1992 को हुआ था। उसने स्नातक में 69% अंक प्राप्त किए हैं और वह कंप्यूटर के बारे में कुछ नहीं जानता है। उसने CET में 72% अंक प्राप्त किए हैं। तो उसको:

A) referred to the General Manager / महाप्रबंधक के पास भेजना चाहिए
B) selected / चयनित करना चाहिए
C) referred to the Vice-President / उपराष्ट्रपति के पास भेजना चाहिए
D) rejected / अस्वीकृत करना चाहिए

Following are the conditions for selecting a Programmer in Firm. The candidate must : (i) be a graduate in Bachelor of Computers Applications (BCA) with at least 70% marks. (ii) have completed Master in Computer Application (MCA) with 75% marks (iii) have a post qualification work experience of 1 year. (iv) be less than 30 years of age. In the case of a candidate who satisfies all the conditions : (A) Except (i) above, but has scored more than 80% in Class XII, the case may be referred to the Vice President. (B) Except (ii) above, but has scored more than 80% in Class X , the case may be referred to President.	फर्म में प्रोग्रामर के चयन के लिए निम्न शर्तें हैं। उम्मीदवार (i) 70% अंकों के साथ बैचलर आफ कंप्यूटर एप्लीकेशन (BCA) में स्नातक होना चाहिए (ii) कम से कम 75% अंकों के साथ मास्टर इन कम्प्यूटर एप्लीकेशन (MCA) में स्नातकोत्तर होना चाहिए। (iii) उसके पास स्नातकोत्तर के बाद 1 वर्ष का कार्य अनुभव होना चाहिए। (iv) 30 वर्ष से कम आयु होना चाहिए। इन सभी शर्तों को पूरा करने वाले उम्मीदवार के मामले में: (A) उपरोक्त में से (i) को छोड़कर, उम्मीदवार ने बारहवीं कक्षा में 80% से अधिक अंक प्राप्त किए हैं, मामले को उपराष्ट्रपति के पास भेजा जा सकता है। (B) उपरोक्त में से (ii) को छोड़कर, उम्मीदवार पे दसवीं कक्षा में 80% से अधिक अंक प्राप्त किए हैं, मामले को राष्ट्रपति के पास भेजा जा सकता है। उपरोक्त जानकारी और प्रत्येक प्रश्न में दिए मापदंडों के आधार पर, आपको निर्णय लेना है।

Based on the above information and criteria given in each of the following questions, you have to take decision.	

42) These cases are given to you as on 31st March, 2016. Ali Nadaph, a 24 year old boy has secured 67% marks in BCA and secured 78% in MCA. He scored 87% marks in Class XII. He has a post qualification work experience of 4 years.He was born on 2nd of January,1992. He should be :

/

यह मामले 31 मार्च 2016 की स्थिति के अनुसार आपको दिए गए हैं: 24 वर्षीय अली नदफ ने BCA में 67% अंक और MCA में 78% अंक प्राप्त किए हैं। उसने बारहवीं में 87% अंक प्राप्त किए हैं। उसेके पास अर्हता के बाद 4 वर्ष का कार्य अनुभव है। उसका जन्म 2 जनवरी 1992 को हुआ था है। तो उसको:

A) selected / चयनित करना चाहिए

B) rejected / अस्वीकृत करना चाहिए

C) referred to the Vice-President / उपराष्ट्रपति के पास भेजना चाहिए

D) referred to the President / राष्ट्रपति के पास भेजना चाहिए

43) In a class of 80 students, each student got toffees that are 20% of the total number of students. How many toffees were there? / 80 छात्रों की एक कक्षा में, प्रत्येक छात्र को टॉफियां मिलती हैं जो छात्रों की कुल संख्या का 20% है। वहां कितनी टॉफियां थी?

A) 1490

B) 1350

C) 1280

D) 1160

44) What is the two-digit number?

A. Sum of the two digits is 5.

B.The digit in the ten's place is bigger than the digit in the unit's place by 3.

/

दो-अंकों की संख्या क्या है?

A. दो अंकों का योगफल 5 है।

B. दहाई के स्थान का अंक इकाई के स्थान के अंक से 3 गुना बड़ा है।

A) 63

B) 74

C) 41

D) 52

45) M is the father of K, who is a doctor. L is the daughter of T, who is a housewife. N is the father of L's only brother, who is a Lawyer. K's mother,who is a Nurse is the wife of a Lawyer. There are two twin sisters X & Y whose father is M and their profession is Teaching and Tailoring respectively. L, is the Principal of a school, who is unmarried. There is only 1 lawyer in the family.What is the relationship between Y and K.

/

M, K का पिता है जो एक डॉक्टर है। L, T की बेटी है जो एक गृहिणी है। N, L के इकलौते भाई का पिता है जो एक वकील है। K की माँ जो एक नर्स है, एक वकील की पत्नी है। X और Y दो जुड़वां बहनें हैं जिनके पिता M है और उनके पेशे क्रमश: पढ़ाना और सिलाई है। L एक स्कूल के प्रिंसिपल हैं जो अविवाहित हैं। परिवार में केवल 1 वकील है।Y और K के बीच क्या संबंध है?

A) Siblings / सहोदर (सिब्लिंग)

B) Sister-sister / बहन-बहन

C) Cousins / कज़िन

D) Father-Daughter / पिता-बेटी

---

46) Below are given some different views of a dice. Which alphabet would be opposite to I? / नीचे पासे (डाइस) के कुछ अलग अलग दृश्य दिए गए हैं। "I" के विपरीत क्या है?

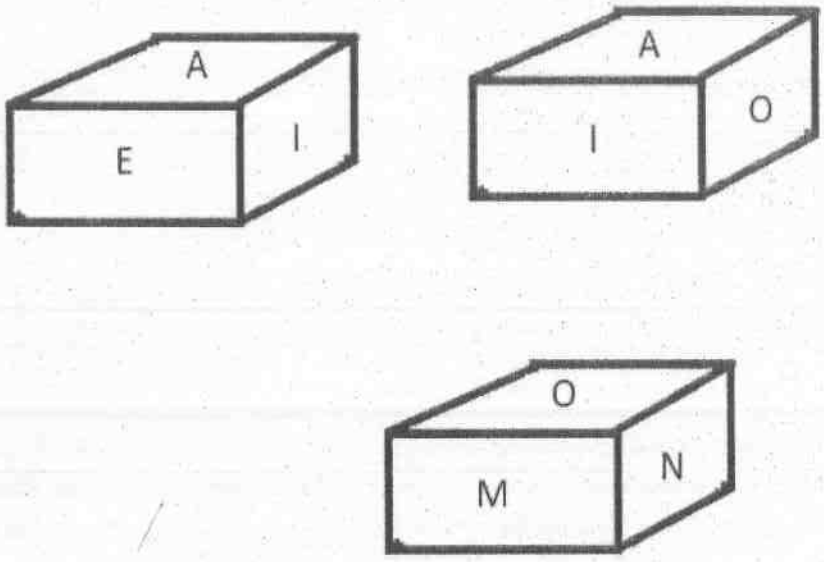

A) O

B) A

C) E

D) Either M or N / या तो M या N

47) Jasmeen's mother is Sakshi's mother-in-law. So, Jasmeen's only brother is Sakshi's ____. / जैसमीन की मां साक्षी की सास है। तो, जैसमीन का इकलौता भाई साक्षी का _____

A) Brother / भाई है

B) Father-in-law / ससुर है

C) Husband / पति है

D) Brother-in-law / देवर है

48) 6 years ago, the ratio of ages of Ram and Ali was 6 : 5. 2 years later from now, their age-ratio will be 7 : 6. Present age of Ali is: / 6 साल पहले राम और अली की उम्र का अनुपात 6 : 5 था। अब से 2 साल बाद उनकी उम्र का अनुपात 7 : 6 होगा। अली का वर्तमान उम्र है:

A) 54 years / 54 साल

B) 62 years / 62 साल

C) 46 years / 46 साल

D) 66 years / 66 साल

49) What comes in place of question mark (?) in the following number series? / निम्नलिखित संख्या श्रृंखला में प्रश्न चिह्न (?) के स्थान पर क्या आता है?

1, 7, 6, 17, 11, 27, 16, ?, 21

A) 43

B) 37

C) 41

D) 57

50) Here, four words are given. Out of these, three are alike in a certain manner but the rest one is different. Choose the one which is different from the rest three. / यहां चार शब्द दिए गए हैं। इनमें से तीन निश्चित तरीके से एक जैसे हैं, पर एक शब्द भिन्न है। वह विकल्प चुनिए जो शेष तीनों से भिन्न हो।

A) 9CAT

B) 25DOGS

C) 4ON

D) 16TOYS

51) In how many different sets can the given set be classified if classification is done on the basis of number of consonants in term: (SEVEN, BOOKS, BAGGAGE, FLOOR, WINDOW)? /
कितने भिन्न समुच्चयों में दिए गए समुच्चय को वर्गीकृत किया जा सकता है यदि वह वर्गीकरण निम्न पद में व्यंजनों की संख्या के आधार पर किया जाता है: (SEVEN, BOOKS, BAGGAGE, FLOOR, WINDOW)?

A) 4

B) 3

C) 1

D) 2

52) If in a certain code language, "DEFUZE" is coded as "EZUFED", then how is "JUNGLE" coded in that language? / यदि एक **निश्चित कूट-भाषा में** "DEFUZE" **को** "EZUFED" **के रूप में कूट बद्ध किया जाता है,** तो उस भाषा में "JUNGLE" **को** कैसे **कूट बद्ध किया जाएगा?**

A) ELGNUJ

B) ENLUGJ

C) EUGNLJ

D) ELNGUJ

53) If "apple" is called "rice", "rice" is called "butter", "butter" is called "water", "water" is called "book", "book" is called "shelf" and "shelf" is called "phone", then which of the following is used for drinking? /
यदि "सेब" को "चावल" कहा जाता है, "चावल" को "मक्खन" कहा जाता है, "मक्खन" को "पानी" कहा जाता है, "पानी" को "किताब" कहा जाता है, "किताब" को "शेल्फ" कहा जाता है और "शेल्फ" को "फ़ोन" कहा जाता है, तो निम्न में से किसे पीने के लिए प्रयोग किया जाता है?

A) Book / किताब

B) Water / पानी

C) Rice / चावल

D) Butter / मक्खन

Following are the conditions for selection of an accounts officer in an organization. The candidate must : (i) be a graduate in Commerce with atleast 65% marks. (ii) have knowledge of Computers. (iii) be less than 30 years of age.	संगठन में खाता अधिकारी के चयन के लिए निम्न शर्तें हैं। उम्मीदवार (i) कम से कम 65% अंकों के साथ वाणिज्य में स्नातक होना चाहिए। (ii) कंप्यूटर का ज्ञान होना चाहिए। (iii) 30 वर्ष से कम आयु का होना चाहिए। (iv) कॉमन एंट्रेंस टेस्ट (CET) में 70% से अधिक अंक प्राप्त होने चाहिए। इन सभी शर्तों को पूरा करने वाले उम्मीदवार के मामले में:

(iv) must have scored more than 70% in Common Entrance Test (CET).	(A) उपरोक्त में से (i) को छोड़कर, उम्मीदवार के पास अर्हता के बाद 3 या अधिक वर्षों का कार्य अनुभव है, उसके मामले को महाप्रबंधक को भेजा जा सकता है।
In the case of a candidate who satisfies all the conditions :	(B) उपरोक्त में से (iii) को छोड़कर, CET में कम से कम 80% अंक प्राप्त हुए हैं, उसके मामले को उपराष्ट्रपति को भेजा जा सकता है।
(A) Except (i) above, but has post qualification work experience of 3 years or more, his/her case may be referred to General Manager.	उपरोक्त मानदंडों और नीचे दी गई जानकारी के आधार पर आपको निर्णय लेना है।
(B) Except (iii) above, but has scored atleast 80% in CET, his/her case may be referred to Vice-President.	
Based on the above criteria and the information given below, you have to take decision.	

54) These cases are given to you as on 1st June, 2016. Ruchi Sinha was born on 13-03-1989. She has secured 58% in graduation in Commerce and has a five years of work experience. She has good knowledge of Computers and has scored 86% in CET. She must be: /
यह मामले 1 जून 2016 की स्थिति के अनुसार आपको दिए गए हैं: रूचि सिन्हा का जन्म 13-03-1989 को हुआ था। उसने वाणिज्य में स्नातक में 58% अंक प्राप्त किए हैं और उसे पांच वर्ष का कार्य अनुभव है। उसे कम्प्यूटर का अच्छा ज्ञान है और CET में 86% अंक प्राप्त किए हैं। तो उसको:

A) referred to the General Manager / महाप्रबंधक के पास भेजना चाहिए
B) referred to the Vice-President / उपराष्ट्रपति के पास भेजना चाहिए
C) rejected / अस्वीकृत करना चाहिए
D) selected / चयनित करना चाहिए

55) Which term of the given series would be the first one to have at least six digits: 3, 5, 15, 75, ...? / / दी गई श्रृंखला में छह अंकीय पहली संख्या कौन सी होगी: 3, 5, 15, 75, ...?

A) 8th / 8वीं
B) 7th / 7वीं
C) 6th / 6वीं
D) 9th / 9वीं

56) A figure is given on the left with a pattern. Observe and find out which of the three images on the right looks similar to the left half of this pattern? / बाईं ओर एक पैटर्न के साथ एक चित्र दी गई है। ध्यानपूर्वक देखिए और बताइए कि दाईं ओर की तीन चित्रों में से कौन इस पैटर्न के बाएँ अर्ध हिस्से के समान दिखाई पड़ती है?

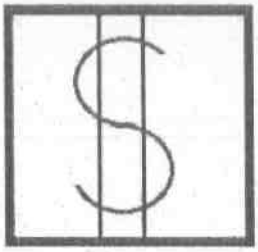

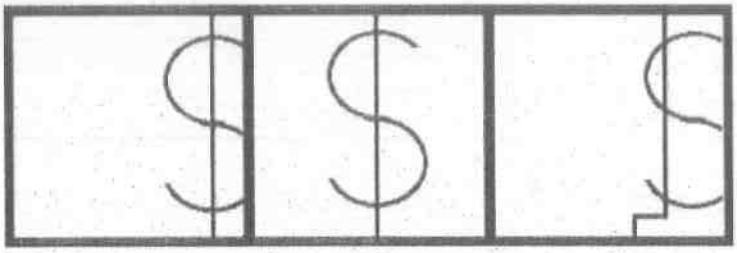

1 2 3

A) Both 1 and 2 / 1 और 2 दोनों

B) 2

C) 3

D) 1

---

57) What comes in place of question mark (?) in the series given below? / नीचे दिए गए श्रृंखला में प्रश्न चिह्न (?) के स्थान पर क्या आता है?

4, 10, 45, ?, 511, 1178

A) 185

B) 190

C) 180

D) 188

---

58) If a triangle is cut out from a circular sheet such that all its vertices lie on the circle, then how many parts of the sheet will be made? / यदि वृताकार शीट से एक त्रिकोण को ऐसे काटा गया है कि इसके सभी अनुलंब वृत पर निहित हैं, तो शीट पर कितने भाग बनेंगे?

A) 1

B) 3

C) 4

D) 2

59) Find the missing term in the sequence: ACE, EGI, ILO, _____ , UXA / क्रम में लापता वर्ण ज्ञात करें: ACE, EGI, ILO, _____ , UXA

A) ORV

B) ORU

C) OSV

D) OSU

60) There are three words given here. The first two words are related in a certain manner. Select the proper word among the given four alternatives which bears the same relationship with the third word as in the manner first and second words are related.

Cement : Disintegrate :: Carnal :

/

यहाँ पर तीन शब्द दिए गए हैं। पहले दो शब्द एक निश्चित शैली से संबंधित हैं। दिए गए चार विकल्पों में से उस सही शब्द का चयन करें, जो तीसरे शब्द से वैसा ही संबंध रखता हो, जैसा कि पहले और दूसरे शब्द संबंध रखते हों।

सीमेंट : पृथक करना :: कामुक :

A) Languid / शिथिल

B) Energetic / ऊर्जावान

C) Sceptical / संशयी

D) Spiritual / आध्यात्मिक

Section 2 - PART B

No. of Questions: 60

61) Which of the following is the south-west monsoon season in India? / निम्नांकित में से कौन सा भारत में दक्षिण-पश्चिम मॉनसून मौसम है?

A) June-September / जून-सितम्बर

B) December-February / दिसम्बर-फरवरी

C) October-November / अक्टूबर-नवम्बर

D) March-May / मार्च-मई

---

62) The size of the image formed by the concave lens is / अवतल दर्पन द्वारा निर्मित प्रतिबिंब का आकार

A) always smaller than the size of the object / हमेशा वस्तु के आकार से छोटा होता है

B) always greater than the size of the object / हमेशा के आकार से बड़ा होता है

C) same as the size of the object / हमेशा वस्तु के आकार के बराबर होता है

D) dependent on the position of the object / वस्तु की स्थिति पर निर्भर करता है

---

63) What is the approximate total length of the coastline along each of the coastal state/union territory in India? / भारत में प्रत्येक तटीय राज्य/संघ राज्य क्षेत्र के साथ समुद्र तट की अनुमानित कुल लंबाई क्या है?

A) 7,517 km / 7,517 किमी

B) 9,517 km / 9,517 किमी

C) 8,517 km / 8,517 किमी

D) 6,517 km / 6,517 किमी

---

64) Who is empowered to form a new state? / एक नए राज्य के गठन का अधिकार इनमें से किसे है?

A) Central Government / केंद्र सरकार

B) President / राष्ट्रपति

C) State Government / राज्य सरकार

D) Parliament / संसद

65) As of 2016, the Communist Party of India (Marxist) has formed government in which of the following states in India? / 2016 से, भारत की कम्युनिस्ट पार्टी (मार्क्सवादी) द्वारा भारत के इनमें से किस राज्य में सरकार का गठन किया गया है?

A) Tripura / त्रिपुरा

B) Punjab / पंजाब

C) Jammu and Kashmir / जम्मू एवं कश्मीर

D) Himachal Pradesh / हिमाचल प्रदेश

66) Which Article of the Indian Constitution, abolished the practice of untouchability? / भारतीय संविधान के किस अनुच्छेद ने अस्पृश्यता की प्रथा को समाप्त कर दिया?

A) Article 14 / अनुच्छेद 14

B) Article 17 / अनुच्छेद 17

C) Article 15 / अनुच्छेद 15

D) Article 20 / अनुच्छेद 20

67) Mohun Bagan Athletic Club conferred the prestigious Mohun Bagan Ratna (jewel) 2016 to / मोहन बागान एथलेटिक क्लब ने किसे प्रतिष्ठित मोहन बागान रत्न (जुएल) 2016 से सम्मानित किया?

A) Baichung Bhutia / बाइचुंग भूटिया

B) Sunil Chhetri / सुनील छेत्री

C) Syed Nayeemuddin / सैयद नईमुद्दीन

D) Robin Singh / रॉबिन सिंह

68) What is the rank of India in receiving Foreign Direct Investment in 2015, as per the World Investment Report released by the United Nations Conference for Trade and Development (UNCTAD)? / युनाइटेड कंफ्रेंस फॉर ट्रेड एंड डेवलपमेंट (UNCTAD) द्वारा जारी वर्ल्ड इंवेस्टमेंट रिपोर्ट के अनुसार 2015 में प्रत्यक्ष विदेशी निवेश प्राप्त करने में भारत का क्या स्थान है?

A) 10th / दसवां

B) 7th / सातवां

C) 3rd / तीसरा

D) 14th / चौदहवां

69) Which was the early capital of the Portuguese in India? / भारत में पुर्तगाली की शुरुआती राजधानी कौनसी थी?

A) Calicut / कालीकट

B) Bijapur / बीजापुर

C) Cochin / कोचीन

D) Surat / सूरत

70) Which of the following lens is thinner at the centre and thick at the edges? / निम्नलिखित लेंस में से कौन सा केंद्र में पतला और किनारों पर मोटा होता है?

A) Concave / अवतल

B) Biconvex lens / उभयोत्तल

C) Convex / उत्तल

D) Cylindrical / बेलनाकार

71) Who is the Wimbledon 2016 men's singles champion? / विंबलडन 2016 के पुरुष एकल चैंपियन कौन है?

A) Roger Federer / रोजर फेडरर

B) Milos Raonic / मिलोस राउनिच

C) Andy Murray / एंडी मरे

D) Novak Djokovic / नोवाक जोकोविच

72) In which famous case did the Supreme Court opine that the Preamble is a part of the Constitution? / कौन से प्रसिद्ध मामले में सर्वोच्च न्यायालय का कहना था कि प्रस्तावना संविधान का एक हिस्सा है?

A) D.S Nakara Vs Union of India / डी.एस नकारा बनाम भारतीय संघ

B) Kesavananda Bharati case / केशवानंद भारती मामला

C) Berubari Union case / बेरुबरी संघ मामला

D) Minerva Mills Vs Union of India / मिनर्वा मिल्स बनाम भारतीय संघ

73) Sonepur cattle fair, considered to be one of the biggest cattle fairs in Asia, is held in which Indian state? / एशिया के सबसे बड़े पशु मेलों में से एक माने जाने वाला सोनपुर पशु मेला कौन से भारतीय राज्य में आयोजित किया जाता है?

A) Uttar Pradesh / उत्तर प्रदेश

B) West Bengal / पश्चिम बंगाल

C) Bihar / बिहार

D) Jharkhand / झारखंड

74) Which of the following is the source of river Narmada? / निम्न में से कौन सा एक नर्मदा नदी का स्रोत है?

A) Multai / मुलताई

B) Cardamom Hills / इलायची (कार्डमम) पहाड़ियां

C) Amarkantak Hills / अमरकंटक पहाड़ियां

D) Manasarovar / मानसरोवर

75) At which place the first Dayanand Anglo-Vedic (DAV) School was founded in 1886? / 1886 में पहले दयानंद एंग्लो वैदिक (डीएवी) स्कूल को कहां स्थापित किया गया था?

A) Multan / मुल्तान

B) Bombay / बम्बई

C) Punjab / पंजाब

D) Lahore / लाहौर

76) Virginia Thrasher who won the first gold medal of the Rio 2016 Olympic Games belongs to which country? / वर्जिनिया थ्रेशर जिसने रियो 2016 ओलंपिक खेलों का पहला स्वर्ण पदक जीता, वह किस देश से संबंधित है?

A) United Kingdom / यूनाइटेड किंगडम

B) USA / संयुक्त राज्य अमेरिका

C) Germany / जर्मनी

D) France / फ्रांस

77) Which Indian actor/actress will be honoured by the Dubai International Film Festival (DIFF) with a Lifetime Achievement Award, to be held in December, 2016? /
कौन से भारतीय अभिनेता/अभिनेत्री को दिसंबर, 2016 में आयोजित होने वाले दुबई अंतरराष्ट्रीय फिल्म महोत्सव (DIFF) द्वारा लाइफटाइम अचीवमेंट पुरस्कार से सम्मानित किया जाएगा?

A) Amitabh Bachchan / अमिताभ बच्चन

B) Hema Malini / हेमा मालिनी

C) Dharmendra / धर्मेंद्र

D) Rekha / रेखा

78) The official designation of a Peshwa (Prime Minister) in Maratha Empire is created by / मराठा साम्राज्य में पेशवा (प्रधानमंत्री) के सरकारी पद का सृजन किसने किया है?

A) Sambhaji Maharaj / संभाजी महाराज

B) Ramchandra Amatya / रामचंद्र अमात्य

C) Parshuram Trimbak Kulkarni / परशुराम त्रिम्बक कुलकर्णी

D) Shivaji Maharaj / शिवाजी महाराज

---

79) In November 2016, who signed an MoU with IIT Delhi to establish a 'Joint Advanced Technology Centre' (JATC)? / नवंबर 2016 में, एक 'संयुक्त अग्रिम प्रौद्योगिकी केन्द्र' (JATC) स्थापित करने के लिए किसने IIT दिल्ली के साथ एक समझौता ज्ञापन पर हस्ताक्षर किया?

A) Council of Scientific and Industrial Research (CSIR) / वैज्ञानिक तथा औद्योगिक अनुसंधान परिषद (CSIR)

B) Defence Research & Development Organisation (DRDO) / रक्षा अनुसंधान एवं विकास संगठन (DRDO)

C) Indian Council of Agricultural Research (ICAR) / भारतीय कृषि अनुसंधान परिषद (ICAR)

D) Indian Space Research Organisation (ISRO) / भारतीय अंतरिक्ष अनुसंधान संगठन (ISRO)

---

80) Which of the following is the third oldest among the major ports of India? / निम्नलिखित में कौन सा भारत के प्रमुख बंदरगाहों में तीसरा सबसे पुराना बंदरगाह है?

A) Chennai / चेन्नई

B) Cochin / कोचीन

C) Mumbai / मुम्बई

D) Kandla / कांडला

---

81) Article 25 guarantees freedom of religion which is also subjected to / अनुच्छेद 25 धार्मिक स्वतंत्रता की गारन्टी देता है और जो इसके अधीन भी होता है?

A) public order, morality, health and other provisions of Article 25 / अनुच्छेद 25 का सार्वजनिक व्यवस्था, नैतिकता, स्वास्थ्य तथा अन्य प्रावधान

B) only security and integrity of the nation of Article 25 / अनुच्छेद 25 का केवल देश की सुरक्षा और अखंडता

C) only public order and morality of Article 25 / अनुच्छेद 25 का केवल सार्वजनिक व्यवस्था और नैतिकता

D) public order, secularism and global peace of Article 25 / अनुच्छेद 25 का सार्वजनिक व्यवस्था, धर्म-निरपेक्षता और वैश्विक शांति

82) Ottmar Mergenthaler invented which of the following devices? / ओट्मार मर्गेंथेलर ने निम्नलिखित उपकरणों में से किसका आविष्कार किया?

A) Running Machine / रनिंग मशीन

B) Linotype machine for printing / छपाई के लिए लाइनोटाइप मशीन

C) Magnetic tape used for recording sound / ध्वनि रिकॉर्डिंग के लिए प्रयुक्त चुंबकीय टेप

D) Coffee Filter / कॉफ़ी फ़िल्टर

83) Manhattan Project is related to which of the following inventions of twentieth century? / मैनहट्टन परियोजना बीसवीं सदी के निम्नलिखित आविष्कारों में से किससे संबंधित है?

A) Building of an atomic bomb / एक परमाणु बम का निर्माण

B) Launch of GPS System / GPS का आरम्भ

C) Lunar Mission / चंद्र मिशन

D) Discovery of Gods Particles / गॉड पार्टिकल की खोज

84) Which of the following companies has been given the approval by the Union Cabinet for dissolution as per the provisions of Companies Act, 1956? / निम्नांकित में से किस कंपनी को कंपनी अधिनियम 1956 के प्रावधानों के अनुरूप केंद्रीय मंत्रिमंडल द्वारा विघटन की मंजूरी दी गई है?

A) Central Inland Water Transport Corporation Limited (CIWTC) / सेंट्रल इनलैंड वाटर ट्रांसपोर्ट कॉरपोरेशन लिमिटेड (CIWTC)

B) Water and Power Consultancy Services (India) Limited / वाटर एंड पावर कंसल्टेंसी सर्विसेज (इंडिया) लिमिटेड

C) Central Mine Planning and Design Institute / सेंट्रल माइन प्लानिंग एंड डिजाइनिंग इंस्टिट्यूट

D) Bharat Earth Movers / भारत अर्थ मूवर्स

85) Which of the following is an INCORRECT option pertaining to formula one Grand Prix Tournaments of 2016 won by Lewis Hamilton? / निम्न में से कौन सा लुईस हैमिल्टन द्वारा जीते गए 2016 के फार्मूला वन ग्रैंड प्रिक्स टूर्नामेंट के संबंध में एक गलत विकल्प है?

A) Australian Grand Prix Tournament 2016 / ऑस्ट्रेलियाई ग्रैंड प्रिक्स टूर्नामेंट 2016

B) Hungarian Grand Prix 2016 / हंगेरियाई ग्रैंड प्रिक्स 2016

C) Belgian Grand Prix 2016 / बेल्जियम ग्रैंड प्रिक्स 2016

D) British Grand Prix 2016 / ब्रिटिश ग्रैंड प्रिक्स 2016

86) Where was the 8th BRICS Summit held? / 8वां ब्रिक्स (BRICS) शिखर सम्मेलन कहां हुआ था?

A) Agra / आगरा

B) Mumbai / मुम्बई

C) New Delhi / नई दिल्ली

D) Goa / गोआ

87) The Mughal Government under Akbar was divided into how many administrative units and what were they known as? / अकबर के अंतर्गत मुगल सरकार को कितनी प्रशासनिक इकाइयों में विभाजित किया गया था और उन्हें किस रूप में जाना जाता था?

A) Twelve, Subas / बारह, सुबास

B) Fifteen, Subas / पंद्रह, सुबास

C) Eighteen, Subas / अठारह, सुबास

D) Ten, Subas / दस, सुबास

88) In October 2016, Palestine signed a memorandum of understanding (MoU) with which of the following countries for setting up a Techno Park in Ramallah?/
अक्टूबर 2016 में फ़िलिस्तीन ने रामल्लाह में एक टेक्नो पार्क की स्थापना के लिए निम्नलिखित देशों में से किसके साथ एक समझौता ज्ञापन पर हस्ताक्षर किए?

A) United States of America / संयुक्त राज्य अमेरिका

B) China / चीन

C) India / भारत

D) Pakistan / पाकिस्तान

89) Which of the following teams has won their maiden Women's World T-20 cricket title by defeating reigning champions Australia? / निम्नलिखित टीमों में से किसने मौजूदा चैंपियन ऑस्ट्रेलिया को हरा कर अपना प्रथम महिला विश्व T-20 क्रिकेट का खिताब जीता है?

A) Sri Lanka / श्रीलंका

B) England / इंग्लैंड

C) West Indies / वेस्टइंडीज़

D) New Zealand / न्यूज़ीलैंड

90) In which of the following states of India is the peak Nanda Devi located? / निम्नांकित में से भारत के किस राज्य में नंदा देवी की चोटी स्थित है?

A) Assam / असम

B) Uttarakhand / उत्तराखंड

C) Himachal Pradesh / हिमाचल प्रदेश

D) Uttar Pradesh / उत्तर प्रदेश

91) Voltage is equal to / वोल्टता किसके बराबर है?

A) work done / (current x time) / किया गया कार्य / (करन्ट x समय)

B) work done x charge / किया गया कार्य x चार्ज

C) work done x charge x time / किया गया कार्य x चार्ज x समय

D) (work done x time) / current / (किया गया कार्य x समय) / करन्ट

92) The dance form Garba is associated with which state? / गरबा नृत्य रूप कौन से राज्य के साथ जुड़ा हुआ है?

A) Gujarat / गुजरात

B) Karnataka / कर्नाटक

C) Uttar Pradesh / उत्तर प्रदेश

D) Madhya Pradesh / मध्य प्रदेश

93) Which is the sacred dance form performed in the temple of Tanjore? / तंजौर के मंदिर में प्रदर्शित पवित्र नृत्य शैली कौन सी है?

A) Bharatnatyam / भरतनाट्यम

B) Kathak / कथक

C) Kuchipudi / कुचिपुड़ी

D) Kathakali / कथकली

94) Sushruta, a medical theoretician and practitioner wrote a medical compendium by which name? / एक चिकित्सा विचारक और व्यवसायी, सुश्रुत ने किस नाम से चिकित्सा संग्रह लिखा था?

A) Sushruta-Samhita / सुश्रुत-संहिता

B) Charaka-Samahita / चरक-संहिता

C) Yogasutra / योगसूत्र

D) Bhela-Samhita / भेला- संहिता

95) The rock cut temples at Mahabalipuram and the Kailashnath temple at Kanchipuram are the achievements of the / महाबलीपुरम में रॉक कट मंदिर और कांचीपुरम में कैलाशनाथ मंदिर किसकी उपलब्धियां हैं?

A) Cholas / चोल

B) Pallavas / पल्लव

C) Chandellas / चंदेल

D) Hoyasala / होयसल

96) Extraction of metals from their oxides always involves the oxide undergoing : / धातुओं के अपने ऑक्साइड्स से निष्कर्षण में हमेशा ऑक्साइड का इनमें से क्या होता है?

A) Displacement / विस्थापन

B) Reduction / अपचयन

C) Neutralisation / निष्प्रभावीकरण

D) Oxidation / ऑक्सीकरण

97) Which of the following is India's latest communication satellite, launched in October 2016? / अक्टूबर 2016 में लॉन्च हुए भारत का सबसे बड़ा संचार उपग्रह कौन सा है?

A) GSAT-10

B) GSAT-18

C) GSAT-5P

D) INSAT-6P

98) The preamble-page, along with other pages of the original Constitution of India, was designed and decorated by / भारत के मूल संविधान के अन्य पृष्ठों के साथ-साथ प्रस्तावना पृष्ठ किसके द्वारा बनाया और विभूषित किया गया था?

A) Nandalal Bose / नंदलाल बोस

B) J C Bose / जे सी बोस

C) Sardar Swaran Singh / सरदार स्वरण सिंह

D) Beohar Rammanohar Sinha / बीयोहर राममनोहर सिन्हा

99) In the dye industry, which dye is known as the "King of dyes"? / डाई उद्योग में कौन सा डाई "रंगों के राजा" के रूप में जाना जाता है?

A) Indigo / इंडिगो

B) Henna / मेंहदी

C) Wood / लकड़ी

D) Chlorophyll / क्लोरोफिल

100) In economic theory, National Income (NI) can be defined as \ आर्थिक सिद्धांत में, राष्ट्रीय आय (NI) को किस रूप में परिभाषित किया जा सकता है?

A) sum of gross national product at market prices \ बाजार मूल्यों पर सकल राष्ट्रीय उत्पाद का योग

B) net national product at market prices \ बाजार मूल्य पर शुद्ध राष्ट्रीय उत्पाद

C) sum of all incomes earned by resource suppliers \ संसाधन आपूर्तिकर्ताओं द्वारा अर्जित सभी आय का योग

D) gross national product at factored cost \ उपादान लागत पर सकल राष्ट्रीय उत्पाद

101) Who introduced the Ryotwari System in 1820? / 1820 में रैयतवारी प्रणाली किसने शुरू की थी?

A) Thomas Munro / थॉमस मुनरो

B) Robert Clive / रॉबर्ट क्लाइव

C) William Bentick / विलियम बेंटिक

D) Lord Cornwallis / लार्ड कार्नवालिस

102) Which was the biggest peasant guerilla war of modern Indian history affecting 3000 villages and 3 million population? / 3000 गांवों और 30 लाख की आबादी को प्रभावित करने वाला आधुनिक भारतीय इतिहास का सबसे बड़ा किसान गुरिल्ला युद्ध कौन सा था?

A) Bardoli Satyagraha / बारडोली सत्याग्रह

B) Telangana Movement / तेलंगाना आंदोलन

C) Tebhaga Movement / तेभागा आंदोलन

D) The Kisan Sabha Movement / किसान सभा आंदोलन

103) Which of the following teams was the runner up for Irani Cup 2015-16, played at Brabourne Stadium in Mumbai? / निम्नलिखित टीमों में से कौन मुंबई में ब्रेबोर्न स्टेडियम में खेला गया ईरानी कप 2015-16 में रनर अप था?

A) Karnataka / कर्नाटक

B) Tamil Nadu / तमिलनाडु

C) Mumbai / मुंबई

D) Rest of India / रेस्ट ऑफ इंडिया

104) In India, what is the maximum duration of interval between two sessions of Parliament? / भारत में संसद के दो सत्रों के बीच अधिकतम कितनी अवधि होती है?

A) 3 months / 3 माह

B) 9 months / 9 माह

C) 6 months / 6 माह

D) One year / एक वर्ष

105) In India, the Community Development Programme was initiated in 1952 by a committee under the leadership of / 1952 में भारत में सामुदायिक विकास कार्यक्रम एक समिति द्वारा इनमें से किसके नेतृत्व में शुरू किया गया था?

A) Ashok Mehta / अशोक मेहता

B) Balwant Rai Mehta / बलवंत राय मेहता

C) K.M. Munshi / के.एम. मुंशी

D) S.K. Day / एस. के. डे

106) Vidya Pillai who won the women's final Championship in 2016 belongs to which of the following sports? / 2016 में महिलाओं की अंतिम चैंपियनशिप जीतने वाली विद्या पिल्लई किस खेल से जुड़ी हैं?

A) Chess / शतरंज

B) Wrestling / कुश्ती

C) Badminton / बैडमिंटन

D) Snooker / स्नूकर

107) Re-Categorisation of Industries a landmark decision is released by the Union Ministry of Environment, Forest and Climate Change (MoEFCC). By how many color categories are industries classified based on their pollution potential ?/ केंद्रीय पर्यावरण, वन तथा जलवायु परिवर्तन (MoEFCC) द्वारा जारी उद्योगों के पुनरश्रेणीकरण के फैसले में प्रदूषण संभावना के आधार पर उद्योगों को कितने रंग श्रेणियों में वर्गीकृत किया जाता है?

A) 6

B) 3

C) 8

D) 4

108) The Mandal Commission was established in 1979 with a mandate to identify the socially or educationally backward sections of society in India.It was headed by / भारत में शासनादेश से सामाजिक या आर्थिक रूप से पिछड़े वर्गों की पहचान के लिए मंडल आयोग का गठन 1979 में किया गया था। इनके अध्यक्ष थे ?

A) Indira Gandhi / इंदिरा गांधी

B) V.P Singh / वी.पी सिंह

C) Janta Dal / जनता दल

D) B.P Mandal / बी.पी मंडल

109) Apples when cut in pieces and left in open, gradually turns brown due to / जब सेब टुकड़ों में काट कर खुले में छोड़ दिया जाता है, तो यह धीरे-धीरे भूरे रंग में बदल जाता है इसका कारण क्या है?

A) Reduction / अपचयन

B) Oxidation / ऑक्सीकरण

C) Precipitation / अवक्षेपण

D) Displacement / विस्थापन

110) Which of the following statement is true pertaining to conservation of electric charge? / निम्न में से कौन सा कथन विद्युत आवेश के संरक्षण के संबंध में सही है?

A) The total electric charge of the universe or any closed system is never constant / ब्रह्मांड या किसी भी बंद प्रणाली का कुल विद्युत आवेश कभी भी स्थिर नहीं होता है

B) The total electric charge of the universe or any closed system is constant / ब्रह्मांड या किसी भी बंद प्रणाली का कुल विद्युत आवेश स्थिर होता है

C) Energy can neither be created nor destroyed it can be converted from one form to another / ऊर्जा को न तो बनाया जा सकता है और न ही नष्ट किया जा सकता है, इसे एक रूप से दूसरे में परिवर्तित किया जा सकता है

D) Electric charge always diminishes with material of high tensile strength / विद्युत आवेश हमेशा उच्च तन्यता शक्ति की सामग्री के साथ घटता है

111) When was the National Emblem and Seal adopted by the government of India? / भारत सरकार द्वारा राष्ट्रीय चिह्न और मोहर कब अपनाया गया था?

A) Jan 26,1950 / 26 जनवरी,1950

B) Dec 26,1949 / 26 दिसंबर, 1949

C) Jan 26,1951 / 26 जनवरी,1951

D) Nov 26,1949 / 26 नवंबर, 1949

112) Which plant among the following is used in the treatment of rheumatism? / निम्नलिखित पौधों में से कौन सा आमवात के इलाज में प्रयोग किया जाता है?

A) Olive oil / ऑलिव आयल

B) Horsetail / हॉर्सटेल

C) Green lipped mussel / ग्रीन लिप्पड मसल

D) Willow / विलो

113) A non-metallic hydride having an unpleasant rotten fishy smell is / एक अधातु हाइड्राइड जिसमें एक अप्रिय सड़ी हुई मछली का गंध होता है, यह निम्न में से कौन सा है?

A) Hydrogen sulphide / हाइड्रोजन सल्फाइड

B) Phosphine / फॉस्फीन

C) Ammonia / अमोनिया

D) Hydrogen peroxide / हाइड्रोजन पेरॉक्साइड

114) Which of the following rivers is a tributary of river Yamuna? / निम्न में से कौन सी नदी यमुना नदी की एक सहायक नदी है?

A) Ravi / रवि

B) Chenab / चिनाब

C) Beas / ब्यास

D) Chambal / चंबल

115) No person appointed as an additional judge of a high court can hold office after attaining the age of / किसी उच्च न्यायालय के अतिरिक्त न्यायाधीश के रूप में नियुक्त कोई भी व्यक्ति निम्न में से कितनी आयु प्राप्त करने के बाद पद पर नहीं बने रह सकता

A) seventy years / सत्तर वर्ष

B) sixty-two years / बासठ वर्ष

C) fifty-two years / बावन वर्ष

D) sixty years / साठ वर्ष

116) Where was the first 'World Sustainable Development Summit-2016' held in India? / पहले 'वर्ल्ड सस्टेनेबल डेवलपमेंट समिट-2016' का आयोजन भारत में कहां हुआ था?

A) Pune / पुणे

B) New Delhi / नई दिल्ली

C) Bengaluru / बेंगलूरु

D) Mumbai / मुम्बई

117) Which article of Indian Constitution empowers the Parliament to 'vary or revoke the conditions of service of officers of certain services'? / 'कुछ ख़ास सेवाओं के अधिकारियों की सेवा की शर्तों को बदलने या रद्द करने' के लिए भारतीय संविधान का इनमें से कौन सा अनुच्छेद संसद को शक्ति प्रदान करता है?

A) 312A / 312ए

B) 313

C) 311

D) 312

118) Who among the following is heading the five-member review committee to probe the Indian shooters' Rio Games debacle constituted by National Rifle Association of India (NRAI)?
/
रियो खेलों में भारतीय निशानेबाजों की पराजय की जांच करने के लिए नेशनल राइफल एसोसिएशन ऑफ़ इंडिया (NRAI) द्वारा गठित पंच सदस्यीय समीक्षा समिति की अध्यक्षता कौन कर रहे हैं?

A) Abhinav Bindra / अभिनव बिंद्रा

B) Manisha Malhotra / मनीष मल्होत्रा

C) Gagan Narang / गगन नारंग

D) Rajiv Bhatia / राजीव भाटिया

119) Identify the INCORRECT statement in respect of speaker or deputy speaker of the state. / राज्य के अध्यक्ष या उपाध्यक्ष के संबंध में गलत कथन की पहचान कीजिए।

A) Shall not be moved unless atleast fourteen day's notice has been given / जब तक कम से कम चौदह दिन का नोटिस न दे दिया जाए, हटाए नहीं जा सकते

B) Can be removed on passing a resolution by majority of members of the assembly / विधानसभा के सदस्यों के बहुमत से एक प्रस्ताव पारित पर हटाए जा सकते हैं

C) Vacates the office on ceasing to be member of the assembly / विधानसभा का सदस्य न रहने पर पद छोड़ देते हैं

D) Selected from the members of the assembly / विधानसभा के सदस्यों में से चुने जाते हैं

120) In November 2016, the Indian Ministry of Tourism decided to rope-in whom as its mascot for the 'Incredible India' campaign? / नवंबर 2016 में, भारतीय पर्यटन मंत्रालय ने किसे 'इनक्रेडिबल इंडिया' अभियान के लिए अपने शुभंकर के रूप में मानने का फैसला किया है?

A) Bollywood Actor - Amitabh Bachchan / बॉलीवुड अभिनेता - अमिताभ बच्चन

B) Bollywood Actor - Aamir Khan / बॉलीवुड अभिनेता - आमिर खान

C) Union Minister of State for Tourism & Culture - Dr. Mahesh Sharma / पर्यटन और संस्कृति राज्य मंत्री - डॉ महेश शर्मा

D) Prime Minister - Shri Narendra Modi / प्रधानमंत्री - श्री नरेन्द्र मोदी

Section 3 - PART C

No. of Questions: 60

121) Identify the simple sentence among the following:

A) Being a professional, it took him very little time to complete the work.

B) He is a professional, and always finishes his work on time.

C) Since he is a professional, he can complete the work in very little time.

D) It took him very little time to complete the work because he is a professional.

122) Choose the correct meaning of the phrase / idiom underlined in the sentence:
Ahmed tried in vain to start his car.

A) in desparation

B) with great effort

C) proudly

D) without result

123) Chose the word that is spelt correctly and fill the blanks:
She took the last _____ of medicine at nine o'clock.

A) does

B) doez

C) doze

D) dose

124) Identify the antonym of the underlined word:
The former business school is now a fully accredited university.

A) proscribed

B) accepted

C) licensed

D) authorised

125) Identify the correct synonym:
Exorbitant

A) Small
B) Inexpensive
C) Cheap
D) Excessive

---

126) Identify the antonym of the underlined word:
You were sloppy for the interview;the panel rejected you.

A) unkempt
B) dishevelled
C) smart
D) ugly

---

127) Identify the error in the following sentence. The error, if any, will be in one part of the sentence, the number of that part is your answer. If there is no error, mark your answer as (D). (A) He chosen his study course / (B) in consultation with / (C) his parents and teachers. / (D) No Error.

A) B
B) C
C) A
D) D

---

128) Identify the correct synonym:
Superfluous

A) Inferior
B) Significant
C) Needless
D) Superior

129) Fill in the blanks with the correct option:

The report concludes that _____ student has knowledge of Nuclear Physics.

A) either

B) neither

C) each

D) every

130) Fill in the blanks with the correct verb:

Footpaths _____ on the map as dotted lines.

A) are shown

B) shows

C) is showed

D) showing

131) Identify the error in the following sentence. The error, if any, will be in one part of the sentence, the number of that part is your answer. If there is no error, mark your answer as (D). (A) The road / (B) curve to (C) the left. / (D) No Error.

A) A

B) B

C) D

D) C

132) Choose the correct pronoun to complete the sentence:

I was surprised to see my brother; I had not expected _____.

A) her

B) him

C) it

D) them

133) Fill in the blanks with the correct option:

There is _____ paint in the container.

A) some

B) many

C) any

D) much

---

134) Identify the complex sentence among the following:

A) I have no advice that I can give you.

B) My friend was happy to see me.

C) I have finished my work already.

D) It has been raining since morning.

---

135) Choose the correct form of the verb in brackets:

The man (lean) against the wall.

A) had leant

B) has leant

C) was leaning

D) leant

---

136) Fill in the blanks with the correct option:

She replied _____ his letter.

A) to

B) by

C) for

D) with

137) Identify the error in the following sentence. The error, if any, will be in one part of the sentence, the number of that part is your answer. If there is no error, mark your answer as (D). (A) Some football players / (B) becomes like demigods / (C) to their fans. / (D) No Error.

A) B

B) D

C) A

D) C

138) Fill in the blanks with the correct option:
Bhima is ____ eminent cook and ____ tornado at war.

A) the, the

B) the, a

C) an, a

D) a, an

139) Fill in the blanks with the correct option:
My friends _____ a novel last night.

A) reading

B) readed

C) read

D) reads

140) Identify the complex sentence:

A) The wind has changed direction.

B) Computers have changed the way people work.

C) Her life changed completely when she won the lottery.

D) Fame hasn't really changed him.

141) Choose the Noun in the given sentence:

The patient had slipped into coma.

A) slipped

B) coma

C) into

D) had

142) Fill in the blanks with the correct verb:

She _____ it incumbent upon her to raise the subject at their meeting.

A) felt

B) feel

C) feeling

D) were feeling

143) Fill in the blanks with the correct verb:

When you run, each foot _____ the ground before the other comes down.

A) leave

B) leaves

C) have left

D) leaving

144) Identify the correct synonym of the underlined word:

I felt a jolt of dismay.

A) Disappointment

B) Detachment

C) Fulfillment

D) Excitement

145) Fill in the blanks with the correct option:

There is every _____ success.

A) chance for

B) chance up

C) chance in

D) chance by

146) Chose the word that is spelt correctly and fill the blanks:

Our _____ believes in strict discipline.

A) Principle

B) Principal

C) Prencipal

D) Peincipal

147) Choose the correct form of the verb in brackets:

I (come) by taxi this morning.

A) came

B) did come

C) would come

D) comes

148) Fill in the blanks with the correct option:

Mrs Bennet _____ her daughters greatly.

A) love

B) in love

C) loved

D) loving

149) Fill in the blanks with the correct option:

The merchant consented _____ the bargain.

A) in

B) on

C) by

D) with

---

150) Change the simple sentence into a complex sentence:

Only self-reliant people can succeed.

A) Those people who succeed unless rely upon their own efforts.

B) Those people rely upon their own efforts succeed.

C) Only if self-reliant people can succeed unless they rely upon their own efforts.

D) Only people who rely upon their own efforts can succeed.

---

151) Choose the correct meaning of the phrase / idiom underlined in the sentence:

I am told that the two brothers have fallen out.

A) helped each other

B) gone out of station

C) fallen out of a vehicle

D) quarrelled

---

152) Fill in the blanks with the correct option:

The lady and _____daughter go for a walk everyday

A) her

B) my

C) our

D) his

153) Fill in the blanks with the correct option:

The doctor advised me to eat_____ apples every morning.

A) any

B) much

C) many

D) some

154) Choose the correct option to fill in the blanks:

In spite of all their efforts, the mountaineers _____ not _____ the life of their colleague.

A) may, save

B) might, save

C) could, save

D) will, save

155) Fill in the blanks with the correct option:

This brother is short whereas _____ brother is tall.

A) that

B) this

C) these

D) those

156) Choose the correct option to complete the sentence:

The empire finally crumbled _____ dust.

A) in

B) into

C) underneath

D) below

157) Chose the word that is spelt correctly and fill the blanks:
We are _____ with your gossip.

A) bored
B) borred
C) boared
D) board

158) Identify the antonym of the underlined word:
Just to remain incognito the prince was dressed in a slovenly manner.

A) dapper
B) royal
C) decent
D) correct

159) Choose the correct option to complete the sentence:
Her face went pale as his words _____ home.

A) hit
B) let
C) put
D) cut

160) Identify the correct synonym:
Sole

A) Only
B) Many
C) Some
D) Few

161) Choose the correct form of the verb in brackets:

It (rain) when I left home this morning.

A) raining

B) rained

C) was raining

D) will rain

162) Fill in the blanks with the correct form of verb:

He _____ of acting undemocratically.

A) accuse

B) was accused

C) have accused

D) accusing

163) Fill in the blanks with the correct option:

The conclusions are based _____ extensive research.

A) with

B) on

C) by

D) in

164) Identify the antonym of the underlined word:

During the elocution competetion, she was too timid to create a positive impression.

A) soft

B) shy

C) bold

D) withdrawn

165) Identify the correct synonym:

Inept

A) Efficient

B) Apt

C) Unskillful

D) Sensible

166) Fill in the blanks with the correct option:

The bullet missed him _____ six inches.

A) by

B) in

C) to

D) for

167) Identify the correct synonym of the underlined word:

The child doesn't feel secure in the new school.

A) Anxious

B) Uneasy

C) Unsafe

D) Safe

168) Identify the antonym of the underlined word:

The boy hates out door exercises.

A) dislikes

B) loves

C) ignores

D) loathes

169) Choose the correct option to complete the sentence:

The load was lifted _____ a crane.

A) in case of

B) by means of

C) upon

D) through

170) Fill in the blanks with the corect option:

The couple _____ the whole night in the forest

A) has spend

B) spent

C) spending

D) spends

171) Identify the antonym of the underlined word:

The minister looked grave, when he heard of the riot in the city.

A) buoyant

B) glum

C) furious

D) serious

172) Identify the meaning of the underlined phrase/idiom:

He cut the long story short as he had no patience to describe.

A) in length

B) in detail

C) in particular

D) in brief

173) Choose the correct meaning of the phrase / idiom underlined in the sentence:
Nadir Shah carried fire and sword where ever he went.

A) battle

B) burnt down

C) conquered

D) destruction

174) Choose the correct option to fill in the blanks:
You will be surprised to learn that I _____ French since January.

A) have studied

B) had been studying

C) study

D) have been studying

175) Choose the Noun in the given sentence:
He took some keys out of his pocket.

A) took

B) out

C) keys

D) some

176) Chose the word that is spelt correctly and fill the blanks:
The disappearance of numerous ships and airplanes at the Bermuda Triangle is still considered to be one of the most _____ occurences.

A) preternatural

B) pretirnatural

C) preternatoral

D) praturnatural

177) Choose the correct option to complete the sentence:

The animal is hunted for its _____ .

A) ferociousness

B) food

C) fur

D) temper

178) Fill in the blanks with correct option:

My pet dog came and sat _____ me on the sofa.

A) beside

B) at

C) for

D) on

179) Complete the sentence with a relative pronoun:

I have lost the book _____ you gave me yesterday.

A) whose

B) what

C) who

D) which

180) Identify the error in the following sentence. The error, if any, will be in one part of the sentence, the number of that part is your answer. If there is no error, mark your answer as (D). (A) Her piano/ (B) playing have / (C) improved greatly. / (D) No Error.

A) C

B) D

C) B

D) A